تم تحميل وعرض المادة من :



موقع واجباتي

www.wajibati.net

GET IT ON Google Play

Download on the App Store



حمل التطبيق من هنا

المدرسة :.....		**المـــــادة :** رياضيات **الصـف :** الثالث **التاريخ :** / /١٤٤٧هـ

اختبار الفترة ٢- الفصل الدراسي الثاني لعام ١٤٤٧هـ

الاسـم :	**الدرجة المستحقة**	

ابدأ مستعن بالله في حل جميع الأسئلة التالية :

السؤال الأول : اختر الإجابة الصحيحة بوضع علامة (✓) أمام الاختيار الصحيح فيما يلي :

١ قَدِّرُ طُولَ ـِمَّا يَأْتِي، ثُمَّ أوجد قياسه مقرباً إِلَى أَقْرَبِ مِلِّيمِتْرٍ وَإِلَى أَقْرَبِ سِنْتِيمِتْرٍ .



أ	٣٠ ملم ≈ ٣ سم	ب	٤٠ ملم ≈ ٤ سم	ج	٢٠ ملم ≈ ٢ سم

٢ أَخْتَرُ أَفْضَلَ تَقْدِيرٍ: لِطُولُ قَلَمِ السَّبُّورَةِ.

أ	١٠ ملم	ب	١٠ سم	ج	٢سم

٣ أَيُّ الأَشْكَالِ الآتِيَةِ يُمَثِّلُ أُسْطُوانَة؟

أ	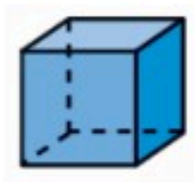	ب		ج	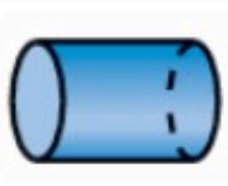

٤ أَخْتَارُ الوَحْدَةَ الأَنْسَبَ لِقِيَاسِ طُولُ نَمْلَةٍ:

أ	المِلِّيمِتْر	ب	المِتْر	ج	الكِيلُومِتْر

٥ اليومُ أَصْبَحَ مَعَ فَاطِمَةَ ٣٦ قَلَمًا، وَقَدْ كَانَ مَعَهَا أَمْسِ نِصْفُ هَذَا العَدَدِ زَائِدَ اثْنَيْنِ، فَكَمْ كَانَ مَعَهَا أَمْسِ؟

أ	١٦	ب	٢٠	ج	١٨

٦ أيُّ العباراتِ الآتيةِ تُعَرِّفُ المُحِيطَ تعريفًا صحيحًا؟

أ	هو طولُ الإطارِ الخارجيِّ للشكل.	ب	هو المساحةُ داخلَ الشكل.	ج	هو عددُ أضلاعِ الشكل.

٧ ما مُحِيطُ الشَّكْلِ المُظَلَّلِ؟

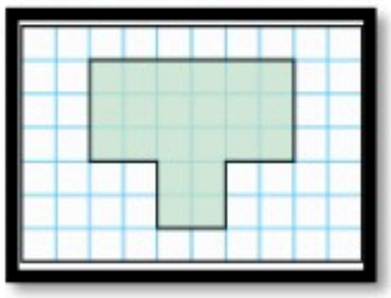

أ	٢٢ وحدة مربعة	ب	١٥ وحدة مربعة	ج	٢٠ وحدة مربعة

٨ ما مِسَاحَةُ الشَّكْلِ المُظَلَّلِ؟

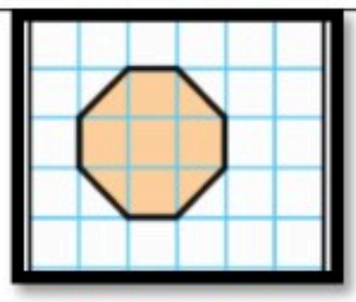

أ	٥ وَحَدَاتٍ مُرَبَّعَةٍ	ب	٦ وَحَدَاتٍ مُرَبَّعَةٍ	ج	٧ وَحَدَاتٍ مُرَبَّعَةٍ

٩ أيُّ المُجَسَّمَاتِ الآتِيَةِ حَجْمُهُ أَقَلُّ مِنْ ٧ وَحَدَاتٍ مُكَعَّبَةٍ؟

أ	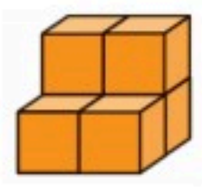	ب	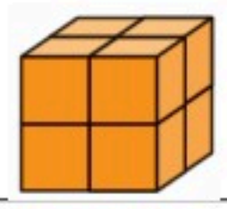	ج	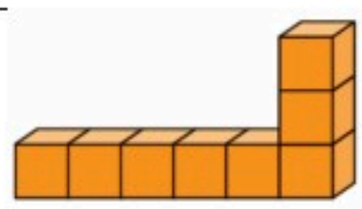

١٠	أَخْتَر الوَحْدَةَ الأَنْسَبَ لِقِيَاسِ سَعَةِ الكُوبِ المُجَاوِرِ. 						
	أ	١٠ مل	ب	١٠٠ مل	ج	٥ ل	
١١	تُوَضِّحُ السَّاعَتَانِ أَدْنَاهُ مَتَى بَدَأَ مُحَمَّدٌ تَرْتِيبَ غُرْفَتِهِ، وَمَتَى انْتَهَى مِنْ ذَلِكَ. كَمِ اسْتَغْرَقَ مِنَ الوَقْتِ فِي تَرْتِيبِ غُرْفَتِهِ؟ 						
	أ	سَاعَةً وَاحِدَةً	ب	سَاعَةً وَنِصْفًا	ج	سَاعَتَيْنِ وَنِصْفًا	
١٢	سَمِّي الشَّكْلَ المُسْتَوِيَّ الَّذِي لَهُ ٧ أَضْلَاعٍ وَ٧ زَوَايَا .						
	أ	خُماسي	ب	سُباعي	ج	سُداسي	
١٣	مُجَسَّمٌ له ٤ أَوْجُهٍ عَلَى شَكْلِ مُثَلَّثَاتٍ، وَوَجْهٌ عَلَى شَكْلِ مُرَبَّعٍ، وَلَدَيْه ٨ أَحْرُفٍ وَ٥ رُؤُوسٍ،						
	أ	مكعب	ب	هرم رباعي	ج	أسطوانة	

السؤال الثاني :

٢- ضع علامة (✓) أمام العبارة الصحيحة، وعلامة (✗) أمام العبارة الخاطئة:

١	المساحة هي عدد الوحدات المربعة اللازمة لتغطية شكل ما من غير تداخل.	
٢	المحيط هو طول الإطار الخارجي للشكل.	
٣	الطول هو قياس المسافة بين نقطتين.	
٤	السعة هي مقدار ما يمكن أن يحويه وعاء من سائل.	
٥	الكتلة هي مقدار ما يحويه الجسم من مادة.	
٦	الحجم هو عدد الوحدات المكعبة اللازمة لملء حيز يشغله جسم معين.	
٧	الحجم يقاس بالوحدات المكعبة.	
٨	من وحدات الطول: المليمتر والسنتيمتر والمتر والكيلومتر	
٩	المساحة تقاس بالوحدات المربعة	
١٠	من وحدات السعة: اللتر والمليلتر.	
١١	من وحدات الكتلة: الجرام والكيلوجرام, والكيلومتر	
١٢	المجسَّمُ له طولٌ وعرضٌ وارتفاعٌ	
١٣		

٣- أُكْمِلُ رَسْمَ الشَّكْلِ بِالتَّمَاثُلِ حَوْلَ مِحْوَرٍ مُسْتَعْمِلًا شَبَكَةَ الْمُرَبَّعَاتِ

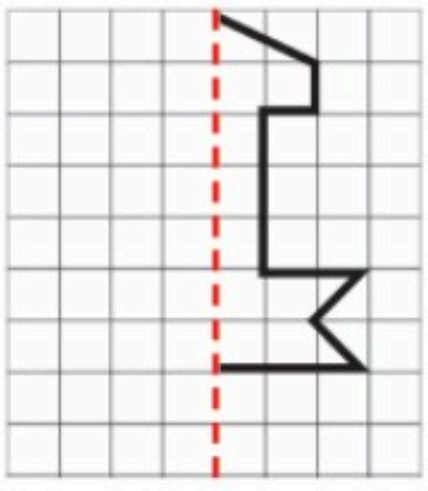

موقع واجباتي

انتهت الأسئلة وأسأل الله لكم التوفيق ,,,,,,,,,,,,,,,,,,,,

معلم /ة المادة :

نموذج الإجابة

المـــــادة : رياضيات
الصـف : الثالث
التاريخ : / /١٤٤٧هـ

١٤٤٧هـ

الاسـم : .....

الدرجة المستحقة	

ابدأ مستعن بالله في حل جميع الأسئلة التالية :

السؤال الأول : اختر الإجابة الصحيحة بوضع علامة (✓) أمام الاختيار الصحيح فيما يلي :

١ قَدِّرُ طُولَ مَّا يَأْتِي، ثُمَّ أوجد قياسه مقرباً إِلَى أَقْرَبِ مِلِّيمِتْرٍ وَإِلَى أَقْرَبِ سِنْتِيمِتْرٍ .



أ	٣٠ ملم ≈ ٣ سم	ب	٤٠ ملم ≈ ٤ سم	ج	٢٠ ملم ≈ ٢ سم

٢ أَخْتَارُ أَفْضَلَ تَقْدِيرٍ: لِطُولِ قَلَمِ السَّبُّورَةِ.

أ	١٠ ملم	ب	١٠ سم	ج	٢سم

٣ الوَثْبُ الطَّوِيلُ :يَبْقَى الرَّقَمُ العَالَمِيُّ فِي الوَثْبِ الطَّوِيلِ ثَابِتًا لِسَنَوَاتٍ عَدِيدَةٍ.
مَا التَّقْدِيرُ الأَفْضَلُ لِلْمَسَافَةِ الَّتِي وَثَبَهَا صَاحِبُ الرَّقْمِ العَالَمِيِّ: ٩ م أَم ٩ كِلْم؟



تقدير مناسب

أ	٩ م	ب	٩ كِلْم	ج	-

٤ أَخْتَارُ الوَحْدَةَ الأَنْسَبَ لِقِيَاسِ طُولِ نَمْلَةٍ:

أ	المِلِّيمِتْر	ب	المِتْر	ج	الكِيلُومِتْر

٥ اليومُ أَصْبَحَ مَعَ فَاطِمَةَ ٣٦ قَلَمًا، وَقَدْ كَانَ مَعَهَا أَمْسِ نِصْفُ هَذَا العَدَدِ زَائِدَ اثْنَيْنِ، فَكَمْ كَانَ مَعَهَا أَمْسِ؟

٣٦ ÷ ٢ = ١٨ ، + ٢ ، ١٨ + ٢ = ٢٠ قلماً

أ	١٦	ب	٢٠	ج	١٨

٦ أيُّ العباراتِ الآتيةِ تُعَرِّفُ المُحِيطَ تعريفًا صحيحًا؟

أ	هو طولُ الإطارِ الخارجيِّ للشكل.	ب	هو المساحةُ داخلَ الشكل.	ج	هو عددُ أضلاعِ الشكل.

٧ ما مُحِيطُ الشَّكْلِ المُظَلَّلِ؟

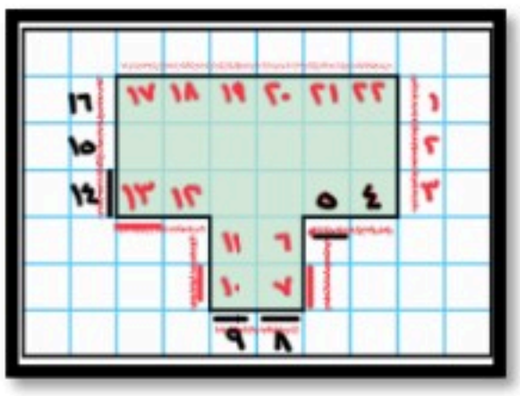

أ	٢٢ وحدة مربعة	ب	١٥ وحدة مربعة	ج	٢٠ وحدة مربعة

٨ ما مِسَاحَةُ الشَّكْلِ المُظَلَّلِ؟

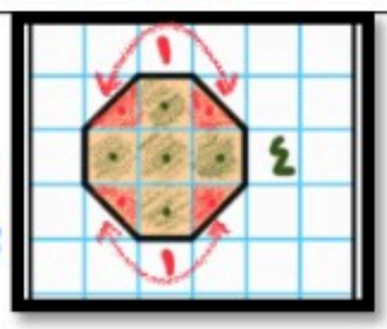

١+١+٤ = ٦

المساحة هي عدد الوحدات المربعة لتغطية الشكل دون تداخل

أ	٥ وَحَدَاتٍ مُرَبَّعَةٍ	ب	٦ وَحَدَاتٍ مُرَبَّعَةٍ	ج	٧ وَحَدَاتٍ مُرَبَّعَةٍ

٩	أيُّ المُجَسَّمَاتِ الآتِيَةِ حَجْمُهُ أَقَلُّ مِنْ ٧ وَحَدَاتٍ مُكَعَّبَةٍ؟					
	أ	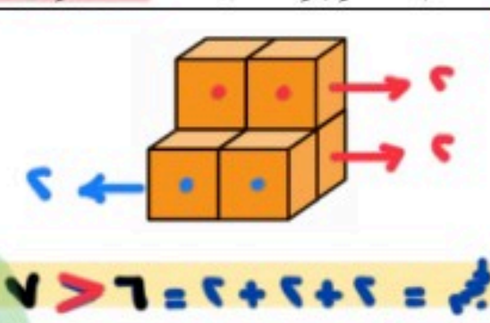 الحجم = ٢+٢+٢ = ٦ < ٧	ب	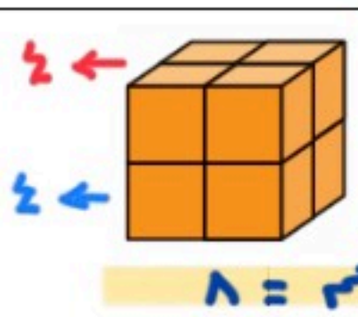 الحجم = ٨	ج	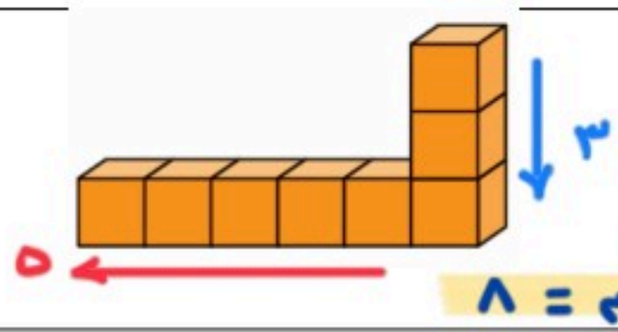 الحجم = ٨
١٠	أَخْتَرِ الوَحْدَةَ الأَنْسَبَ لِقِيَاسِ سَعَةِ الكُوبِ المُجَاوِرِ. 					
	أ	١٠ مل تقريباً 	ب	١٠٠ مل تقريباً	ج	٥ ل 
١١	تُوَضِّحُ السَّاعَتَانِ أَدْنَاهُ مَتَى بَدَأَ مُحَمَّدٌ تَرْتِيبَ غُرْفَتِهِ، وَمَتَى انْتَهَى مِنْ ذَلِكَ. كَمِ اسْتَغْرَقَ مِنَ الوَقْتِ فِي تَرْتِيبِ غُرْفَتِهِ؟ 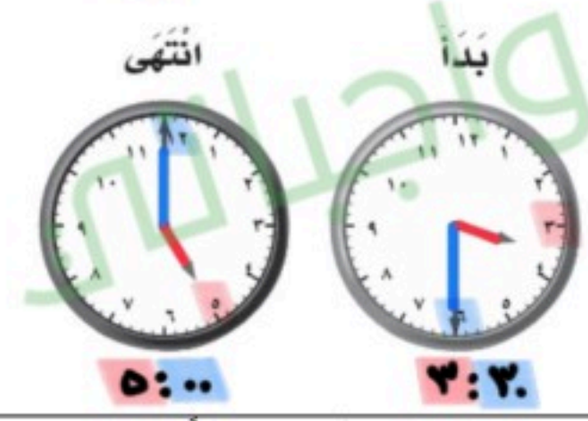					
	أ	سَاعَةٌ وَاحِدَةٌ	ب	سَاعَةٌ وَنِصْفًا	ج	سَاعَتَيْنِ وَنِصْفًا

السؤال الثاني :

٢- ضع علامة (✓) أمام العبارة الصحيحة، وعلامة (✗) أمام العبارة الخاطئة:

١	المساحة هي عدد الوحدات المربعة اللازمة لتغطية شكل ما من غير تداخل.	✓
٢	المحيط هو طول الإطار الخارجي للشكل.	✓
٣	الطول هو قياس المسافة بين نقطتين.	✓
٤	السعة هي مقدار ما يمكن أن يحويه وعاء من سائل.	✓
٥	الكتلة هي مقدار ما يحويه الجسم من مادة.	✓
٦	الحجم هو عدد الوحدات المكعبة اللازمة لملء حيز يشغله جسم معين.	✓
٧	الحجم يقاس بالوحدات المكعبة.	✓
٨	من وحدات الطول: المليمتر والسنتيمتر والمتر والكيلومتر	✓
٩	المساحة تقاس بالوحدات المربعة	✓
١٠	من وحدات السعة: اللتر والمليلتر.	✓
١١	من وحدات الكتلة: الجرام والكيلوجرام.	✓

موقع واجباتي

انتهت الأسئلة وأسأل الله لكم التوفيق ,,,

اختبار الفترة الثانية في مادة الرياضيات
للصف الثالث الابتدائي للفصل الدراسي الثاني
للعام الدراسي ١٤٤٧ هـ / ٢٠٢٦ م

اسم الطالب	
الصف	

٢٠

السؤال الأول اختر الإجابة الصحيحة من بين الإجابات المعطاة في كل مما يلي :- (درجة واحدة لكل فقرة)

١	أفضل تقدير لطول ملعقة الطعام		
أ	١٣ سم	ب	١٣ م
جـ	١٣ ملم	د	١٣ كلم
٢	محيط المثلث المجاور = ... سم 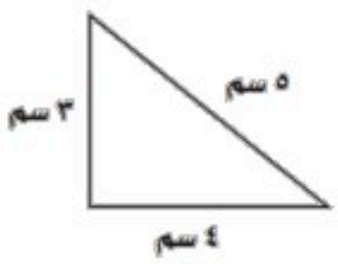		
أ	١٠ سم	ب	١١ سم
جـ	١٢ سم	د	١٤ سم
٣	مساحة الشكل المجاور = ... وحدات مربعة 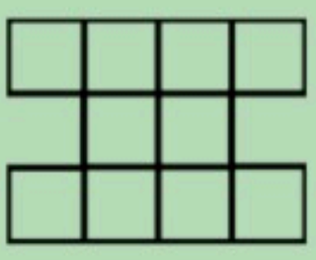		
أ	١٠ وحدات مربعة	ب	١٢ وحدة مربعة
جـ	١٥ وحدة مربعة	د	١٦ وحدة مربعة
٤	الزمن الذي تشير إليه الساعة المجاورة هو ..... 		
أ	٨:١٧	ب	٨:٣٧
جـ	٩:١٧	د	٩:٢٧

٥	حجم المجسم المجاور = ... وحدات مكعبة			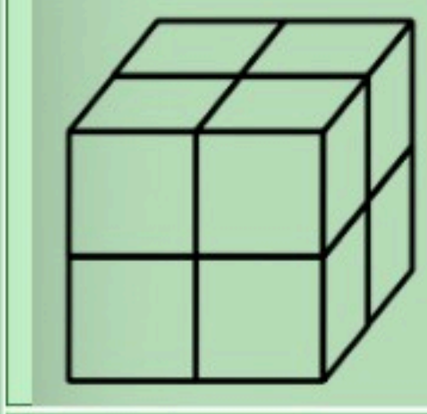
أ	٤	ب	٦	
جـ	٨	د	١٠	
٦	المجسم الذي يمكن تكوينه من ٤ مثلثات ومربع يسمى			
أ	المكعب	ب	الكرة	
جـ	المخروط	د	الهرم الرباعي	
٧	يتكرر في نمط مربع ودائرتان فما هو الشكل الخامس عشر في النمط ؟			
أ	مستطيل	ب	شبه منحرف	
جـ	مربع	د	دائرة	
٨	المضلع الذي عدد أضلاعه أقل من المضلع الرباعي هو			
أ	المربع	أ	السداسي	
جـ	الخماسي	جـ	المثلث	
٩	طريقة جمع البيانات عند طرح سؤال أو مجموعة أسئلة تسمى			
أ	التمثيل بالأعمدة	ب	لوحة الإشارات	
جـ	التمثيل بالرموز	د	المسح	
١٠	باستعمال التمثيل بالأعمدة المجاور ما هي المدينة الأكثر تفضيلًا ؟			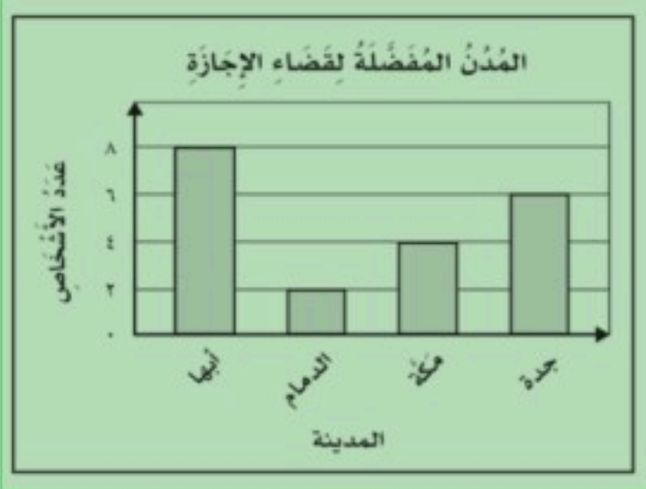
أ	جدة	ب	مكة	
جـ	الدمام	د	أبها	

موقع واجباتي

السؤال الثاني ١ – استخدم التمثيل بالرموز أدناه للإجابة عن الأسئلة المطلوبة :– (لكل فقرة درجة)

أ– في أي أسبوع كان عدد الطيور التي شوهدت أكبر ما يمكن ؟

.....

ب– ما عدد الطيور التي شوهدت خلال الأسابيع الأربعة ؟

.....

عَدَدُ الطُّيورِ الَّتِي شُوهِدَتْ	
الأُسبوعُ	عَدَدُ الطُّيورِ
١	🐦
٢	🐦🐦🐦🐦
٣	🐦🐦🐦
٤	🐦🐦🐦

مِفْتاحُ : 🐦 = ٣ طُيورٍ

٢ – يركض أحمد لمدة ساعة يوميًا ثم يستريح لمدة ساعة وأخيرًا يذاكر لمدة ساعتين فإذا أنهى أحمد المذاكرة الساعة السابعة مساءً ففي أي ساعة بدأ المذاكرة ؟

.....

السؤال الثالث ضع علامة (صح) أمام العبارة الصحيحة وعلامة (خطأ) أمام العبارة غير الصحيحة

(لكل فقرة درجة)

١	الزمن الذي تشير إليه ساعة العقارب المجاورة هو ١٠:٠٣ 	
٢	التقدير الأنسب لسعة زجاجة الدواء يكون باستخدام وحدة المليلتر	
٣	الشكل المجاور له محورا تماثل 	
٤	البيانات التي نحصل عليها من عملية جمع البيانات يمكن تمثيلها بلوحة إشارات	

السؤال الرابع أجب عن الأسئلة التالية (لكل فقرة نصف درجة)

١	اسم المجسم ..... عدد الرؤوس ..... عدد الأحرف ..... عدد الأوجه	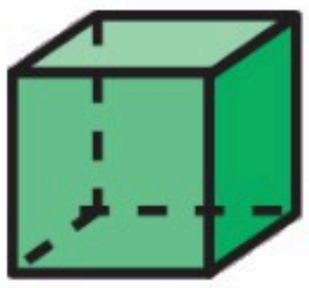
٢	اسم المضلع ..... عدد الأضلاع	

مع أطيب الأمنيات بالنجاح والتوفيق

نموذج الإجابة

نموذج الإجابة

ي مادة الرياضيات

فصل الدراسي الثاني

١٤ هـ / ٢٠٢٦ م

٢٠	

اسم الطالب	
الصف	

السؤال الأول اختر الإجابة الصحيحة من بين الإجابات المعطاة في كل مما يلي :- (درجة واحدة لكل فقرة)

١	أفضل تقدير لطول ملعقة الطعام			
أ	**١٣ سم**	ب	١٣ م	
جـ	١٣ ملم	د	١٣ كلم	
٢	محيط المثلث المجاور = ... سم			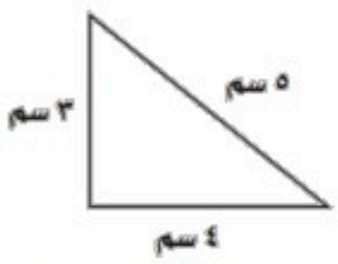
أ	١٠ سم	ب	١١ سم	
جـ	**١٢ سم**	د	١٤ سم	
٣	مساحة الشكل المجاور = ... وحدات مربعة			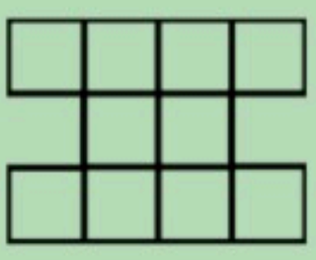
أ	**١٠ وحدات مربعة**	ب	١٢ وحدة مربعة	
جـ	١٥ وحدة مربعة	د	١٦ وحدة مربعة	
٤	الزمن الذي تشير إليه الساعة المجاورة هو			
أ	**٨:١٧**	ب	٨:٣٧	
جـ	٩:١٧	د	٩:٢٧	

٥	حجم المجسم المجاور = ... وحدات مكعبة		
	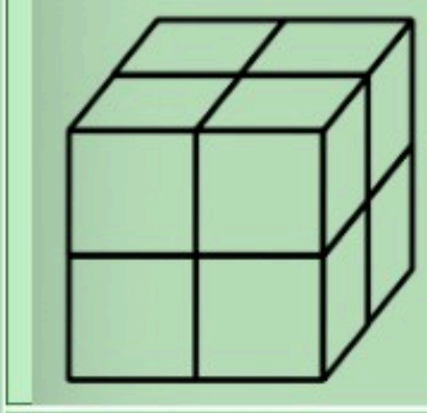		
أ	٤	ب	٦
جـ	٨	د	١٠
٦	المجسم الذي يمكن تكوينه من ٤ مثلثات ومربع يسمى		
أ	المكعب	ب	الكرة
جـ	المخروط	د	الهرم الرباعي
٧	يتكرر في نمط مربع ودائرتان فما هو الشكل الخامس عشر في النمط ؟		
أ	مستطيل	ب	شبه منحرف
جـ	مربع	د	دائرة
٨	المضلع الذي عدد أضلاعه أقل من المضلع الرباعي هو		
أ	المربع	أ	السداسي
جـ	الخماسي	جـ	المثلث
٩	طريقة جمع البيانات عند طرح سؤال أو مجموعة أسئلة تسمى		
أ	التمثيل بالأعمدة	ب	لوحة الإشارات
جـ	التمثيل بالرموز	د	المسح
١٠	باستعمال التمثيل بالأعمدة المجاور ما هي المدينة الأكثر تفضيلًا ؟		
	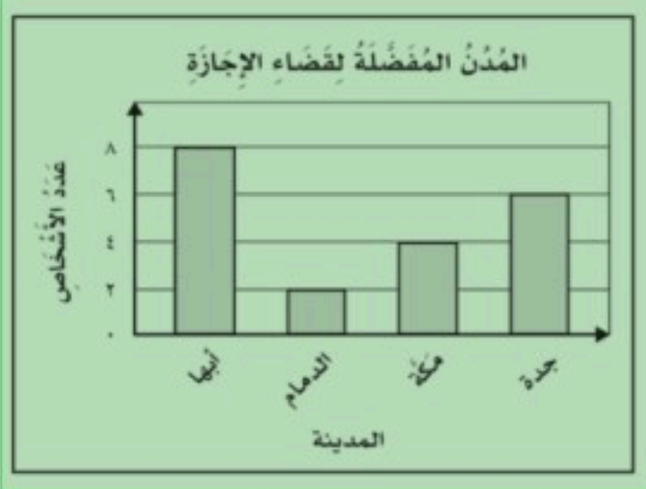		
أ	جدة	ب	مكة
جـ	الدمام	د	أبها

موقع واجباتي

السؤال الثاني ١ – استخدم التمثيل بالرموز أدناه للإجابة عن الأسئلة المطلوبة :- (لكل فقرة درجة)

أ- في أي أسبوع كان عدد الطيور التي شوهدت أكبر ما يمكن ؟

الأسبوع الثاني

ب- ما عدد الطيور التي شوهدت خلال الأسابيع الأربعة ؟

٣٣ طائر

عَدَدُ الطُّيورِ الَّتِي شُوهِدَتْ	
الأُسبوعُ	عَدَدُ الطُّيورِ
١	🐦
٢	🐦🐦🐦🐦
٣	🐦🐦🐦
٤	🐦🐦🐦

مِفْتاحُ : 🐦 = ٣ طُيورٍ

٢ – يركض أحمد لمدة ساعة يوميًا ثم يستريح لمدة ساعة وأخيرًا يذاكر لمدة ساعتين فإذا أنهى أحمد المذاكرة الساعة السابعة مساءً ففي أي ساعة بدأ المذاكرة ؟

الساعة الثالثة مساءً

السؤال الثالث ضع علامة (صح) أمام العبارة الصحيحة وعلامة (خطأ) أمام العبارة غير الصحيحة (لكل فقرة درجة)

١	الزمن الذي تشير إليه ساعة العقارب المجاورة هو ١٠:٠٣ 	خطأ
٢	التقدير الأنسب لسعة زجاجة الدواء يكون باستخدام وحدة المليلتر	صح
٣	الشكل المجاور له محورا تماثل 	صح
٤	البيانات التي نحصل عليها من عملية جمع البيانات يمكن تمثيلها بلوحة إشارات	صح

السؤال الرابع أجب عن الأسئلة التالية (لكل فقرة نصف درجة)

١	اسم المجسم المكعب عدد الرؤوس ٨ عدد الأحرف ١٢ عدد الأوجه ٦	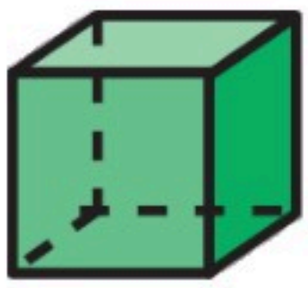
٢	اسم المضلع خماسي عدد الأضلاع ٥	

مع أطيب الأمنيات بالنجاح والتوفيق

مجموع الدرجات
٢٠

التاريخ : ..... / ..... / ... ١٤٤هـ
المادة : رياضيات
الزمن : ٤٥ دقيقة

مدرسة .....

اختبار مادة الرياضيات للصف الثالث الابتدائي (الفترة ٢ - الفصل الدراسي الثاني ١٤٤٧هـ)

اسم الطالب	.....	الصف	ثالث / .....

❖ السؤال ١	اختر الإجابة الصحيحة :		٥

١	الوحدة الأنسب لقياس طول (سيارة) :					
أ	السنتمتر (سم)	ب	المتر (م)	ج	الكيلومتر (كلم)	

٢	الوحدة الأنسب لقياس سعة (ملعقة) :					
أ	الملليتر (مل)	ب	المتر (م)	ج	اللتر (ل)	

٣	مجسّم له وجهان :					
أ	المكعّب	ب	المخروط	ج	الأسطوانة	

٤	مجسّم ليس له أوجه ، ولا أحرف ، ولا رؤوس :					
أ	الكرة	ب	الهرم	ج	متوازي المستطيلات	

٥	مضلّع له ٦ أضلاع و ٦ زوايا :					
أ	خماسي الأضلاع	ب	سداسي الأضلاع	ج	رباعي الأضلاع	

❖ السؤال ٢		٥

	ضع علامة (✓) أمام العبارة الصحيحة ، وعلامة (✗) أمام العبارة الخطأ :	الإجابة
١	يستعمل المتر (م) والكيلومتر (كلم) لقياس الأطوال والمسافات الكبيرة .	
٢	المجسّم له طول وعرض وارتفاع.	
٣	يقاس الحجم بالوحدات المربعة.	
٤	المحيط هو طول الإطار الخارجي لشكل.	
٥	الشكل المستوي هو شكل ثنائي الأبعاد له طول وعرض.	

اقلب الورقة

معلمة المادة : .....

قناة مرح الرياضيات TELEGRAM
https://t.me/math_marah

❖ السؤال ٣

١٠

أ أوجد محيط الشكل الآتي :

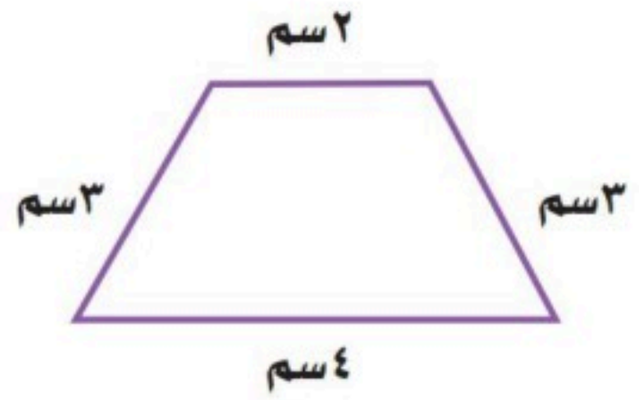

.....

ب أوجد مساحة الشكل الآتي :

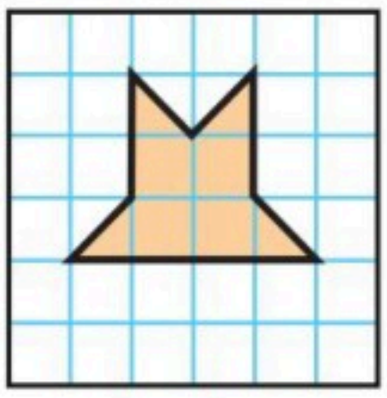

.....

جـ أوجد حجم المجسّم الآتي :



.....

د أكتب الزمن الذي تشير إليه الساعة الرقمية:



.....

هـ أسمي المجسّمات الآتية :

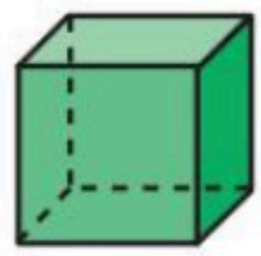

.....

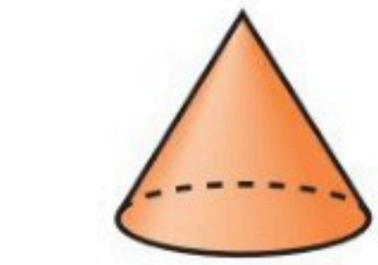

.....



.....

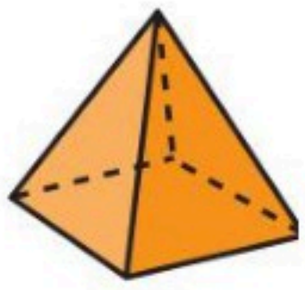

.....

و أسمي الأشكال الآتية :

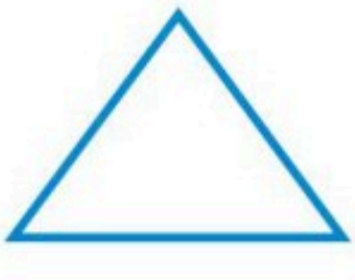

.....

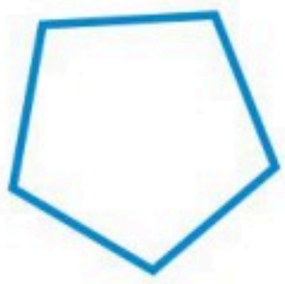

.....

معلمة المادة : .....

قناة مرح الرياضيات TELEGRAM
https://t.me/math_marah

نموذج الإجابة

مجموع الدرجات
٢٠

التاريخ : ..... / ..... / ... ١٤٤هـ
المادة : رياضيات
الزمن : ٤٥ دقيقة

اختبار مادة الرياضيات للصف الثالث الابتدائي (الفترة ٢ - الفصل الدراسي الثاني ١٤٤٧هـ)

اسم الطالب	.....	الصف	ثالث / .....

❖ السؤال ١ | | ٥ | اختر الإجابة الصحيحة :

١	الوحدة الأنسب لقياس طول (سيارة) :						
أ	السنتمتر (سم)	ب	المتر (م)	ج	الكيلومتر (كلم)		
٢	الوحدة الأنسب لقياس سعة (ملعقة) :						
أ	الملليتر (مل)	ب	المتر (م)	ج	اللتر (ل)		
٣	مجسّم له وجهان :						
أ	المكعّب	ب	المخروط	ج	الأسطوانة		
٤	مجسّم ليس له أوجه ، ولا أحرف ، ولا رؤوس :						
أ	الكرة	ب	الهرم	ج	متوازي المستطيلات		
٥	مضلّع له ٦ أضلاع و ٦ زوايا :						
أ	خماسي الأضلاع	ب	سداسي الأضلاع	ج	رباعي الأضلاع		

❖ السؤال ٢ | | ٥

	ضع علامة (✓) أمام العبارة الصحيحة ، وعلامة (✗) أمام العبارة الخطأ :	الإجابة
١	يستعمل المتر (م) والكيلومتر (كلم) لقياس الأطوال والمسافات الكبيرة .	✓
٢	المجسّم له طول وعرض وارتفاع.	✓
٣	يقاس الحجم بالوحدات المربعة.	✗
٤	المحيط هو طول الإطار الخارجي لشكل.	✓
٥	الشكل المستوي هو شكل ثنائي الأبعاد له طول وعرض.	✓

اقلب الورقة

معلمة المادة : .....

قناة مرح الرياضيات TELEGRAM
https://t.me/math_marah

❖ السؤال ٣

	١٠

أ	أوجد محيط الشكل الآتي :

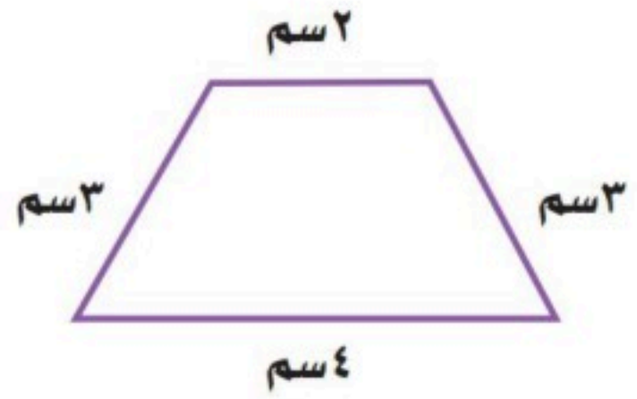

مح = ٢ + ٣ + ٣ + ٤ = ١٢ سم

ب	أوجد مساحة الشكل الآتي :

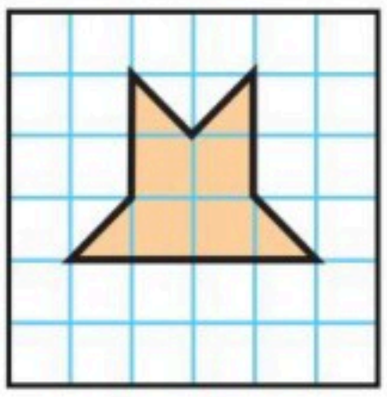

المساحة = ٦ وحدات مربعة

جـ	أوجد حجم المجسّم الآتي :



الحجم = ١٤ وحدة مكعبة

د	أكتب الزمن الذي تشير إليه الساعة الرقمية:



الخامسة وأربعة عشر دقيقة

هـ	أسمي المجسّمات الآتية :

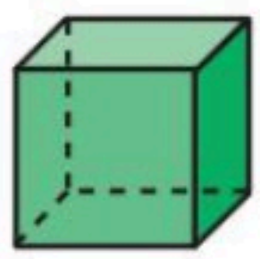

مكعّب



مخروط



كرة

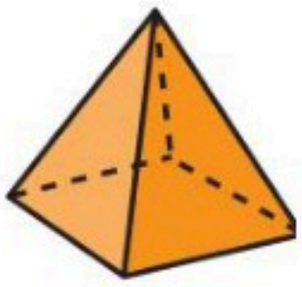

هرم

و	أسمي الأشكال الآتية :

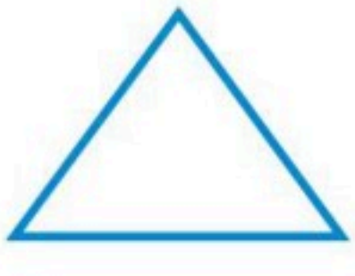

مثلث

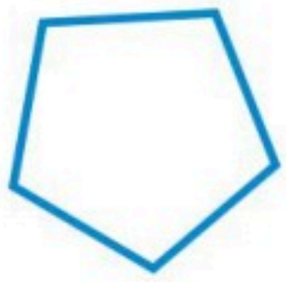

شكل خماسي

معلمة المادة : .....

قناة مرح الرياضيات TELEGRAM
https://t.me/math_marah

	بسم الله الرحمن الرحيم	
المملكة العربية السعودية		المادة: رياضيات
		الصف: الثالث
إدارة التعليم بمنطقة :		الدرجة ٢٠

اختبار الفترة الثانية للفصل الدراسي الثاني ١٤٤٧ هـ

اسم الطالب:	**الصف:** .....

السؤال الأول : ضع علامة (√) أمام العبارة الصحيحة و علامة (×) أمام العبارة الخاطئة (درجه لكل سؤال)

أ	يقاس طول باب الفصل بالملمتر	
ب	المحيط هو الإطار الخارجي لشكل	
جـ	المساحة هي عدد الوحدات المربعة اللازمة لتغطية شكل ما من غير تداخل	
د	السعة هي مقدار ما يمكن أن يحويه وعاء من سائل	
هـ	يقاس الحجم بالوحدات المكعبة	

السؤال الثاني : اختر الإجابة الصحيحة (درجه ونصف لكل سؤال)

	الوحدة الأنسب لقياس المسافة بين الرياض و الدمام							
أ	ملمتر	ب	متر	جـ	كيلو متر			
	مربع طول ضلعه ٤ سم فما محيطه ؟							
أ	٤ سم	ب	٨ سم	جـ	١٦ سم			
	الوحدة الأنسب لقياس سعة كوب شاى							
أ	ملمتر	ب	لتر	جـ	مللتر			
	اختر الوحدة الأنسب لقياس كتلة حبة فراولة :							
أ	سم	ب	كيلو جرام	جـ	جرام			

حدد اسم المجسم المجاور :

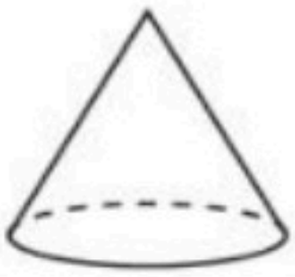

أ	مكعب	ب	اسطوانة	ج	مخروط	د	هرم

ما الزمن الذي تشير إليه ساعة العقارب المجاورة :



أ	تسع وثلاث دقائق	ب	تسع وخمسة عشر دقيقة	ج	ثلاث وتسع دقائق	د	عشر وثلاث دقائق

السؤال الثالث : صنف الاشكال التالية حسب عدد الأضلاع و الزوايا و اكتب اسمه (درجه لكل فقره)

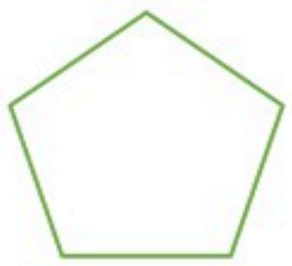

الأضلاع : .....

الزوايا .....

الأسم .....

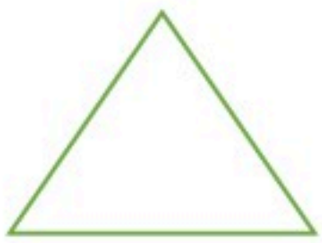

الأضلاع : .....

الزوايا . .....

الأسم : .....

موقع واجباتي

	بسم الله الرحمن الرحيم	
المادة: رياضيات	**نموذج الإجابة**	
الصف: الثالث		
الدرجة ٢٠		

اختبار الفترة الثانية للفصل الدراسي الثاني ١٤٤٧ هـ

اسم الطالب:	**الصف:** .....

السؤال الأول : ضع علامة (√) أمام العبارة الصحيحة و علامة (×) أمام العبارة الخاطئة (درجه لكل سؤال)		
أ	يقاس طول باب الفصل بالملمتر	×
ب	المحيط هو الإطار الخارجي لشكل	√
جـ	المساحة هي عدد الوحدات المربعة اللازمة لتغطية شكل ما من غير تداخل	√
د	السعة هي مقدار ما يمكن أن يحويه وعاء من سائل	√
هـ	يقاس الحجم بالوحدات المكعبة	√

السؤال الثاني : اختر الإجابة الصحيحة (درجه ونصف لكل سؤال)

الوحدة الأنسب لقياس المسافة بين الرياض و الدمام

أ ملمتر ب متر جـ كيلو متر

مربع طول ضلعه ٤ سم فما محيطه ؟

أ ٤ سم ب ٨ سم جـ ١٦ سم

الوحدة الأنسب لقياس سعة كوب شاي

أ ملمتر ب لتر جـ مللتر

اختر الوحدة الأنسب لقياس كتلة حبة فراولة :

أ سم ب كيلو جرام جـ جرام

حدد اسم المجسم المجاور :

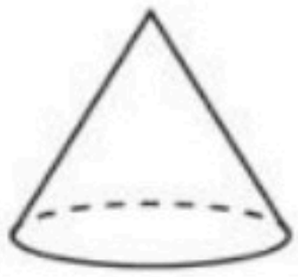

أ مكعب ب اسطوانة ج مخروط د هرم

ما الزمن الذي تشير إليه ساعة العقارب المجاورة :



أ تسع وثلاث دقائق ب تسع وخمسة عشر دقيقة ج ثلاث وتسع دقائق د عشر وثلاث دقائق

السؤال الثالث : صنف الاشكال التالية حسب عدد الأضلاع و الزوايا و اكتب اسمه (درجه لكل فقره)

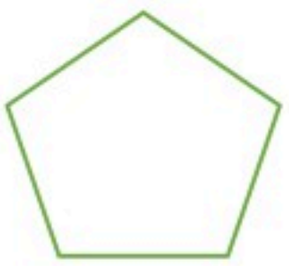

الأضلاع : .....٥.....

الزوايا .....٥.....

الأسم .....خماسي

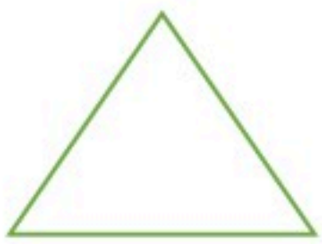

الأضلاع : .....٣.....

الزوايا . .....٣.....

الأسم : .....مثلث.....

موقع واجباتي

		المـــــادة : رياضيات **الصـف :** الثالث **التاريخ :** / /١٤٤٧هـ

اختبار الفصل ٨ من الفصل الدراسي الثاني لعام ١٤٤٧هـ

الاسـم :	**الدرجة المستحقة**	

ابدأ مستعن بالله في حل جميع الأسئلة التالية :

السؤال الأول : اختر الإجابة الصحيحة بوضع علامة (✓) أمام الاختيار الصحيح فيما يلي :

١ قَدِّرُ طُولَ ـمَّا يَأتِي، ثُمَّ أوجد قياسه مقرباً إِلَى أَقرَبِ مِلِّيمِتْرٍ وَإِلَى أَقرَبِ سِنْتِيمِتْرٍ .



أ	٣٠ ملم ≈ ٣ سم	ب	٤٠ ملم ≈ ٤ سم	ج	٢٠ ملم ≈ ٢ سم

٢ أَخْتَرُ أَفضَلَ تَقْدِيرٍ: لطُولُ قَلَمِ السَّبُّورَةِ.

أ	١٠ ملم	ب	١٠ سم	ج	٢سم

٣ الوَثْبُ الطَّوِيلُ :يَبْقَى الرَّقَمُ العَالَمِيُّ فِي الوَثْبِ الطَّوِيلِ ثَابِتًا لِسَنَوَاتٍ عَدِيدَةٍ.
مَا التَّقْدِيرُ الأَفْضَلُ لِلْمَسَافَةِ الَّتِي وَثَبَهَا صَاحِبُ الرَّقْمِ العَالَمِيِّ: ٩ م أَم ٩ كِلْم؟



أ	٩ م	ب	٩ كِلْم	ج	-

٤ أَخْتَارُ الوَحْدَةَ الأَنْسَبَ لِقِيَاسِ طُولُ نَمْلَةٍ:

أ	المِلِّيمِتْر	ب	المِتْر	ج	الكِيلُومِتْر

٥ اليومُ أَصْبَحَ مَعَ فَاطِمَةَ ٣٦ قَلَمًا، وَقَدْ كَانَ مَعَهَا أَمْسِ نِصْفُ هَذَا العَدَدِ زَائِدَ اثْنَيْنِ، فَكَمْ كَانَ مَعَهَا أَمْسِ؟

أ	١٦	ب	٢٠	ج	١٨

٦ أيُّ العباراتِ الآتيةِ تُعَرِّفُ المُحِيطَ تعريفًا صحيحًا؟

أ	هو طولُ الإطارِ الخارجيِّ للشكل.	ب	هو المساحةُ داخلَ الشكل.	ج	هو عددُ أضلاعِ الشكل.

٧ ما مُحِيطُ الشَّكْلِ المُظَلَّلِ؟

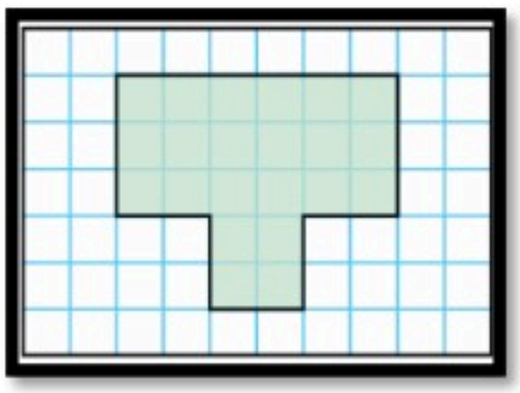

أ	٢٢ وحدة مربعة	ب	١٥ وحدة مربعة	ج	٢٠ وحدة مربعة

٨ ما مِسَاحَةُ الشَّكْلِ المُظَلَّلِ؟

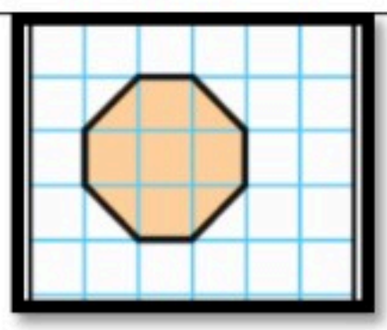

أ	٥ وَحَدَاتٍ مُرَبَّعَةٍ	ب	٦ وَحَدَاتٍ مُرَبَّعَةٍ	ج	٧ وَحَدَاتٍ مُرَبَّعَةٍ

٩	أَيُّ المُجَسَّمَاتِ الآتِيَةِ حَجْمُهُ أَقَلُّ مِنْ ٧ وَحَدَاتٍ مُكَعَّبَةٍ؟						
	أ	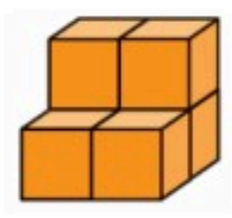	ب	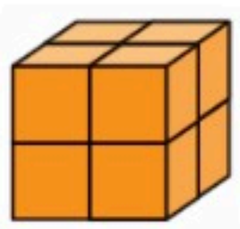	ج	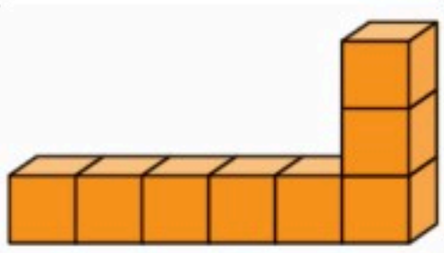	
١٠	أَخْتَرِ الوَحْدَةَ الأَنْسَبَ لِقِيَاسِ سَعَةِ الكُوبِ المُجَاوِرِ. 						
	أ	١٠ مل	ب	١٠٠ مل	ج	٥ ل	
١١	تُوَضِّحُ السَّاعَتَانِ أَدْنَاهُ مَتَى بَدَأَ مُحَمَّدٌ تَرْتِيبَ غُرْفَتِهِ، وَمَتَى انْتَهَى مِنْ ذَلِكَ. كَمِ اسْتَغْرَقَ مِنَ الوَقْتِ فِي تَرْتِيبِ غُرْفَتِهِ؟ 						
	أ	سَاعَةً وَاحِدَةً	ب	سَاعَةً وَنِصْفًا	ج	سَاعَتَيْنِ وَنِصْفًا	

السؤال الثاني :

٢- ضع علامة (✓) أمام العبارة الصحيحة، وعلامة (✗) أمام العبارة الخاطئة:

١	المساحة هي عدد الوحدات المربعة اللازمة لتغطية شكل ما من غير تداخل.	
٢	المحيط هو طول الإطار الخارجي للشكل.	
٣	الطول هو قياس المسافة بين نقطتين.	
٤	السعة هي مقدار ما يمكن أن يحويه وعاء من سائل.	
٥	الكتلة هي مقدار ما يحويه الجسم من مادة.	
٦	الحجم هو عدد الوحدات المكعبة اللازمة لملء حيز يشغله جسم معين.	
٧	الحجم يقاس بالوحدات المكعبة.	
٨	من وحدات الطول: المليمتر والسنتيمتر والمتر والكيلومتر	
٩	المساحة تقاس بالوحدات المربعة	
١٠	من وحدات السعة: اللتر والمليلتر.	
١١	من وحدات الكتلة: الجرام والكيلوجرام.	

موقع واجباتي

انتهت الأسئلة وأسأل الله لكم التوفيق ,,,,,,,,,,,,,,,,,,,,,,

معلم /ة المادة :

نموذج الإجابة

المـــــادة : رياضيات
الصـف : الثالث
التاريخ : / /١٤٤٧هـ

اختبار الفصل ٨ من الفصل الدراسي الثاني لعام ١٤٤٧هـ

الاسـم : .....

الدرجة المستحقة

ابدأ مستعن بالله في حل جميع الأسئلة التالية :

السؤال الأول : اختر الإجابة الصحيحة بوضع علامة (✓) أمام الاختيار الصحيح فيما يلي :

١ قَدِّرُ طُولَ ـمَّا يَأْتِي، ثُمَّ أوجد قياسه مقرباً إِلَى أَقْرَبِ مِلِّيمِتْرٍ وَإِلَى أَقْرَبِ سِنْتِيمِتْرٍ .



أ	٣٠ ملم ≈ ٣ سم	ب	٤٠ ملم ≈ ٤ سم	ج	٢٠ ملم ≈ ٢ سم		

٢ أَخْتَرُ أَفْضَلَ تَقْدِيرٍ: لِطُولُ قَلَمِ السَّبُّورَةِ.

أ	١٠ ملم	ب	١٠ سم	ج	٢سم		

٣ الوَثْبُ الطَّوِيلُ :يَبْقَى الرَّقَمُ العَالَمِيُّ فِي الوَثْبِ الطَّوِيلِ ثَابِتًا لِسَنَوَاتٍ عَدِيدَةٍ.
مَا التَّقْدِيرُ الأَفْضَلُ لِلْمَسَافَةِ الَّتِي وَثَبَهَا صَاحِبُ الرَّقْمِ العَالَمِيِّ: ٩ م أَم ٩ كِلْم؟



أ	٩ م	ب	٩ كِلْم	ج	-		

٤ أَخْتَارُ الوَحْدَةَ الأَنْسَبَ لِقِيَاسِ طُولُ نَمْلَةٍ:

أ	المِلِّيمِتْر	ب	المِتْر	ج	الكِيلُومِتْر		

٥ اليومُ أَصْبَحَ مَعَ فَاطِمَةَ ٣٦ قَلَمًا، وَقَدْ كَانَ مَعَهَا أَمْسِ نِصْفُ هَذَا العَدَدِ زَائِدَ اثْنَيْنِ، فَكَمْ كَانَ مَعَهَا أَمْسِ؟

أ	١٦	ب	٢٠	ج	١٨		

٦ أيُّ العباراتِ الآتيةِ تُعَرِّفُ المُحِيطَ تعريفًا صحيحًا؟

أ	هو طولُ الإطارِ الخارجيِّ للشكل.	ب	هو المساحة داخلَ الشكل.	ج	هو عددُ أضلاعِ الشكل.		

٧ ما مُحِيطُ الشَّكْلِ المُظَلَّلِ؟

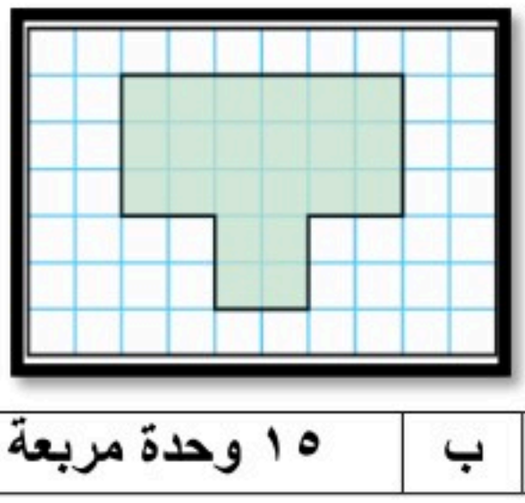

أ	٢٢ وحدة مربعة	ب	١٥ وحدة مربعة	ج	٢٠ وحدة مربعة		

٨ ما مِسَاحَةُ الشَّكْلِ المُظَلَّلِ؟

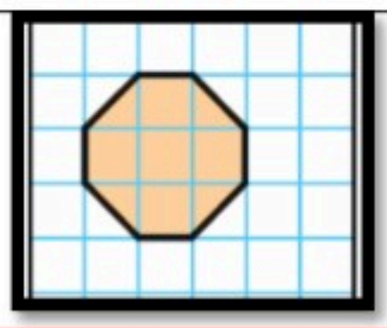

أ	٥ وَحَدَاتٍ مُرَبَّعَةٍ	ب	٦ وَحَدَاتٍ مُرَبَّعَةٍ	ج	٧ وَحَدَاتٍ مُرَبَّعَةٍ		

موقع واجباتك

٩	أَيُّ المُجَسَّمَاتِ الآتِيَةِ حَجْمُهُ أَقَلُّ مِنْ ٧ وَحَدَاتٍ مُكَعَّبَةٍ؟						
	أ	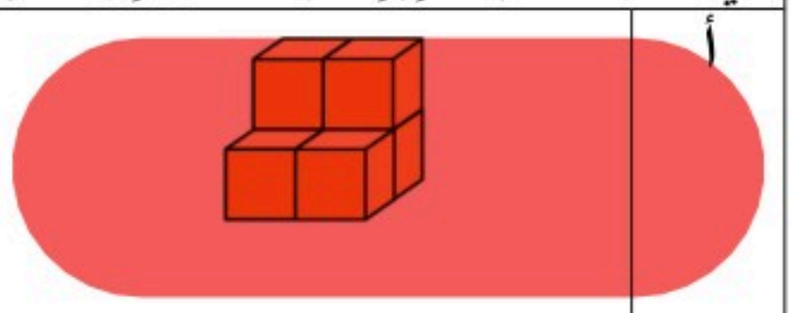	ب		ج	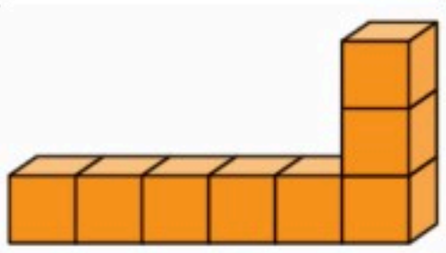	
١٠	أَخْتَرِ الوَحْدَةَ الأَنْسَبَ لِقِيَاسِ سَعَةِ الكُوبِ المُجَاوِرِ. 						
	أ	١٠ مل	ب	١٠٠ مل	ج	٥ ل	
١١	تُوَضِّحُ السَّاعَتَانِ أَدْنَاهُ مَتَى بَدَأَ مُحَمَّدٌ تَرْتِيبَ غُرْفَتِهِ، وَمَتَى انْتَهَى مِنْ ذَلِكَ. كَمِ اسْتَغْرَقَ مِنَ الوَقْتِ فِي تَرْتِيبِ غُرْفَتِهِ؟ 						
	أ	سَاعَةً وَاحِدَةً	ب	سَاعَةً وَنِصْفًا	ج	سَاعَتَيْنِ وَنِصْفًا	

السؤال الثاني :

٢- ضع علامة (✓) أمام العبارة الصحيحة، وعلامة (✗) أمام العبارة الخاطئة:

١	المساحة هي عدد الوحدات المربعة اللازمة لتغطية شكل ما من غير تداخل.	✔
٢	المحيط هو طول الإطار الخارجي للشكل.	✔
٣	الطول هو قياس المسافة بين نقطتين.	✔
٤	السعة هي مقدار ما يمكن أن يحويه وعاء من سائل.	✔
٥	الكتلة هي مقدار ما يحويه الجسم من مادة.	✔
٦	الحجم هو عدد الوحدات المكعبة اللازمة لملء حيز يشغله جسم معين.	✔
٧	الحجم يقاس بالوحدات المكعبة.	✔
٨	من وحدات الطول: المليمتر والسنتيمتر والمتر والكيلومتر	✔
٩	المساحة تقاس بالوحدات المربعة	✔
١٠	من وحدات السعة: اللتر والمليلتر.	✔
١١	من وحدات الكتلة: الجرام والكيلوجرام.	✔

موقع واجباتي

انتهت الأسئلة وأسأل الله لكم التوفيق ,,,

	اختبار (الفترة ٢) للصف الثالث الابتدائي مادة الرياضيات الفصل الدراسي الثاني ١٤٤٧هـ	اسم الطالبة: ..... الصـــف: ..... التـــاريخ: ..... الزمـــن: ..... الدرجة: ١٠

السؤال الأول: اختاري الإجابة الصحيحة فيما يلي: **(٦ درجات)**

١. أُنْظُري إلى الصورة التالية، ثم حددي كم يبلغ قياس قلم الرصاص:

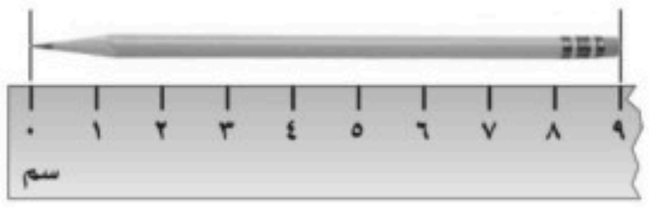

أ ٩ سم ب ٨ سم جـ ٧ سم د ٥ سم

٢. محيط المستطيل التالي يساوي:

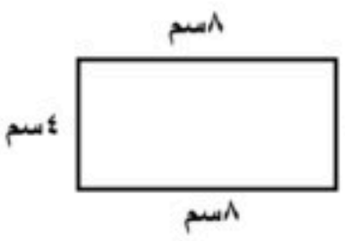

أ ٢٤ سم ب ٢٢ سم جـ ٢٠ سم د ١٨ سم

٣. ما مساحة الجزء المظلل من الشكل المجاور:

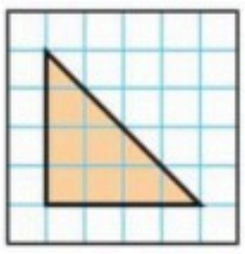

أ ٦ وحدات مربعة ب ٨ وحدات مربعة جـ ١٠ وحدات مربعة د ١٢ وحدة مربعة

٤. اختاري الوحدة الأنسب لقياس زجاجة دواء:



أ اللتر ب الملليتر جـ المتر د الكيلوجرام

٥. اختاري التقدير الأنسب لكتلة السيارة:



أ ٩٠٠ جم ب ٩٠٠ لتر جـ ٩٠٠ كجم د ٩٠٠ متر

٦. أوجدي حجم المجسم الآتي مستعملة المكعبات:

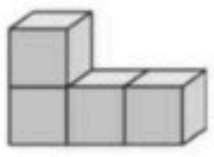

أ ٦ وحدات مكعبة ب ٥ وحدات مكعبة جـ ٤ وحدات مكعبة د ٣ وحدات مكعبة

السؤال الثاني: ضعي علامة (✓) أمام العبارة الصحيحة، وعلامة (✗) أمام العبارة غير الصحيحة: **(٤ درجات)**

١. الزمن الذي تُشير إليه الساعة الرقمية هو "الثامنة والنصف".



( )

٢. ١ كيلوجرام (كجم) = ١٠ جرام (جم). ( )

٣. ١ لتر (ل) = ١٠٠٠ مللتر (مل). ( )

٤. تحتوي ساعة العقارب على عقرب للساعات فقط. ( )

انتهت الأسئلة،،،،،بالتوفيق للجميع

معلمة المادة:

موقع واجباتي

نموذج الإجابة

اسم الطالبة:	ائي.
الصـــف:	
التـــاريخ:	الفصل الدراسي الثاني ١٤٤٧هـ
الزمـــن:	
الدرجة: ١٠	

السؤال الأول: اختاري الإجابة الصحيحة فيما يلي: **(٦ درجات)**

١. أُنْظُري إلى الصورة التالية، ثم حددي كم يبلغ قياس قلم الرصاص:

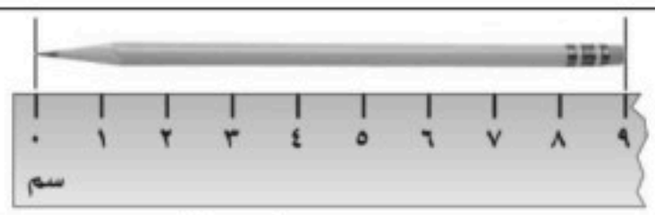

أ	٩ سم	ب	٨ سم	جـ	٧ سم	د	٥ سم

٢. محيط المستطيل التالي يساوي:

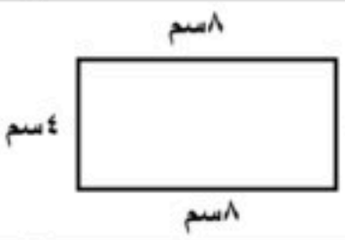

أ	٢٤ سم	ب	٢٢ سم	جـ	٢٠ سم	د	١٨ سم

٣. ما مساحة الجزء المظلل من الشكل المجاور:

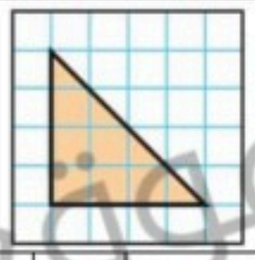

أ	٦ وحدات مربعة	ب	٨ وحدات مربعة	جـ	١٠ وحدات مربعة	د	١٢ وحدة مربعة

٤. اختاري الوحدة الأنسب لقياس زجاجة دواء:



أ	اللتر	ب	الملليتر	جـ	المتر	د	الكيلوجرام

٥. اختاري التقدير الأنسب لكتلة السيارة:



أ	٩٠٠ جم	ب	٩٠٠ لتر	جـ	٩٠٠ كجم	د	٩٠٠ متر

٦. أوجدي حجم المجسم الآتي مستعملة المكعبات:



أ	٦ وحدات مكعبة	ب	٥ وحدات مكعبة	جـ	٤ وحدات مكعبة	د	٣ وحدات مكعبة

السؤال الثاني: ضعي علامة (✓) أمام العبارة الصحيحة، وعلامة (✗) أمام العبارة غير الصحيحة: **(٤ درجات)**

١. الزمن الذي تُشير إليه الساعة الرقمية هو "الثامنة والنصف".  (✓)

٢. ١ كيلوجرام (كجم) = ١٠ جرام (جم). (✗)

٣. ١ لتر (ل) = ١٠٠٠ مللتر (مل). (✓)

٤. تحتوي ساعة العقارب على عقرب للساعات فقط. (✗)

انتهت الأسئلة،،،،،بالتوفيق للجميع

معلمة المادة:

موقع واجباتي

المادة / رياضيات
الصف / ثالث
اليوم /
التاريخ / / / ١٤٤٧

مدرسة

اختبار الفترة الثانية الفصل الدراسي الثاني للعام الدراسي ١٤٤٧ هـ

٢٠

اسم الطالب : .....

السؤال الأول: اختر الإجابة الصحيحة في كل مما يأتي:

١) الوحدة المناسبة لقياس المسافة بين مدينتي الرياض و أبها هي:

أ	السنتمتر	ب	المتر	ج	الكيلو متر	د	الجرام

٢) حجم المجسم المجاور هو:

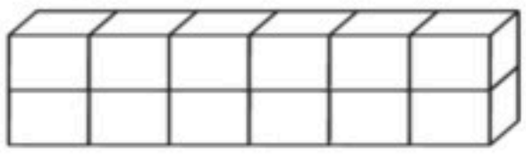

أ	١٠وحدات مكعبة	ب	١١ وحدة مكعبة	ج	١٢وحدة مكعبة	د	١٥وحدة مكعبة

٣) إذا كان عقرب الدقائق يشير الى الرقم ٦، فإن عدد الدقائق التي يشير اليها هي :

أ	١٠ د	ب	١٥ د	ج	٢٠ د	د	٣٠ د

٤) الوحدة المناسبة لقياس طول ارتفاع الباب هي:

أ	الملمتر	ب	المتر	ج	السنتمتر	د	الكيلو متر

٥) التقدير الأنسب لقياس سعة ابريق شاي هو:



أ	٢ ل	ب	٢ مل	ج	٤ جم	د	٤٠ كلم

٦) التقدير الأنسب لقياس كتلة السيارة :



أ	١٠٠٠ جم	ب	١٠٠٠ كجم	ج	١٠٠٠ ل	د	١٠٠٠ مل

٧) تحوي راية نمطاً يتكرر فيه ٣ مربعات ومثلثان فإذا تكرر هذا النمط ٣ مرات، فكم مضلعا سيكون فيه:

أ	٦	ب	٩	ج	١٥	د	٢١

٨) ما اسم الشكل المجاور :

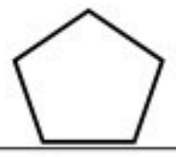

أ	رباعي	ب	خماسي	ج	سداسي	د	سباعي

٩) يسمى المجسم المجاور :



أ	متوازي مستطيلات	ب	هرم رباعي	ج	اسطوانة	د	كرة

السؤال الثاني:

(أ) ضع إشارة (√) أمام العبار الصحيحة. وإشارة (×) أمام العبارة الخاطئة فيما يأتي:

١)المساحة هي طول المسافة حول الإطار الخارجي لشكل معين	( )
(٢) ساعة العقارب تظهر الوقت بالأرقام	( )
(٣) تستعمل الوحدات المكعبة لقياس الحجم	( )
(٤) المجسم الذي له رأس واحد ووجه واحد على شكل دائرة يسمى مخروط	( )

ب) أوجد محيط المثلث ؟

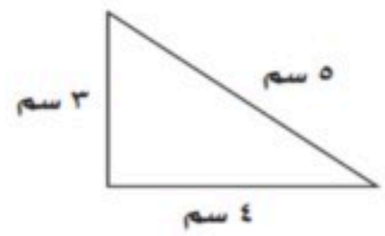

المحيط = ...

ج) اكتب الوقت الذي تشير اليه الساعة ؟



..... : .....

د) أوجد مساحة الشكل التالي ؟

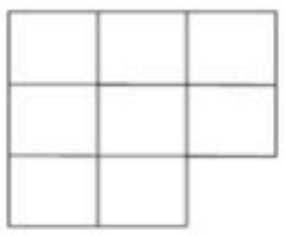

المساحة = ...

و) صف الشكل التالي من حيث عدد الأضلاع وعدد الزوايا و سمه :



عدد الاضلاع = ...
عدد الزوايا = ...
يسمى الشكل .....

ي) أقام أحمد حفلاً بمناسبة تخرجه فدعا ٤ من أصدقائه، و٥ من زملائه في الدراسة، و٩ من جيرانه، فاعتذر ٣ أشخاص . فكم عدد الأشخاص الذين حضروا الحفل؟

.....

.....



انتهت الأسئلة

مع تمنياتي لكم بالتوفيق

موقع واجباتي

المادة / رياضيات
الصف / ثالث
اليوم /
التاريخ / / / ١٤٤٧

مدرسة

اختبار الفترة الثانية الفصل الدراسي الثاني للعام الدراسي ١٤٤٧ هـ

٢٠

نموذج الإجابة

السؤال الأول: اختر الإجابة الصحيحة في كل مما يأتي:

١) الوحدة المناسبة لقياس المسافة بين مدينتي الرياض و أبها هي

أ	السنتمتر	ب	المتر	ج	الكيلو متر	د	الجرام

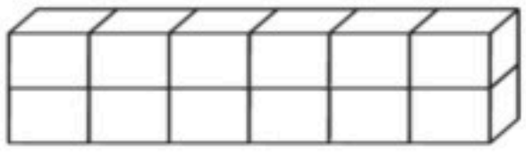

٢) حجم المجسم المجاور هو:

أ	١٠وحدات مكعبة	ب	١١ وحدة مكعبة	ج	١٢وحدة مكعبة	د	١٥وحدة مكعبة

٣) إذا كان عقرب الدقائق يشير الى الرقم ٦، فإن عدد الدقائق التي يشير اليها هي :

أ	١٠ د	ب	١٥ د	ج	٢٠ د	د	٣٠ د

٤) الوحدة المناسبة لقياس طول ارتفاع الباب هي:

أ	الملمتر	ب	المتر	ج	السنتمتر	د	الكيلو متر

٥) التقدير الأنسب لقياس سعة ابريق شاي هو:



أ	٢ ل	ب	٢ مل	ج	٤ جم	د	٤٠ كلم

٦) التقدير الأنسب لقياس كتلة السيارة :



أ	١٠٠٠ جم	ب	١٠٠٠ كجم	ج	١٠٠٠ ل	د	١٠٠٠ مل

٧) تحوي راية نمطاً يتكرر فيه ٣ مربعات ومثلثان فإذا تكرر هذا النمط ٣ مرات، فكم مضلعا سيكون فيه:

أ	٦	ب	٩	ج	١٥	د	٢١

٨) ما اسم الشكل المجاور :

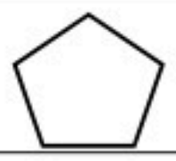

أ	رباعي	ب	خماسي	ج	سداسي	د	سباعي

٩) يسمى المجسم المجاور :



أ	متوازي مستطيلات	ب	هرم رباعي	ج	اسطوانة	د	كرة

موقع واجباتي

السؤال الثاني:

(أ) ضع إشارة (√) أمام العبار الصحيحة. وإشارة (×) أمام العبارة الخاطئة فيما يأتي:

١)المساحة هي طول المسافة حول الإطار الخارجي لشكل معين	(×)
(٢) ساعة العقارب تظهر الوقت بالأرقام	(×)
(٣) تستعمل الوحدات المكعبة لقياس الحجم	(√)
(٤) المجسم الذي له رأس واحد ووجه واحد على شكل دائرة يسمى مخروط	(√)

ب) أوجد محيط المثلث ؟

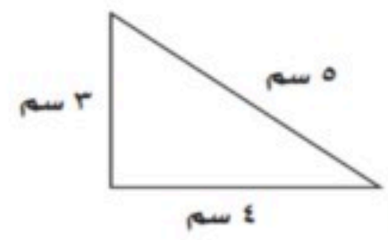

المحيط = ٥ + ٤ + ٣ = ١٢ سم

ج) اكتب الوقت الذي تشير اليه الساعة ؟



١٠ : ١٠

د) أوجد مساحة الشكل التالي ؟



المساحة = ٨ وحدات مربعة

و) صف الشكل التالي من حيث عدد الأضلاع وعدد الزوايا و سمه :

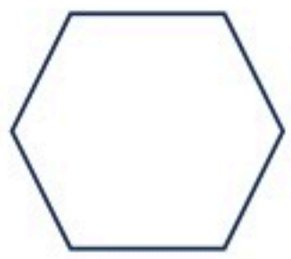

عدد الاضلاع = ٦

عدد الزوايا = ٦

يسمى الشكل سداسي

ي) أقام أحمد حفلاً بمناسبة تخرجه فدعا ٤ من أصدقائه، و٥ من زملائه في الدراسة، و٩ من جيرانه، فاعتذر ٣ أشخاص . فكم عدد الأشخاص الذين حضروا الحفل؟

(٤ + ٥ + ٩) − ٣ = ١٥ شخص

ابو تركي

انتهت الأسئلة

مع تمنياتي لكم بالتوفيق

موقع واجباتي

اختبار الفترة الثانيه مادة الرياضيات للصف ...الثالث... ابتدائي الفصل الدراسي الثاني لعام ١٤٤٧هـ

٢٠ ا

الاسم :.....

السؤال الأول:

أ/اختار الإجابة الصحيحة فيما يلي : (خمس درجات)

١	الوحدة المناسبة لقياس طول سيارة							
	أ	الملمتر	ب	المتر	ج	السنتمتر	د	الكيلو متر
٢	الوحدة المناسبة لقياس المسافة بين مدينتين							
	أ	الملمتر	ب	المتر	ج	السنتمتر	د	الكيلو متر
٣	الوحدة المناسبة لقياس سعة حوض سمك							
	أ	الجرام	ب	السنتمتر	ج	اللتر	د	المللتر
٤	في الكيلوجرام الواحد يوجد ١٠٠٠ جرام ، فإن عدد الجرامات الموجوده في ٧ كيلوجرامات هو							
	أ	٧٠	ب	٧٠٠	ج	٧٠٠٠	د	٧
٥	إذا كان عقرب الدقائق يشير للرقم ٩ ، فإن عدد الدقائق هو							
	أ	٩	ب	١٠	ج	١٥	د	٤٥

السؤال الثاني: أضع علامة ✅ أو علامة ❎ فيما يلي (خمس درجات)

١) المساحة هي طول المسافه حول الإطار الخارجي لشكل معين ( )
٢) تستعمل الوحدات المكعبة لقياس الحجم ( )
٣) مجسم له وجه دائري واحد هو الهرم ( )
٤) المضلع الذي له ٦ زوايا هو سداسي ( )
٥) مجسم ليس له أوجه ولاأحرف ولا رؤوس هو الاسطوانه ( )

السؤال الثالث: أكمل الفراغات بما يناسبها فيما يلي : (عشر درجات)

١/ أجد محيط الشكل التالي

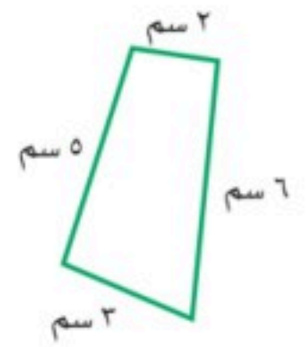

٢/ أجد مساحة الشكل التالي

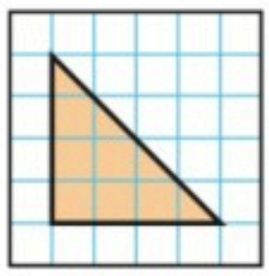

٣/ أجد حجم الشكل التالي

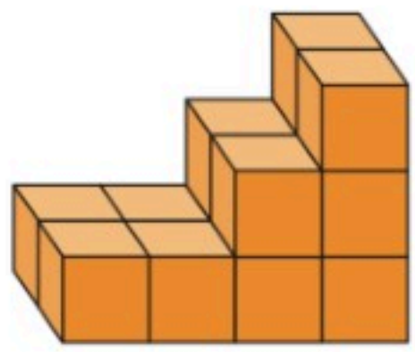

٤/ الزمن الذي تشير إليه الساعه



٥/ ماسم المجسم المقابل واكتب عدد (الأوجه ، الأحرف ، الرؤوس)

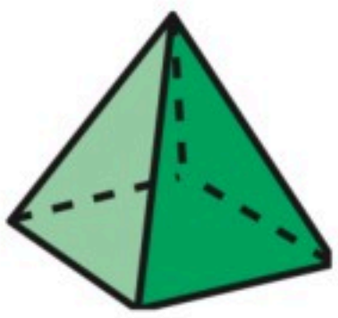

.....

.....

.....

.....

٦/ هل للأشكال التالية محور تماثل (نعم أم لا)

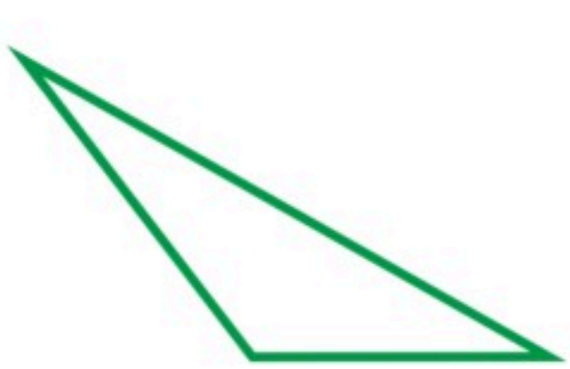



انتهت الأسئلة

موقع واجباتي

اختبار الفترة الثانيه
مادة الرياضيات
للصف ...الثالث... ابتدائي
الفصل الدراسي الثاني لعام ١٤٤٧هـ

نموذج الإجابة

٢٠ ا

الاسم :.....

السؤال الأول:

أ/اختار الإجابة الصحيحة فيما يلي : (خمس درجات)

١	الوحدة المناسبة لقياس طول سيارة							
	أ	الملمتر	ب	المتر	ج	السنتمتر	د	الكيلو متر
٢	الوحدة المناسبة لقياس المسافة بين مدينتين							
	أ	الملمتر	ب	المتر	ج	السنتمتر	د	الكيلو متر
٣	الوحدة المناسبة لقياس سعة حوض سمك							
	أ	الجرام ← وحدة كتلة	ب	السنتمتر ← وحدة طول	ج	اللتر ← وحدة سعة	د	المللتر ← وحدة سعة
٤	في الكيلوجرام الواحد يوجد ١٠٠٠ جرام ، فإن عدد الجرامات الموجوده في ٧ كيلوجرامات هو							٧ كيلجم = ٧٠٠٠ جم ٧٠٠٠ = ١٠٠٠ x ٧
	أ	٧٠	ب	٧٠٠	ج	٧٠٠٠	د	٧
٥	إذا كان عقرب الدقائق يشير للرقم ٩ ، فإن عدد الدقائق هو							
	أ	٩	ب	١٠	ج	١٥	د	٤٥

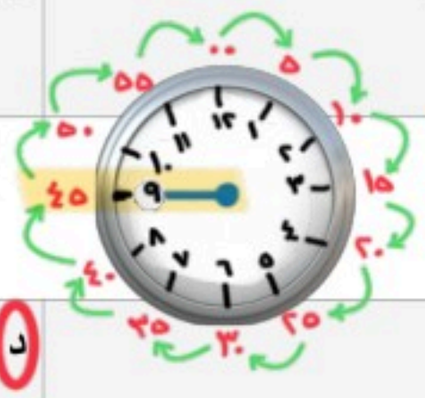

السؤال الثاني: أضع علامة ✅ أو علامة ❌ فيما يلي (خمس درجات)

١) المساحة هي طول المسافه حول الإطار الخارجي لشكل معين (✗) المحيط
٢) تستعمل الوحدات المكعبة لقياس الحجم (✓)
٣) مجسم له وجه دائري واحد هو الهرم (✗) المخروط
٤) المضلع الذي له ٦ زوايا هو سداسي (✓)
٥) مجسم ليس له أوجه ولاأحرف ولا رؤوس هو الاسطوانه (✗) الكرة

السؤال الثالث: أكمل الفراغات بما يناسبها فيما يلي : (عشر درجات)

١/ أجد محيط الشكل التالي

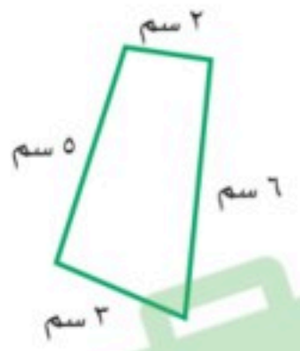

المحيط = ٢+٦+٣+٥

= ١٦ سم

٢/ أجد مساحة الشكل التالي

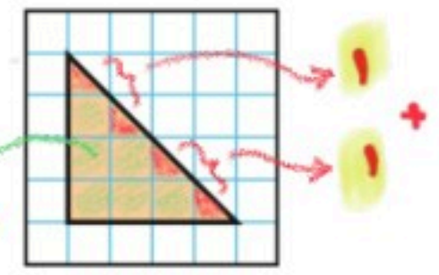

المساحة = ٢ + ٦

= ٨ وحدات مربعة

٣/ أجد حجم الشكل التالي

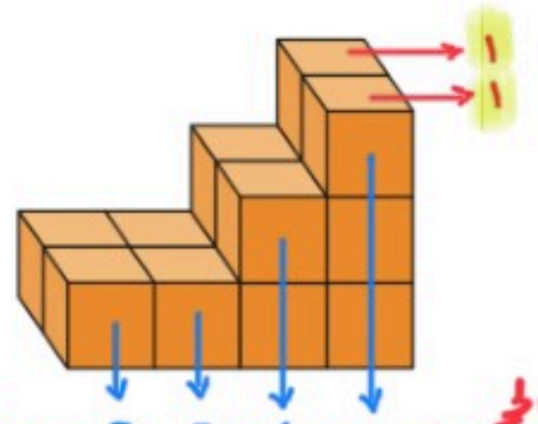

الحجم = ٦ + ٤ + ٢ + ٢ = ١٤ وحدة مكعبة

٤/ الزمن الذي تشير إليه الساعه



الساعة ١٢ و ٢٠ دقيقة

١٢ : ٢٠

٥/ ماسم المجسم المقابل واكتب عدد (الأوجه ، الأحرف ، الرؤوس)

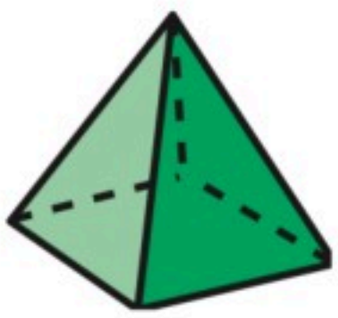

هرم رباعي

الأوجه = ٥

الأحرف = ٨

الرؤوس = ٥

* تذكر:

الفرق بين الهرم الثلاثي و الهرم الرباعي .



٦/ هل للأشكال التالية محور تماثل (نعم أم لا) : لايوجد لها محاور تماثل .

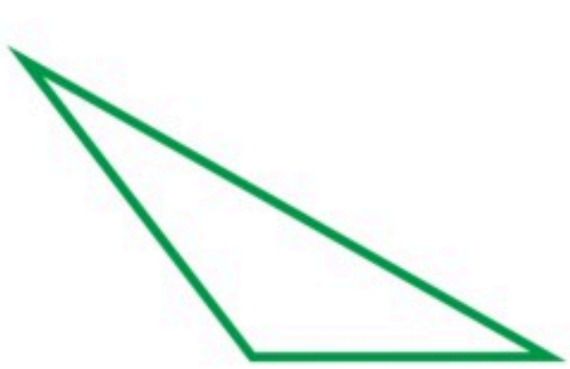



انتهت الأسئلة

موقع واجباتي

المدرسة ٤٥ ب

اختبار الفترة الثانية لمادة الرياضيات
الفصل الدراسي الثاني لعام ١٤٤٧ هـ

٢٠

اسم الطالب/ة : ..... الصف : ٣ /

استعن بالله ، ثم اجب عن الأسئلة التالية :

س١ / في الفقرات من ١ - ١٠ اختار الإجابة الصحيحة بوضع خط تحتها ..

-١- الوحدة الأنسب لقياس طول السيارة هي :

ملمتر	سنتمتر	متر	كيلومتر

-٢- التقدير الأنسب لطول كتاب الرياضيات هو :

١٧ م	١٧ سم	١٧ كلم	١٧ ملم

-٣- محيط الشكل المقابل يساوي .....

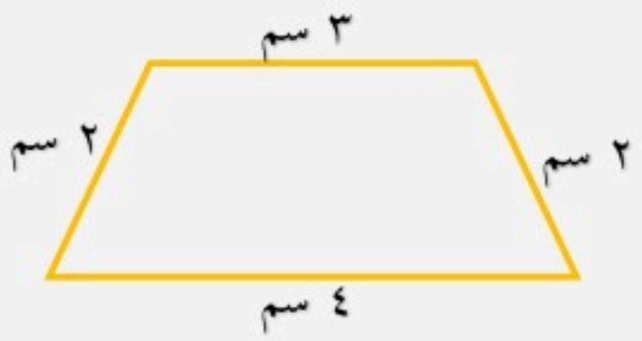

١٠ سم	١١ سم	١٤ سم	١٨ سم

-٤- مساحة الشكل المقابل بالوحدات المربعة هو : .....

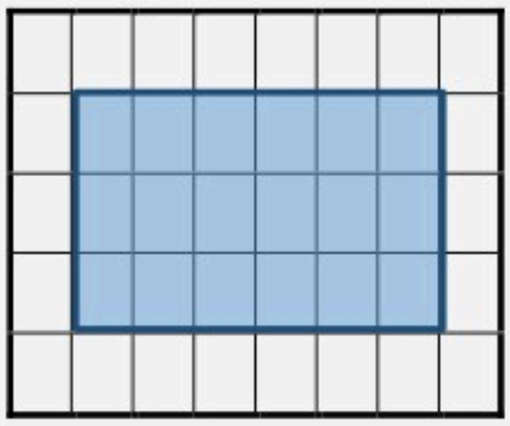

٢٥ وحدة مربعة	٢٢ وحدة مربعة	٢٠ وحدة مربعة	١٨ وحدة مربعة

-٥- الوحدة المناسبة لقياس سعة حوض السمك هي :

لتر	كيلومتر	مللتر	سنتمتر

-٦- التقدير الأنسب لقياس سعة قارورة الدواء هو :

١٠٠ ل	١٠٠ سم	١٠٠ مل	١٠٠ كلم

-٧- الوحدة المناسبة لقياس كتلة الخروف هي .....

جرام	كيلوجرام	مللتر	ملمتر

معلمة المادة : بهزاد طالب بخاري

-٨-	التقدير الأنسب لقياس كتلة حبة التفاح هو			
	٢٥ جم	٢٥ ل	٢٥ كلجم	٢٥ سم
-٩-	الزمن الذي تشير اليه الساعة هو : 			
	الثامنة و النصف	السادسة	السادسة و الربع	الثامنة
-١٠-	المجسم الذي ليس له وجه ولا حرف ولا رأس هو			
	المكعب	الكرة	المخروط	الاسطوانة
-١١-	مضلع له ٣ أضلاع و ٣ زوايا هو			
	الدائرة	المثلث	السداسي	الرباعي
-١٢-	الشكل المقابل هو : 			
	المكعب	الكرة	المخروط	الاسطوانة
-١٣-	الشكل المقابل هو : 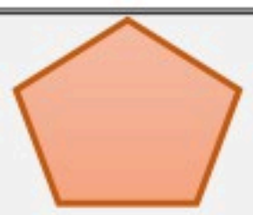			
	الخماسي	المثلث	السداسي	الرباعي

س٢ / أوجد حجم المجسم التالي ..



س٣ / حدد النمط ثم وسعه فيما يأتي ...

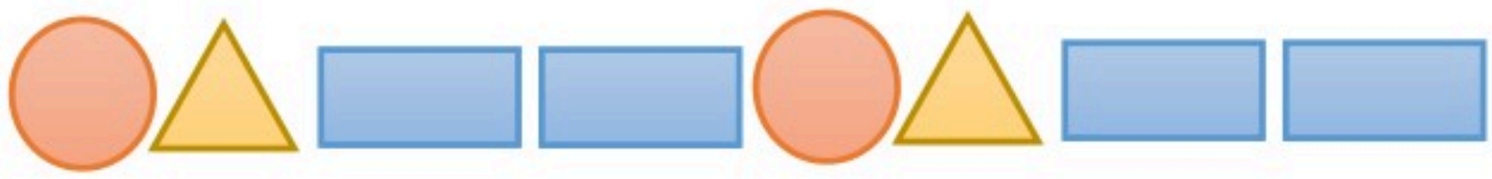

س٤ / هل للأشكال التالية محور تماثل أم لا ؟

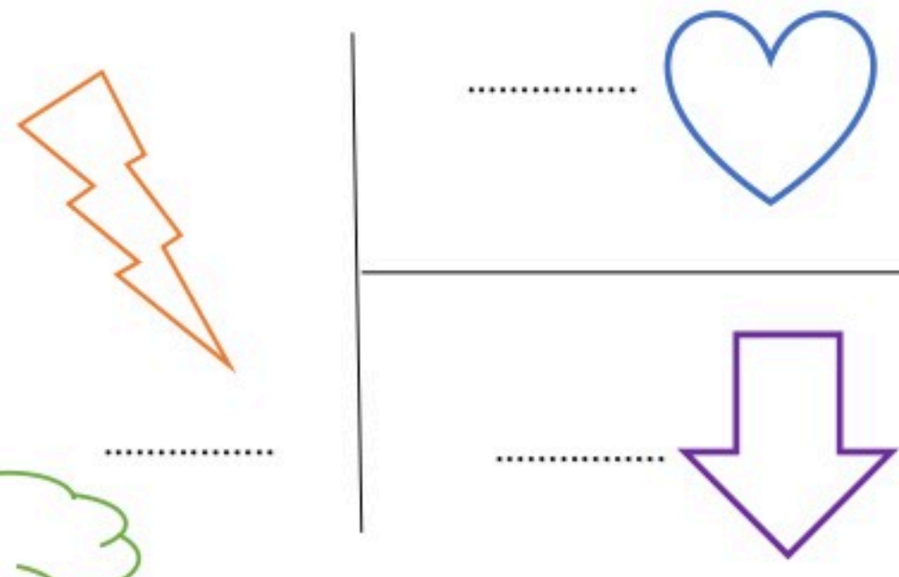

.....

.....

.....

س٥ / إذا تكرر النمط أدناه ٣ مرات [redacted]، فكم سيكون عدد جميع الدوائر فيه ؟



دعواتي لكم باتوفيق

معلمة المادة : بهزاد طالب بخاري

المدرسة ٤٥ ب

اختبار الفترة الثانية لمادة الرياضيات
الفصل الدراسي الثاني لعام ١٤٤٧ هـ

نموذج اجابة

اسم الطالب/ة ..... الصف : ٣ /

٢٠

نموذج الإجابة

استعن بالله ، ثم اجب عن الأسئلة التال

درجة واحدة لكل فقرة

س١ / في الفقرات من ١ - ١٠ اخ

-١-	الوحدة الأنسب لقياس طول السيارة هي :			
	ملمتر	سنتمتر	متر	كيلومتر
-٢-	التقدير الأنسب لطول كتاب الرياضيات هو :			
	١٧ م	١٧ سم	١٧ كلم	١٧ ملم
-٣-	محيط الشكل المقابل يساوي ..... 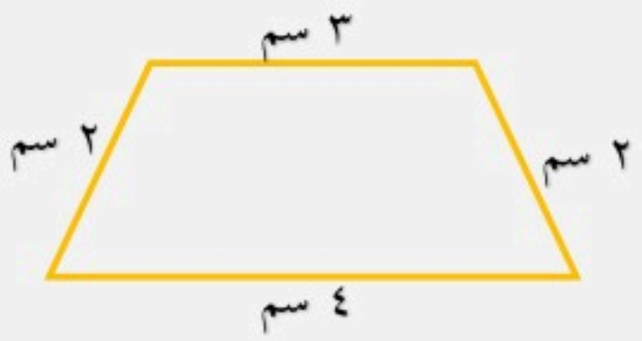			
	١٠ سم	١١ سم	١٤ سم	١٨ سم
-٤-	مساحة الشكل المقابل بالوحدات المربعة هو : ..... 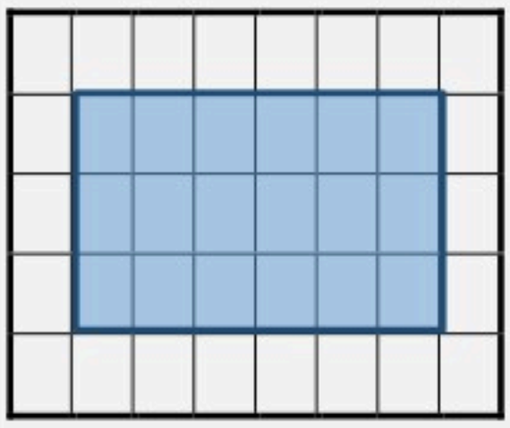			
	٢٥ وحدة مربعة	٢٢ وحدة مربعة	٢٠ وحدة مربعة	١٨ وحدة مربعة
-٥-	الوحدة المناسبة لقياس سعة حوض السمك هي :			
	لتر	كيلومتر	مللتر	سنتمتر
-٦-	التقدير الأنسب لقياس سعة قارورة الدواء هو :			
	١٠٠ ل	١٠٠ سم	١٠٠ مل	١٠٠ كلم
-٧-	الوحدة المناسبة لقياس كتلة الخروف هي			
	جرام	كيلوجرام	مللتر	ملمتر
	التقدير الأنسب لقياس كتلة حبة التفاح هو			

معلمة المادة : بهزاد طالب بخاري

٨-	٢٥ جم	٢٥ ل	٢٥ كلجم	٢٥ سم
٩-	الزمن الذي تشير اليه الساعة هو : 			
	الثامنة و النصف	السادسة	السادسة و الربع	الثامنة
١٠-	المجسم الذي ليس له وجه ولا حرف ولا رأس هو			
	المكعب	الكرة	المخروط	الاسطوانة
١١-	مضلع له ٣ أضلاع و ٣ زوايا هو			
	الدائرة	المثلث	السداسي	الرباعي
١٢-	الشكل المقابل هو : 			
	المكعب	الكرة	المخروط	الاسطوانة
١٣-	الشكل المقابل هو : 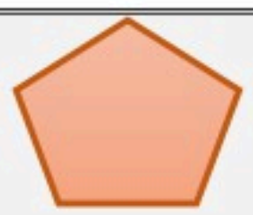			
	الخماسي	المثلث	السداسي	الرباعي

س٢ / أوجد حجم المجسم التالي ..



١٨ وحدة مكعبة

درجة

س٣ / حدد النمط ثم وسعه فيما يأتي ...

درجتان



س٤ / هل للأشكال التالية محور تماثل أم لا ؟

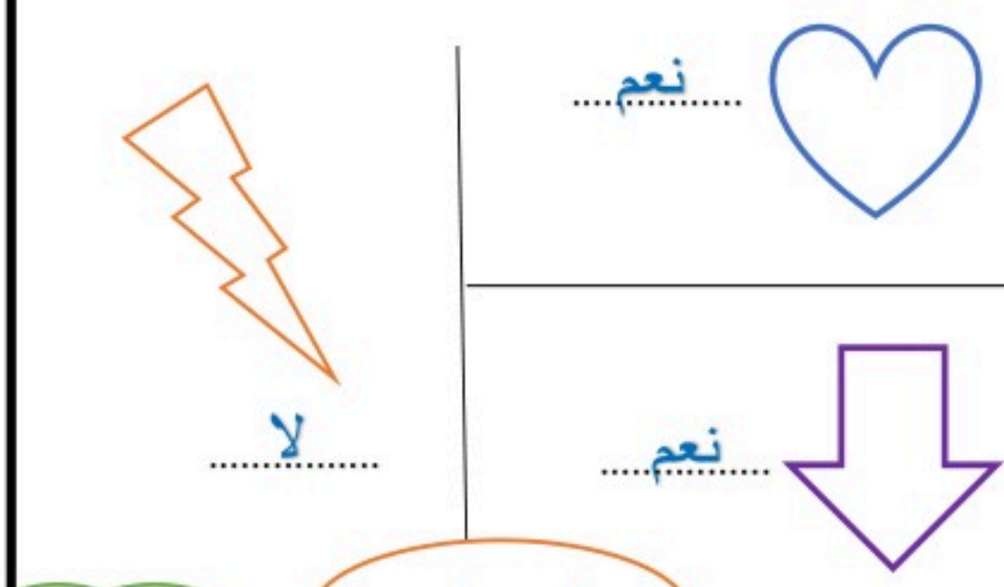

٣ درجات

س٥ / إذا تكرر النمط أدناه ٣ مرات [redacted] ، فكم سيكون عدد جميع الدوائر فيه ؟



٩ دوائر

درجة

دعواتي لكم باتوفيق

موقع واجباتك

اختبار الفترة الثانية الفصل الدراسي الثالث للصف الثالث لعام ١٤٤٧ هـ

٢٠

الاسم: ..... الصف: الثالث

السؤال الأول : اختر الإجابة الصحيحة فيما يلي :	١٠

١- الوحدة الأنسب لقياس طول سيارة هي

أ	الملمتر	ب	السنتمتر	ج	المتر	د	الكيلومتر

٢- محيط المثلث المجاوريساوي :

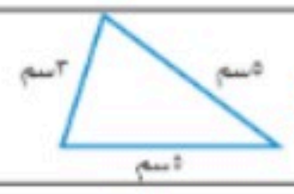

أ	١٤ سم	ب	١٣ سم	ج	١٠ سم	د	٨ سم

٣- التقدير الأنسب لسعة فنجال قهوة هو :



أ	٥٠ مل	ب	٥٠ ل	ج	١٠ جم	د	١٠ كجم

٤- اذا كان الكيلوجرام الواحد يساوي ١٠٠٠ جرام فكم جرامًا في ٤ كيلوجرام ؟

أ	٤ جرام	ب	٤٠ جرام	ج	٤٠٠ جرام	د	٤٠٠٠ جرام

٥- التقدير الأنسب لكتلة مايلي هو :



أ	٣ جم	ب	٣ كجم	ج	٣٠٠ مل	د	٣٠٠ ل

٦- إذا أشار عقرب الدقائق على الرقم ٢ فإن عدد الدقائق الذي يشير إليها هو ؟

أ	١٠ دقائق	ب	١٥ دقيقة	ج	٢٠ دقيقة	د	٢٥ دقيقة

٧- المجسم الذي له ٦ أوجه و ١٢ حرفًا و٨ رؤوس هو:

أ	مكعب	ب	مخروط	ج	اسطوانة	د	كرة

٨- الشكل المستوي الذي له ٨ أضلاع و٨ زوايا يسمى :

أ	رباعي	ب	خماسي	ج	سداسي	د	ثماني

٩- المجسم الذي له وجهان دائريان هو :

أ	مكعب	ب	مخروط	ج	اسطوانة	د	كرة

١٠ - عدد محاور التماثل في الشكل المجاور تساوي



أ	١	ب	٢	ج	٣	د	٤

السوال الثاني : ضع علامة (✓) أمام العبارة الصحيحة وعلامة (✗) أمام العبارة الخاطئة فيما يلي : ٤	
١- المساحة هي طول الخط حول شكل معين	
٢- تستعمل الوحدات المكعبة لقياس الحجم .	
٣- الشكل المضلع يكون مغلق دائمًا	
٤- الشكل المستوي هو شكل ثنائي الأبعاد له طول وعرض	

السؤال الثالث : أجب عن المطلوب فيما يلي : ٦

أ) أكمل الفراغات بما يناسبها :

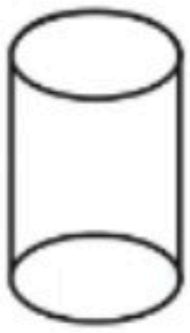

اسم المجسم : .....
عدد الأوجه : .....
عدد الأحرف : .....
عدد الرؤوس : .....

ب) أوجد حجم المجسم التالي :

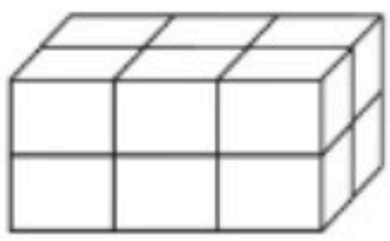

..... **وحدة مكعبة**

ج) أوجد مساحة الجزء المظلل المجاور :



..... وحدة مربعة

د) رتب وحدات قياس الطول الآتية من الأصغر إلى الأكبر .
(المتر ، الكيلو متر ، السنتمتر ، الملمتر)

.....

هـ) قاد سالم دراجته مسافة ٢ كيلومتر إلى بيت عمه ثم قادها ضعف هذه المسافة إلى المتنزه فما المسافة الكلية التي قطعها ؟

.....

معلمة المادة: نوف العصلاني

اختبار الفترة الثانية الفصل الدراسي الثالث للصف الثالث لعام ١٤٤٧ هـ

٢٠

الاسم: ..... الصف: الثالث

نموذج الإجابة

السؤال الأول : اختر الإجابة الصحيحة فيما يلي :	١٠

١- الوحدة الأنسب لقياس طول سيارة هي

أ	الملمتر	ب	السنتمتر	ج	المتر	د	الكيلومتر

٢- محيط المثلث المجاوريساوي : 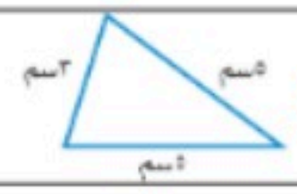

في المحيط نجمع أطوال أي مضلع

المحيط = ٥+٥+٣ = ١٣ سم

أ	١٤ سم	ب	١٣ سم	ج	١٠ سم	د	٨ سم

٣- التقدير الأنسب لسعة فنجال قهوة هو : 

السعة تقاس بـ (مل) أو (ل)

أ	٥٠ مل	ب	٥٠ ل	ج	١٠ جم	د	١٠ كجم

٤- اذا كان الكيلوجرام الواحد يساوي ١٠٠٠ جرام فكم جرامًا في ٤ كيلوجرام ؟

٤ كجم = ٤×١٠٠٠ = ٤٠٠٠ جم

أ	٤ جرام	ب	٤٠ جرام	ج	٤٠٠ جرام	د	٤٠٠٠ جرام

٥- التقدير الأنسب لكتلة مايلي هو : 

الكتلة تقاس بـ (ملجم) ، (جم) ، (كيلجم).

أ	٣ جم	ب	٣ كجم	ج	٣٠٠ مل	د	٣٠٠ ل

٦- إذا أشار عقرب الدقائق على الرقم ٢ فإن عدد الدقائق الذي يشير إليها هو ؟ 

أ	١٠ دقائق	ب	١٥ دقيقة	ج	٢٠ دقيقة	د	٢٥ دقيقة

٧- المجسم الذي له ٦ أوجه و ١٢ حرفًا و٨ رؤوس هو: 

أ	مكعب	ب	مخروط	ج	اسطوانة	د	كرة

٨- الشكل المستوي الذي له ٨ أضلاع و٨ زوايا يسمى :

أ	رباعي	ب	خماسي	ج	سداسي	د	ثماني

٩- المجسم الذي له وجهان دائريان هو : 

أ	مكعب	ب	مخروط	ج	اسطوانة	د	كرة

١٠ - عدد محاور التماثل في الشكل المجاور تساوي 

أ	١	ب	٢	ج	٣	د	٤

موقع واجباتي

السوال الثاني : ضع علامة (✓) أمام العبارة الصحيحة وعلامة (✗) أمام العبارة الخاطئة فيما يلي : ٤	
١- المساحة هي طول الخط حول شكل معين ← المحيط	✗
٢- تستعمل الوحدات المكعبة لقياس الحجم .	✓
٣- الشكل المضلع يكون مغلق دائمًا	✓
٤- الشكل المستوي هو شكل ثنائي الأبعاد له طول وعرض	٧

السؤال الثالث : أجب عن المطلوب فيما يلي : ٦

أ) أكمل الفراغات بما يناسبها :

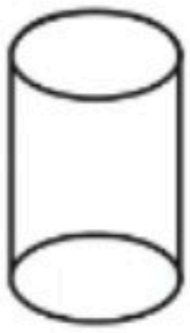

اسم المجسم : ..... اسطوانة .....
عدد الأوجه : ..... ٣ .....
عدد الأحرف : ..... ٠ .....
عدد الرؤوس : ..... ٠ .....

ب) أوجد حجم المجسم التالي :

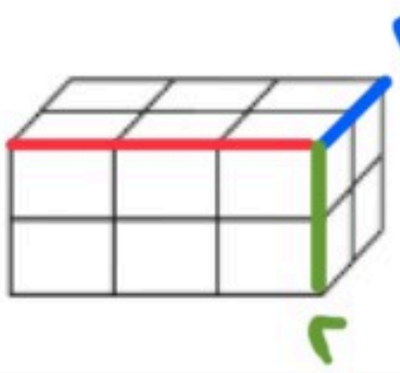

..... ١٢ ..... وحدة مكعبة

الحجم = ٣ × ٢ × ٢
= ٣ × ٤ = ١٢

ج) أوجد مساحة الجزء المظلل المجاور :

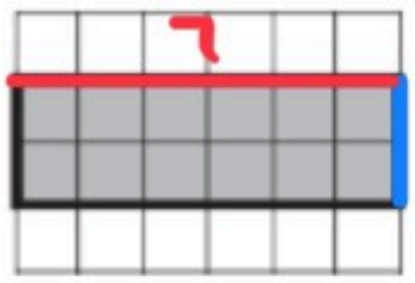

..... ١٢ ..... وحدة مربعة

مساحة المستطيل = الطول × العرض
= ٦ × ٢
= ١٢

د) رتب وحدات قياس الطول الآتية من الأصغر إلى الأكبر .
(المتر ، الكيلو متر ، السنتمتر ، الملمتر)

..... الملمتر ، السنتمتر ، المتر ، الكيلومتر .....

هـ) قاد سالم دراجته مسافة ٢ كيلومتر إلى بيت عمه ثم قادها ضعف هذه المسافة إلى المتنزه فما المسافة الكلية التي قطعها ؟

٢ × ٢

ضعف العدد ٢ = ٢ × ٢ = ٤ ..... إذاً المسافة الكلية = ٦ كيلومتر .....

الآن نجمع = المسافة لبيت عمه + الضعف
٢ + ٤ = ٦ كيلومتر

معلمة المادة: نوف العصلاني

موقع واجباتي

ابتدائية عبد الملك بن مروان للطفولة المبكرة		الدرجة المستحقة ٢٠

اختبار مادة الرياضيات للصف الثالث الابتدائي الفترة الثانية الفصل الدراسي الثاني لعام ١٤٤٧ هـ

اسم الطالب/ة: ..... الصف: ثالث ( )

السؤال الأول: اختر الإجابة الصحيحة فى كل مما يأتى:

١) الوحدة المناسبة لقياس المسافة بين مدينتي جدة و أبها هي:

أ) السنتمتر	ب) المتر	ج) الكيلو متر	د) الجرام

٢) حجم المجسم الذي الآتي هو:

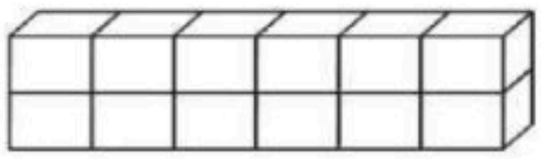

أ) ١٠وحدات مكعبة	ب)١٥ وحدة مكعبة	ج) ١٢وحدة مكعبة	د) ١١وحدة مكعبة

٣) إذا كان عقرب الدقائق يشير الى الرقم ٦، فإن عدد الدقائق التي يشير اليها هو:

أ) ١٥ د	ب) ٢٠ د	ج) ١٠ د	د) ٣٠ د

٤) الوحدة المناسبة لقياس طول ارتفاع الباب هي:

أ) الملمتر	ب) المتر	ج) السنتمتر	د) الكيلو جرام

٥) التقدير الأنسب لقياس سعة ابريق شاي هو:



أ) ٢ل	ب) ٢ مل	ج) ٤ جم	د) ٤٠ كلم

٦) التقدير الأنسب لقياس كتلة سيارة:

أ) ١٠٠٠ جم	ب) ١٠٠٠ كجم	ج) ١٠٠٠ ل	د) ١٠٠٠ مل

٧) تحوي راية نمطاً يتكرر فيه ٣مربعات ومثلثان فإذا تكرر هذا النمط ٣ مرات، فكم مضلعا سيكون فيه:

أ) ٦	ب) ٩	ج) ١٥	د) ٢١

٨) عدد محاور التماثل للشكل الاتي هي:



أ) لا يوجد	ب) ١	ج) ٢	د) ٥

يتبع

٩) المستقيم الذي إذا طُوي الشكل عنده انطبق نصفاه أحدهما على الآخر تماما هوَ:

(أ) المضلع	(ب) المجسم	(ج) التماثل	(د) محور التماثل

١٠) يسمى المجسم التالي:



(أ) متوازي مستطيلات	(ب) هرم رباعي	(ج) اسطوانة	(د) كرة

السؤال الثاني:

(أ) ضع إشارة (√) أمام العبار الصحيحة. وإشارة (×) أمام العبارة الخاطئة فيما يأتي:

١)المساحة هي طول المسافة حول الإطار الخارجي لشكل معين	( )
(٢) ساعة العقارب تظهر الوقت بالأرقام	( )
(٣) تستعمل الوحدات المكعبة لقياس الحجم	( )
(٤) المجسم الذي له رأس واحد ووجه واحد على شكل دائرة يسمى مخروط	( )

ب) أوجد محيط المثلث ؟

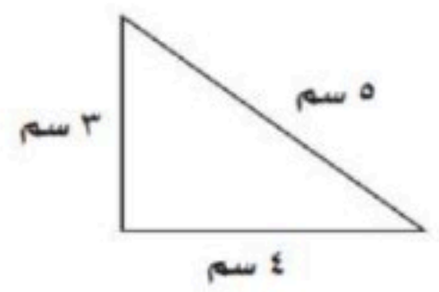

المحيط = ...

.....

ج) اكتب الوقت الذي تشير اليه الساعة؟



..... : .....

د) أوجد مساحة الشكل التالي؟

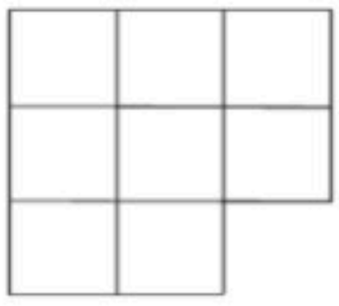

المساحة = ...

.....

و) صف كل شكل مما يلي و سميه:



عدد الاضلاع=.....

عدد الزوايا=.....

يسمى الشكل.....

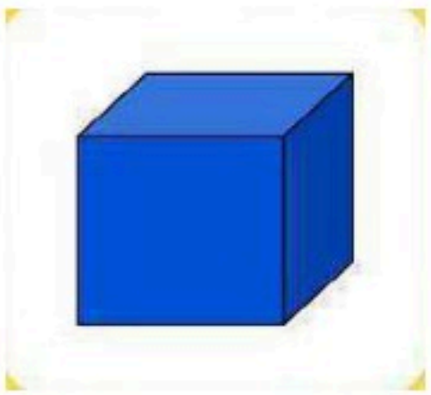

عدد الأوجه =.....

عدد الرؤوس =.....

عدد الأحرف = ...

يسمى الشكل.....

ي) أقام سالم حفلاً بمناسبة تخرجه فدعا ٣من أصدقائه، و٥من زملائه في الدراسة، و٩ من جيرانه، فكم عدد الأشخاص الذين حضروا الحفل؟

الحل: .....

مع تمنياتنا للجميع بالتوفيق ....

نموذج الإجابة

لمستحقة		ابتدائية عبد الملك بن مروان للطفولة المبكرة
٢٠		

اختبار مادة الرياضيات للصف الثالث الابتدائي الفترة الثانية الفصل الدراسي الثاني لعام ١٤٤٧ هـ

اسم الطالب/ة: ..... الصف: ثالث ( )

السؤال الأول: اختر الإجابة الصحيحة فى كل مما يأتى:

١) الوحدة المناسبة لقياس المسافة بين مدينتي جدة و أبها هي:

أ) السنتمتر	ب) المتر	ج) الكيلو متر	د) الجرام

٢) حجم المجسم الذي الآتي هو:

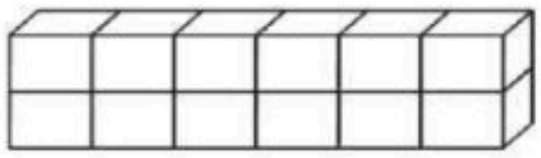

أ) ١٠وحدات مكعبة	ب) ١٥ وحدة مكعبة	ج) ١٢وحدة مكعبة	د) ١١وحدة مكعبة

٣) إذا كان عقرب الدقائق يشير الى الرقم ٦، فإن عدد الدقائق التي يشير اليها هو:

أ) ١٥ د	ب) ٢٠ د	ج) ١٠ د	د) ٣٠ د

٤) الوحدة المناسبة لقياس طول ارتفاع الباب هي:

أ) الملمتر	ب) المتر	ج) السنتمتر	د) الكيلو جرام

٥) التقدير الأنسب لقياس سعة ابريق شاي هو:



أ) ٢ل	ب) ٢ مل	ج) ٤ جم	د) ٤٠ كلم

٦) التقدير الأنسب لقياس كتلة سيارة:

أ) ١٠٠٠ جم	ب) ١٠٠٠ كجم	ج) ١٠٠٠ ل	د) ١٠٠٠ مل

٧) تحوي راية نمطاً يتكرر فيه ٣مربعات ومثلثان فإذا تكرر هذا النمط ٣ مرات، فكم مضلعا سيكون فيه:

أ) ٦	ب) ٩	ج) ١٥	د) ٢١

٨) عدد محاور التماثل للشكل الاتي هي:



أ) لا يوجد	ب) ١	ج) ٢	د) ٥

موقع واجباتي

يتبع

٩) المستقيم الذي إذا طُوي الشكل عنده انطبق نصفاه أحدهما على الآخر تماما هوَ:

(أ) المضلع	(ب) المجسم	(ج) التماثل	(د) محور التماثل

١٠) يسمى المجسم التالي:



(أ) متوازي مستطيلات	(ب) هرم رباعي	(ج) اسطوانة	(د) كرة

السؤال الثاني:

(أ) ضع إشارة (√) أمام العبار الصحيحة. وإشارة (×) أمام العبارة الخاطئة فيما يأتي:

١)المساحة هي طول المسافة حول الإطار الخارجي لشكل معين	(X)
(٢) ساعة العقارب تظهر الوقت بالأرقام	(X)
(٣) تستعمل الوحدات المكعبة لقياس الحجم	(✓)
(٤) المجسم الذي له رأس واحد ووجه واحد على شكل دائرة يسمى مخروط	(✓)

ب) أوجد محيط المثلث ؟

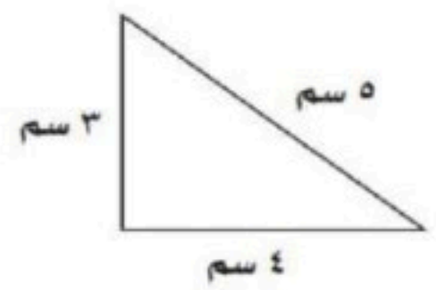

المحيط = ٣+٤+٥.....

.....١٢.....

ج) اكتب الوقت الذي تشير اليه الساعة؟



١٠ : ١٠.....

د) أوجد مساحة الشكل التالي؟

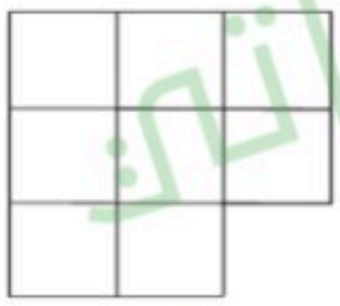

المساحة = ٨ وحدات.....

.....مربعة.....

و) صف كل شكل مما يلي و سميه:

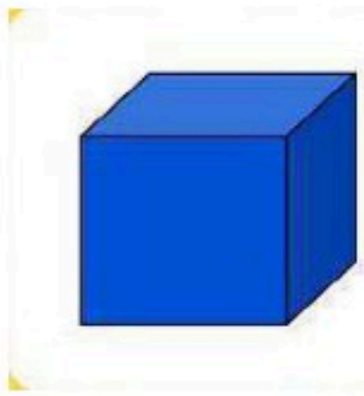

عدد الاضلاع=٠.....

عدد الزوايا=٠.....

يسمى الشكل...دائرة.....

عدد الأوجه =٦.....

عدد الرؤوس =٨.....

عدد الأحرف = ١٢.....

يسمى الشكل.....مكعب...

ي) أقام سالم حفلاً بمناسبة تخرجه فدعا ٣من أصدقائه، و٥من زملائه في الدراسة، و٩ من جيرانه، فكم عدد الأشخاص الذين حضروا الحفل؟

الحل: .....٣+٥+٩=١٧ شخصاً.....

مع تمنياتنا للجميع بالتوفيق ....

موقع واجباتي

الدرجة ٢٠

مدرسة

توقيع ولي الأمر.....

اختبار الفترة الثانية الفصل الدراسي الثاني لمادة الرياضيات للصف الثالث الابتدائي للعام الدراسي ١٤٤٧ هـ

الاسم / ..... الثالث / .....

السؤال الأول : اختر الإجابة الصحيحة فيما يلي : ١٠

١- الوحدة الأنسب لقياس طول سيارة هي

أ	الملمتر	ب	السنتمتر	ج	المتر	د	الكيلومتر

٢- محيط المثلث المجاوريساوي : 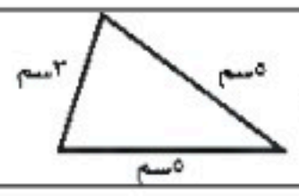

أ	١٤ سم	ب	١٣ سم	ج	١٠ سم	د	٨ سم

٣- التقدير الأنسب لسعة فنجال قهوة هو : 

أ	٥٠ مل	ب	٥٠ ل	ج	١٠ جم	د	١٠ كجم

٤- اذا كان الكيلوجرام الواحد يساوي ١٠٠٠ جرام فكم جرامًا في ٤ كيلوجرام ؟

أ	٤ جرام	ب	٤٠ جرام	ج	٤٠٠ جرام	د	٤٠٠٠ جرام

٥- التقدير الأنسب لكتلة مايلي هو : 

أ	٣ جم	ب	٣ كجم	ج	٣٠٠ مل	د	٣٠٠ ل

٦- إذا أشار عقرب الدقائق على الرقم ٢ فإن عدد الدقائق الذي يشير إليها هو ؟

أ	١٠ دقائق	ب	١٥ دقيقة	ج	٢٠ دقيقة	د	٢٥ دقيقة

٧- المجسم الذي له ٦ أوجه و ١٢ حرفًا و٨ رؤوس هو:

أ	مكعب	ب	مخروط	ج	اسطوانة	د	كرة

٨- الشكل المستوي الذي له ٨ أضلاع و٨ زوايا يسمى :

أ	رباعي	ب	خماسي	ج	سداسي	د	ثماني

٩- المجسم الذي له وجهان دائريان هو :

أ	مكعب	ب	مخروط	ج	اسطوانة	د	كرة

١٠ - عدد محاور التماثل في الشكل المجاور تساوي 

أ	١	ب	٢	ج	٣	د	٤

السوال الثاني : ضع علامة (✓) أمام العبارة الصحيحة وعلامة (✗) أمام العبارة الخاطئة فيما يلي : ٤	
١- المساحة هي طول الخط حول شكل معين	
٢- تستعمل الوحدات المكعبة لقياس الحجم .	
٣- الشكل المضلع يكون مغلق دائمًا	
٤- الشكل المستوي هو شكل ثنائي الأبعاد له طول وعرض	

السؤال الثالث : أجب عن المطلوب فيما يلي : ٦

أ) أكمل الفراغات بما يناسبها :

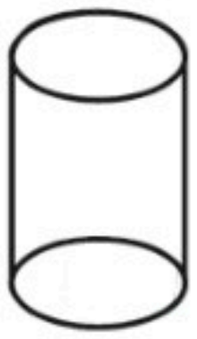

اسم المجسم : .....
عدد الأوجه : .....
عدد الأحرف : .....
عدد الرؤوس : .....

ب) أوجد حجم المجسم التالي :

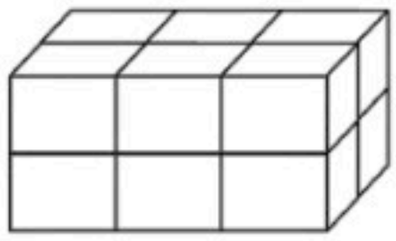

..... وحدة مكعبة

ج) أوجد مساحة الجزء المظلل المجاور :



..... وحدة مربعة

د) رتب وحدات قياس الطول الآتية من الأصغر إلى الأكبر .
(المتر ، الكيلو متر ، السنتمتر ، الملمتر)

.....

هـ) قاد سالم دراجته مسافة ٢ كيلومتر إلى بيت عمه ثم قادها ضعف هذه المسافة إلى المتنزه فما المسافة الكلية التي قطعها ؟

.....

معلم /ة المادة :

مدير /ة المدرسة :

نموذج الإجابة

الدرجة ٢٠

توقيع ولي الأمر.....

اختبار الفترة الثانية الفصل الدراسي الثاني لمادة الرياضيات للصف الثالث الابتدائي للعام الدراسي ١٤٤٧ هـ

الاسم / ..... الثالث / .....

السؤال الأول : اختر الإجابة الصحيحة فيما يلي : (١٠)							
١- الوحدة الأنسب لقياس طول سيارة هي							
أ	الملمتر	ب	السنتمتر	ج	المتر	د	الكيلومتر
٢- محيط المثلث المجاور يساوي : 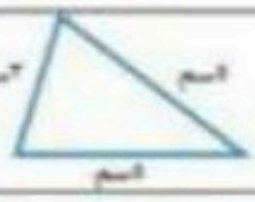							
أ	١٤ سم	ب	١٢ سم	ج	١٠ سم	د	٨ سم
٣- التقدير الأنسب لسعة فنجال قهوة هو: 							
أ	٥٠ مل	ب	٥٠ ل	ج	١٠ جم	د	١٠ كجم
٤- اذا كان الكيلوجرام الواحد يساوي ١٠٠٠ جرام فكم جرامًا في ٤ كيلوجرام ؟							
أ	٤ جرام	ب	٤٠ جرام	ج	٤٠٠ جرام	د	٤٠٠٠ جرام
٥- التقدير الأنسب لكتلة مايلي هو : 							
أ	٣ جم	ب	٣ كجم	ج	٣٠٠ مل	د	٣٠٠ ل
٦- إذا أشار عقرب الدقائق على الرقم ٢ فإن عدد الدقائق الذي يشير إليها هو ؟							
أ	١٠ دقائق	ب	١٥ دقيقة	ج	٢٠ دقيقة	د	٢٥ دقيقة
٧- المجسم الذي له ٦ أوجه و ١٢ حرفًا و٨ رؤوس هو:							
أ	مكعب	ب	مخروط	ج	اسطوانة	د	كرة
٨- الشكل المستوي الذي له ٨ أضلاع و٨ زوايا يسمى :							
أ	رباعي	ب	خماسي	ج	سداسي	د	ثماني
٩- المجسم الذي له وجهان دائريان هو :							
أ	مكعب	ب	مخروط	ج	اسطوانة	د	كرة
١٠ - عدد محاور التماثل في الشكل المجاور تساوي 							
أ	١	ب	٢	ج	٣	د	٤

موقع واجباتي

السوال الثاني : ضع علامة (✓) أمام العبارة الصحيحة وعلامة (✗) أمام العبارة الخاطئة فيما يلي : ٤	
١- المساحة هي طول الخط حول شكل معين	خطأ
٢- تستعمل الوحدات المكعبة لقياس الحجم .	صح
٣- الشكل المضلع يكون مغلق دائمًا	صح
٤- الشكل المستوي هو شكل ثنائي الأبعاد له طول وعرض	صح

السؤال الثالث : أجب عن المطلوب فيما يلي : ٦

أ) أكمل الفراغات بما يناسبها :

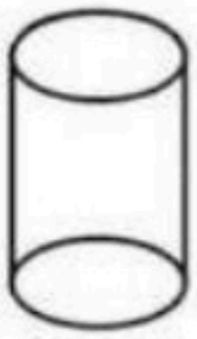

اسم المجسم : ..... اسطوانة

عدد الأوجه : ٢

عدد الأحرف : ٠

عدد الرؤوس : ٠

عدد الأوجه ٢
الأحرف ٠
الرؤوس ٠

ب) أوجد حجم المجسم التالي :

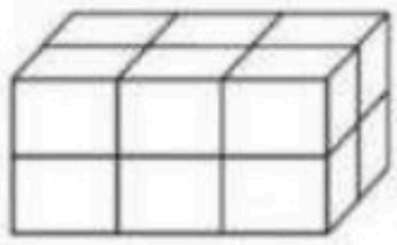

..... ١٢ ..... وحدة مكعبة

ج) أوجد مساحة الجزء المظلل المجاور :



..... ١٢ ..... وحدة مربعة

د) رتب وحدات قياس الطول الآتية من الأصغر إلى الأكبر .
(المتر ، الكيلو متر ، السنتمتر ، الملمتر)

الملمتر السنتمتر المتر الكيلو متر

هـ) قاد سالم دراجته مسافة ٢ كيلومتر إلى بيت عمه ثم قادها ضعف هذه المسافة إلى المتنزه فما المسافة الكلية التي قطعها ؟

٢+٤=٦ كلم

موقع واجباتي

معلم /ة المادة :

مدير /ة المدرسة :

الدرجة ٢٠

مدرسة

توقيع ولي الأمر.....

اختبار الفترة الثانية الفصل الدراسي الثاني لمادة الرياضيات للصف الثالث الابتدائي للعام الدراسي ١٤٤٧ هـ

الاسم / ..... الثالث / .....

السؤال الأول : اختر الإجابة الصحيحة فيما يلي : ١٠

١- الوحدة الأنسب لقياس طول كتاب الرياضيات هي :

أ	الملمتر	ب	السنتمتر	ج	المتر	د	الكيلومتر

٢- محيط الشكل المجاور يساوي :

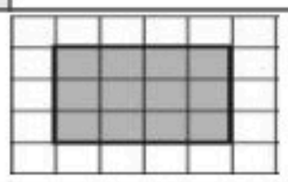

أ	١٤ وحدة	ب	١٣ وحدة	ج	١٠ وحدات	د	٨ وحدات

٣- التقدير الأنسب لقياس سعة عبوة الحليب هو :



أ	١٠ مل	ب	٥٠ ل	ج	٢٠٠ مل	د	٢٠٠ ل

٤- اذا كان الكيلوجرام الواحد يساوي ١٠٠٠ جرام فكم جرامًا في ٧ كيلوجرام ؟

أ	٧ جرام	ب	٧٠ جرام	ج	٧٠٠ جرام	د	٧٠٠٠ جرام

٥- التقدير الأنسب لقياس طول النافذة هو :

أ	٢ ملم	ب	٢ سم	ج	٢ م	د	٢ كلم

٦- الوحدة الأنسب لقياس سعة بركة أطفال هي :

أ	ملليتر	ب	لتر	ج	جرام	د	كيلو جرام

٧- التقدير الأنسب لكتلة مايلي هو :



أ	٥ جم	ب	٥ كجم	ج	٥٠٠ مل	د	٥٠٠ ل

٨- إذا أشار عقرب الدقائق على الرقم ٩ فإن عدد الدقائق الذي يشير إليها هو ؟

أ	١٠ دقائق	ب	٢٠ دقيقة	ج	٣٥ دقيقة	د	٤٥ دقيقة

٩- أي مما يلي يزيد وزنه عن ٢ كجم :

أ	تفاحة	ب	قلم	ج	ممحاة	د	طاولة الصف

١٠- اذا كان الوقت الظاهر على الساعة هو ٤٥ : ٧ فكم سيكون الوقت بعد ٨ دقائق ؟

أ	٥٠ : ٧	ب	٥٣ : ٨	ج	٥٥ : ٧	د	٥٣ : ٧

السوال الثاني : ضع علامة (✓) أمام العبارة الصحيحة وعلامة (✗) أمام العبارة الخاطئة فيما يلي : ٤	
١- المحيط هو طول الإطار الخارجي لشكل	
٢- تستعمل الوحدات المكعبة لقياس الحجم .	
٣- من وحدات السعة الملمتر ويرمز له بـ (ملم)	
٤- الساعة الرقمية تظهر الزمن بالعقارب	

السؤال الثالث : أجب عن المطلوب فيما يلي : ٦

أ) أوجد محيط الشكل المجاور :

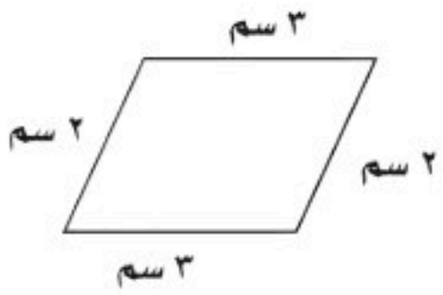

.....

ب) أوجد حجم المجسم التالي :

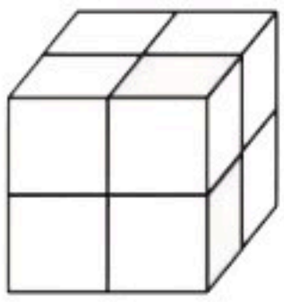

..... وحدة مكعبة

ج) أوجد مساحة الجزء المظلل المجاور :



..... وحدة مربعة

د) أكتب الزمن الذي تشير إليه الساعة المجاورة :



.....

هـ) مع سلطان ٤٠ ريال وبالأمس كان معه أكثر من نصف هذا المبلغ بـ ٥ ريال فكم كان معه أمس ؟

.....

موقع واجباتي

معلم /ة المادة :

نموذج الإجابة

الدرجة ٢٠

توقيع ولي الأمر.....

اختبار الفترة الثانية الفصل الدراسي الثاني لمادة الرياضيات للصف الثالث الابتدائي للعام الدراسي ١٤٤٧ هـ

الاسم / ..... الثالث / .....

السؤال الأول : اختر الإجابة الصحيحة فيما يلي : ١٠

١- الوحدة الأنسب لقياس طول كتاب الرياضيات هي :

أ	الملمتر	ب	السنتمتر	ج	المتر	د	الكيلومتر

٢- محيط الشكل المجاور يساوي :

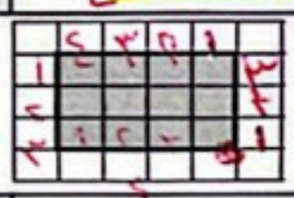

٣ ٣ ٤ ٤ ٣+٣+٤+٤

أ	١٤ وحدة	ب	١٣ وحدة	ج	١٠ وحدات	د	٨ وحدات

٣- التقدير الأنسب لقياس سعة عبوة الحليب هو :



أ	١٠ مل	ب	٥٠ ل	ج	٢٠٠ مل	د	٢٠٠ ل

٤- اذا كان الكيلوجرام الواحد يساوي ١٠٠٠ جرام فكم جرامًا في ٧ كيلوجرام ؟

أ	٧ جرام	ب	٧٠ جرام	ج	٧٠٠ جرام	د	٧٠٠٠ جرام

٥- التقدير الأنسب لقياس طول النافذة هو :

أ	٢ ملم	ب	٢ سم	ج	٢ م	د	٢ كلم

٦- الوحدة الأنسب لقياس سعة بركة أطفال هي :

أ	مللتر	ب	لتر	ج	جرام	د	كيلو جرام

٧- التقدير الأنسب لكتلة مايلي هو :



أ	٥ جم	ب	٥ كجم	ج	٥٠٠ مل	د	٥٠٠ ل

٨- إذا أشار عقرب الدقائق على الرقم ٩ فإن عدد الدقائق الذي يشير إليها هو ؟

أ	١٠ دقائق	ب	٢٠ دقيقة	ج	٣٥ دقيقة	د	٤٥ دقيقة

٩- أي مما يلي يزيد وزنه عن ٢ كجم :

أ	تفاحة	ب	قلم رصاص	ج	ممحاة	د	طاولة الصف

١٠- اذا كان الوقت الظاهر على الساعة هو ٧ : ٤٥ فكم سيكون الوقت بعد ٨ دقائق ؟

أ	٧ : ٥٠	ب	٨ : ٥٣	ج	٧ : ٥٥	د	٧ : ٥٣

٧ : ٤٥ + ٨

Scanned with CamScanner

السوال الثاني : ضع علامة (✓) أمام العبارة الصحيحة وعلامة (✗) أمام العبارة الخاطئة فيما يلي :	٤
١- المحيط هو طول الإطار الخارجي لشكل	✓
٢- تستعمل الوحدات المكعبة لقياس الحجم .	✓
٣- من وحدات السعة الملمتر ويرمز له بـ (ملم) ✗ مل	✗
٤- الساعة الرقمية تظهر الزمن بالعقارب	✗

السؤال الثالث : أجب عن المطلوب فيما يلي : ٦

أ) أوجد محيط + الشكل المجاور :

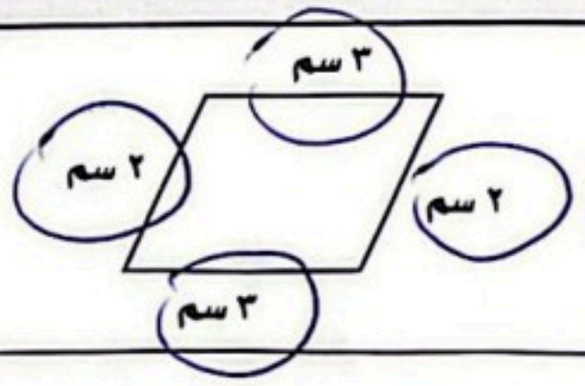

٢٠ = ٣ + ٢ + ٣ + ٢

ب) أوجد حجم المجسم التالي :

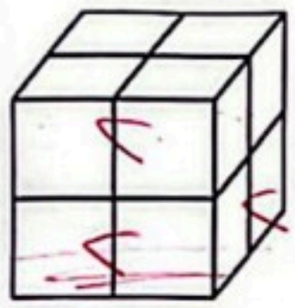

٢+٢
٢+٢

٨ وحدة مكعبة

ج) أوجد مساحة الجزء المظلل المجاور :



١٢ وحدة مربعة

د) أكتب الزمن الذي تشير إليه الساعة المجاورة :

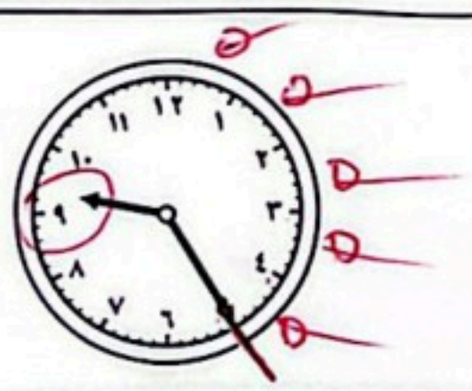

٩ : ٢٥

هـ) مع سلطان ٤٠ ريال وبالأمس كان معه أكثر من نصف هذا المبلغ بـ ٥ ريال فكم كان معه أمس ؟

النص ٢٠ + ٥ = ٢٥

٤٠
نصها ٢٠ + ٥

موقع واجباتي

Scanned with CamScanner

	المادة :رياضيات
	الصف :الثالث الابتدائي
	الزمن :
مدرسة	عدد الأوراق :

اختبار الفترة الثانية الفصل الدراسي الثاني للصف الثالث الابتدائي ١٤٤٧ هـ

الاسم	.....	الصف	/٣	الدرجة المستحقة	
					٢٠

السؤال الأول :اختر الإجابة الصحيحة لكل مما يلي بتظليل الحرف الدال عليها:

١٣

١	أختر الوحدة الأنسب لقياس ارتفاع الباب ؟							
	أ	الملمتر	ب	السنتمتر	ج	المتر	د	الكيلو متر
٢	أختر الوحدة الأنسب لقياس المسافة بين مدينتين ؟							
	أ	الملمتر	ب	السنتمتر	ج	المتر	د	الكيلو متر
٣	أي مما يأتي تقاس سعته باللتر (ل) ؟							
	أ	قطرة العين	ب	بركة السباحة	ج	فنجان قهوة	د	ملعقة
٤	أي مما يأتي تقاس كتلته بالجرام (جم) ؟							
	أ	بطيخه	ب	طفل	ج	بقرة	د	مشبك الورق
٥	أجد حجم المجسم المجاور ؟ 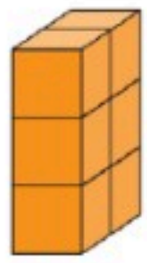							
	أ	٦ وحدات مكعبة	ب	٨ وحدات مكعبه	ج	١٠ وحدات مكعبة	د	١٢ وحدة مكعبة
٦	أوجد مساحة الشكل المجاور ؟ 							
	أ	٤ وحدات مربعة	ب	٥ وحدات مربعة	ج	٧ وحدات مربعة	د	٩ وحدات مربعة
٧	الزمن الذي تشير إلية الساعة الرقمية المجاورة هو : 							
	أ	الخامسة و عشرون دقيقة	ب	الخامسة وخمسة عشر دقيقة	ج	الخامسة	د	الرابعة والنصف

يتبع

السؤال الأول :اختر الإجابة الصحيحة لكل مما يلي بتظليل الحرف الدال عليها:

٨	مجسم له ٦ أوجه و ٨ رؤوس و ١٢ حرفا ؟							
	أ	مكعب	ب	مخروط	ج	كرة	د	اسطوانة
٩	إذا كان عقرب الدقائق يشير الى الرقم ٢ فما عدد الدقائق التي يشير إليها؟							
	أ	٥ دقائق	ب	٦ دقائق	ج	١٠ دقائق	د	٤٠ دقيقة
١٠	أي مما يأتي يعد مضلعا ؟							
	أ		ب		ج		د	
١١	ما اسم المضلع الذي له ٦ أضلاع و ٦ زوايا ؟							
	أ	رباعي	ب	خماسي	ج	سداسي	د	مثلث
١٢	الشكل التالي في النمط هو ؟ 							
	أ		ب		ج		د	
١٣	هل للشكل المجاور محور تماثل ، إذا كانت الإجابة نعم فكم محور تماثل له ؟ 							
	أ	نعم ، ١	ب	نعم ، ٤	ج	نعم ، ٥	د	لا

السؤال الثاني : صل العمود (أ) بما يناسبه في العمود (ب) ؟

العمود (أ)	العمود (ب)
	مخروط
	هرم رباعي
	اسطوانة
	كرة
	مكعب

٤

السؤال الثالث :حدد عدد الأضلاع وعدد الزوايا للشكل التالي ثم أكتب اسمه ؟

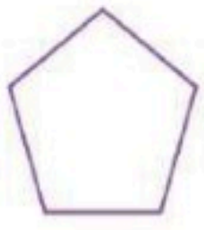

عدد الأضلاع = ...

عدد الزوايا = ...

اسمه .....

٣

معلم/ـــة المادة :

نموذج الإجابة

المادة :رياضيات	
الصف :الثالث الابتدائي	
الزمن :	
عدد الأوراق :	مدرسة

اختبار الفترة الثانية الفصل الدراسي الثاني للصف الثالث الابتدائي ١٤٤٧ هـ

الاسم	.....	الصف	/٣	الدرجة المستحقة	
					٢٠

السؤال الأول :اختر الإجابة الصحيحة لكل مما يلي بتظليل الحرف الدال عليها:

١٣

١ أختر الوحدة الأنسب لقياس ارتفاع الباب ؟

أ الملمتر ب السنتمتر ج المتر د الكيلو متر

٢ أختر الوحدة الأنسب لقياس المسافة بين مدينتين ؟

أ الملمتر ب السنتمتر ج المتر د الكيلو متر

٣ أي مما يأتي تقاس سعته باللتر (ل) ؟

أ قطرة العين ب بركة السباحة ج فنجان قهوة د ملعقة

٤ أي مما يأتي تقاس كتلته بالجرام (جم) ؟

أ بطيخه ب طفل ج بقرة د مشبك الورق

٥ أجد حجم المجسم المجاور ؟

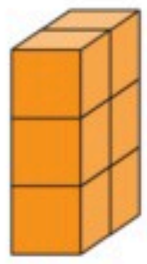

أ ٦ وحدات مكعبة ب ٨ وحدات مكعبه ج ١٠ وحدات مكعبة د ١٢ وحدة مكعبة

٦ أوجد مساحه الشكل المجاور ؟



أ ٤ وحدات مربعة ب ٥ وحدات مربعة ج ٧ وحدات مربعة د ٩ وحدات مربعة

٧ الزمن الذي تشير إلية الساعة الرقمية المجاورة هو :



أ الخامسة و عشرون دقيقة ب الخامسة وخمسة عشر دقيقة ج الخامسة د الرابعة والنصف

يتبع

السؤال الأول :اختر الإجابة الصحيحة لكل مما يلي بتظليل الحرف الدال عليها:

٨	مجسم له ٦ أوجه و ٨ رؤوس و ١٢ حرفا ؟							
	أ	مكعب	ب	مخروط	ج	كرة	د	اسطوانة
٩	إذا كان عقرب الدقائق يشير الى الرقم ٢ فما عدد الدقائق التي يشير إليها؟							
	أ	٥ دقائق	ب	٦ دقائق	ج	١٠ دقائق	د	٤٠ دقيقة
١٠	أي مما يأتي يعد مضلعا ؟							
	أ	⬭	ب	☁	ج	◠	د	□
١١	ما اسم المضلع الذي له ٦ أضلاع و ٦ زوايا ؟							
	أ	رباعي	ب	خماسي	ج	سداسي	د	مثلث
١٢	الشكل التالي في النمط هو ؟ 							
	أ	⏢	ب	●	ج	▲	د	◣
١٣	هل للشكل المجاور محور تماثل ، إذا كانت الإجابة نعم فكم محور تماثل له ؟ ☺							
	أ	نعم ، ١	ب	نعم ، ٤	ج	نعم ، ٥	د	لا

السؤال الثاني : صل العمود (أ) بما يناسبه في العمود (ب) ؟

العمود (أ)	العمود (ب)
	مخروط
	هرم رباعي
	اسطوانة
	كرة
	مكعب

٤

موقع واجباتي

السؤال الثالث :حدد عدد الأضلاع وعدد الزوايا للشكل التالي ثم أكتب اسمه ؟

٣

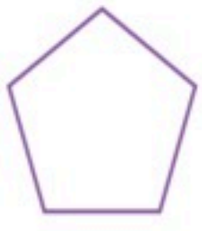

عدد الأضلاع = ...

عدد الزوايا = ...

اسمه .....

مصلح حماد

موقع واجباتي

معلم/ـــة المادة :

اختبار الفترة الثانية الفصل الدراسي الثاني - لمادة الرياضيات

الصف الثالث الابتدائي عام 1447هـ

٢٠

الأسم :.....

اختار الإجابة الصحيحة فيما يلي (إجابة واحدة فقط)

1- التقدير الأنسب لقياس طول نافذة هو:

أ	2ملم	ب	2سم	ج	2م	د	2كلم

2- يتكرر في نمط مربع ودائرتان . الشكل الثاني عشر في هذا النمط هو:

أ	دائرة	ب	شبه نحرف	ج	مستطيل	د	مربع

3- التقدير الأنسب لقياس سعة حوض استحمام هو:

أ	40 ل	ب	40 مل	ج	40 م	د	40 كلم

4- حجم المجسم في الشكل المجاور هو:

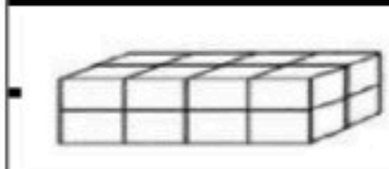

أ	4 وحدة مكعبة	ب	8 وحدة مكعبة	ج	16 وحدة مكعبة	د	32 وحدة مكعبة

5- اذا كان عقرب الدقائق يشير إلى الرقم 3 ، فإن عدد الدقائق التي يشير إليها هو :

أ	3	ب	15	ج	20	د	30

أكمل الفراغات الاتية بما يناسبها:

1	الوحدة المناسبة لقياس المسافة بين الرياض ومكة المكرمة هي .....
2	المجسم الذي له 6 أوجه مربعة الشكل و 8 رؤوس و 12 حرفاً هو.....
3	مضلع له 6 أضلاع و6 رؤوس هو.....
4	الوحدة المناسبة لقياس كتلة كيس أرز هي .....
5	الوحدة المناسبة لقياس سعة ملعقة هي .....
6	الزمن الذي تشير إليه الساعة في الشكل المجاور هو .....



هل للشكل محور تماثل ؟اكتب "نعم" أو "لا"، واذا كانت الإجابة "نعم" أذكر كم محور تماثل له:

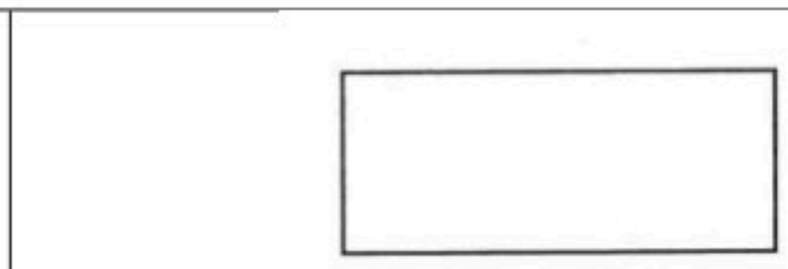



أسمي المجسمات التالية:

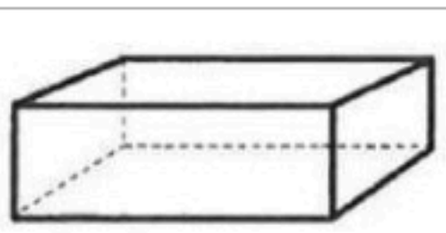

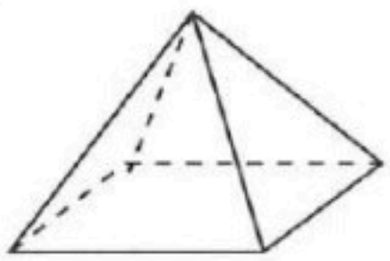

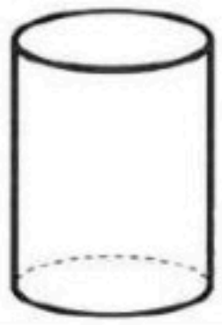

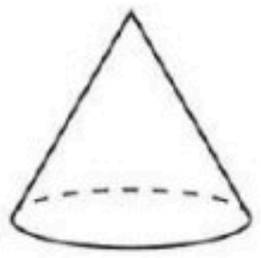

أجد محيط كل شكل مما يأتي :

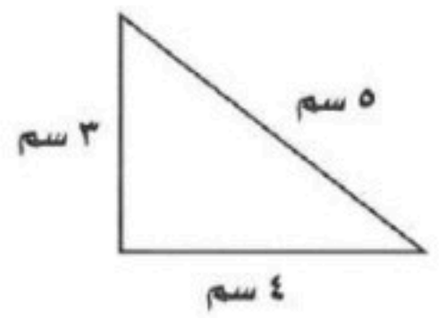

.....

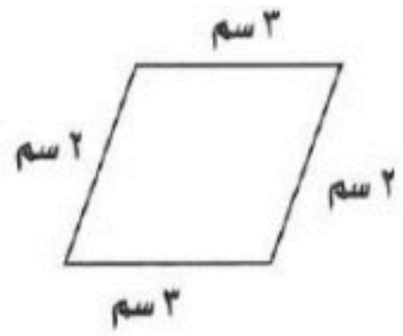

.....

أجد مساحة كل شكل مما يأتي :

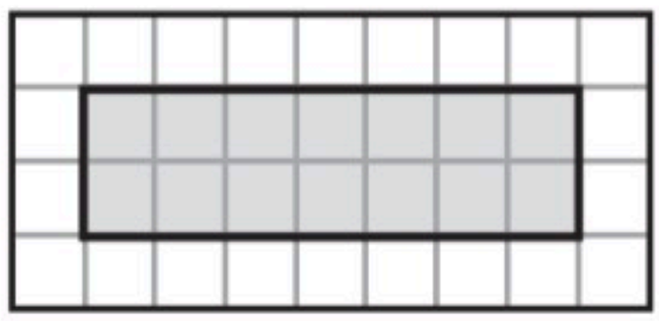

.....

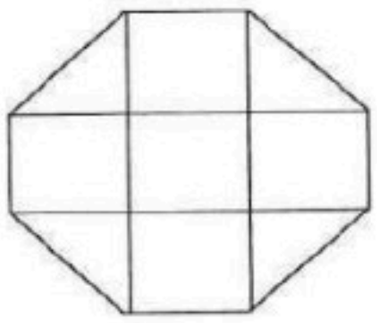

.....

انتهت الأسئلة ..

أ/عهود

ابتدائية		المادة : رياضيات الصف : الثالث **الاسم :** .....
اختبار الفترة الثانية الفصل الدراسي الثاني لمادة الرياضيات لعام ١٤٤٧ هـ		

السؤال الأول :

اختر الإجابة الصحيحة فيما يأتي :

من وحدات الطول المترية		
جم	**ل**	**م**
الوحدة المناسبة لقياس طول النملة		
م	**ملم**	**كلم**
الوحدة المناسبة لقياس المسافة بين جدة ومكه		
سم	**ملم**	**كلم**
الوحدة المناسبة لقياس طول باب غرفة الصف		
كلم	**م**	**ل**
قرر عمر ومحمود صنع مجسمين حجم كل منهما ٦ وحدات مكعبة فأيهما صنع المجسم الصحيح: 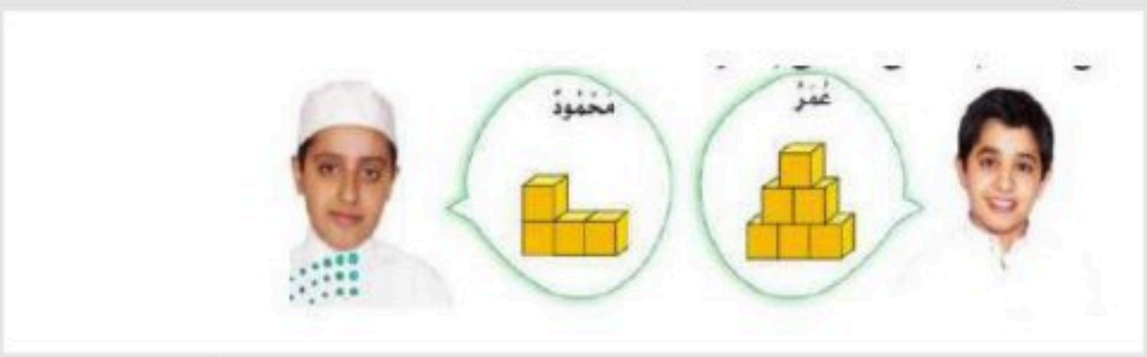		
عمر	**محمود**	**كلاهما خطأ**
الوحدة ألانسب لقياس كتلة الفيل 		
كجم		**جم**
الوحدة المناسبة لقياس سعة ملعقة 		
ل		**مل**
الوحدة المناسبة لقياس قلم الرصاص 		
سم		**كلم**
هل لشكل محور تماثل 		
نعم		**لا**

الزمن الذي تشير الية الساعة الرقمية 		
الثانية عشر تماما	**الثانية عشر و ثلاثون دقيقة**	**الرابعة و ثلاثون دقيقة**
يسمى المجسم 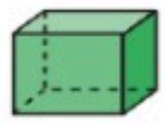		
مكعب	**كره**	**اسطوانه**
يسمى المجسم 		
متوازي مستطيلات	**اسطوانة**	**هرم رباعي**
المجسم الذي له راس واحد و وجهة واحد على شكل دائرة		
		
المجسم الذي ليس له راس وليس له حرف وليس له وجه		
		

السؤال الثاني :

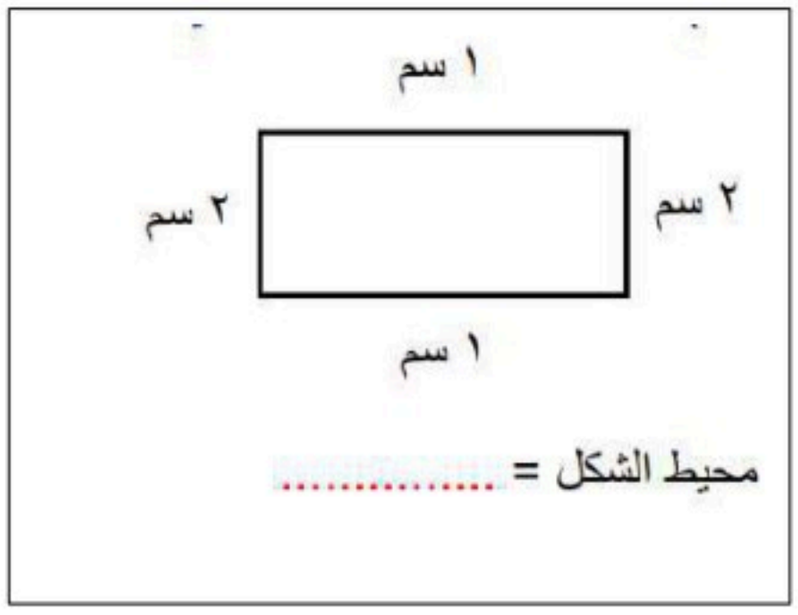

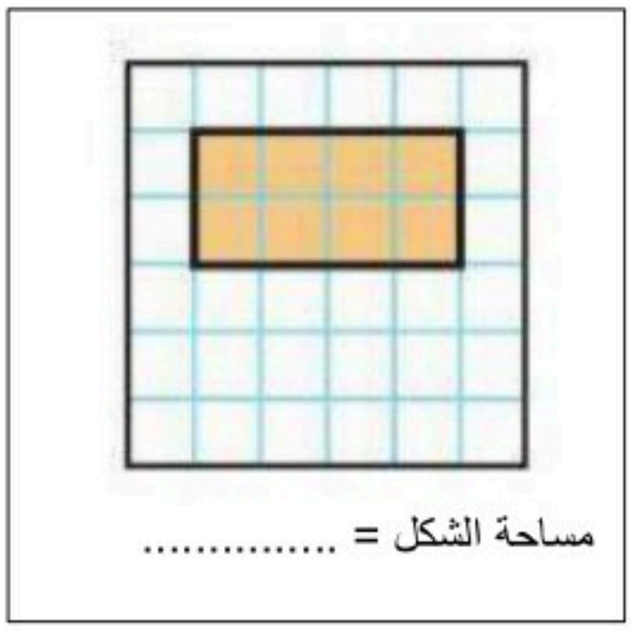

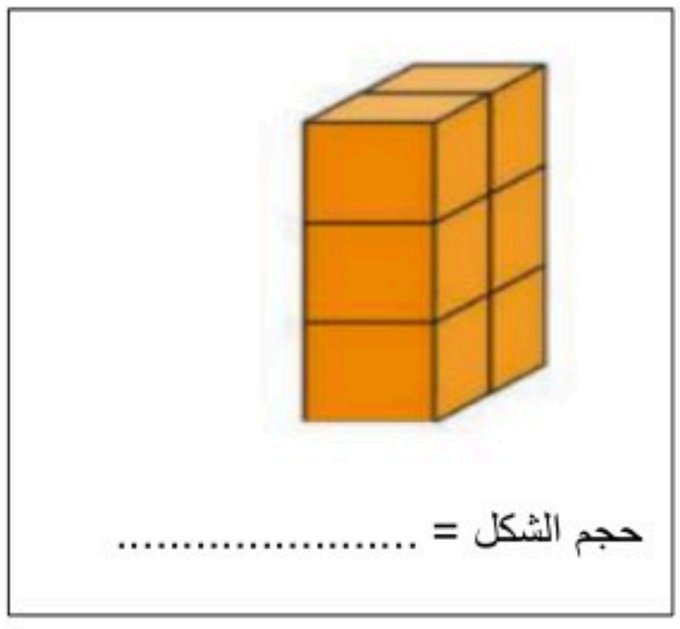

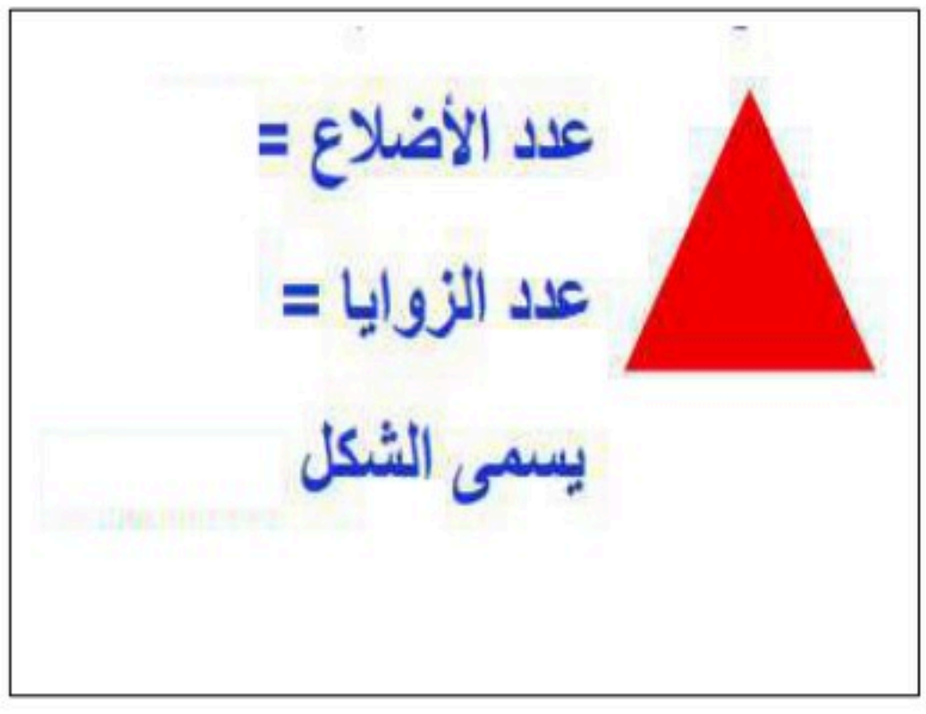

تمنياتي لكن صغيراتي بالتوفيق

ابتدائية		المادة : رياضيات الصف : الثالث **الاسم :** .....

اختبار الفترة الثانية الفصل الدراسي الثاني لمادة الرياضيات لعام ١٤٤٧ هـ

السؤال الأول :

اختر الإجابة الصحيحة فيما يأتي :

من وحدات الطول المترية		
جم	ل	م
الوحدة المناسبة لقياس طول النملة		
م	ملم	كلم
الوحدة المناسبة لقياس المسافة بين جدة ومكه		
سم	ملم	كلم
الوحدة المناسبة لقياس طول باب غرفة الصف		
كلم	م	ل
قرر عمر ومحمود صنع مجسمين حجم كل منهما ٦ وحدات مكعبة فأيهما صنع المجسم الصحيح: 		
عمر	محمود	كلاهما خطأ
الوحدة المناسبة لقياس كتلة الفيل 		
كجم		جم
الوحدة المناسبة لقياس سعة ملعقة 		
ل		مل
الوحدة المناسبة لقياس قلم الرصاص 		
سم		كلم
هل لشكل محور تماثل 		
نعم		لا

موقع واجباتي

غـيـــــ عطاء ـمـــة





الزمن الذي تشير الية الساعة الرقمية	12:30	
الثانية عشر تماما	**الثانية عشر و ثلاثون دقيقة**	**الرابعة و ثلاثون دقيقة**
يسمى المجسم		
مكعب	**كره**	**اسطوانه**
يسمى المجسم		
متوازي مستطيلات	**اسطوانة**	**هرم رباعي**
المجسم الذي له راس واحد و وجهة واحد على شكل دائرة		
المجسم الذي ليس له راس وليس له حرف وليس له وجه		















السؤال الثاني :

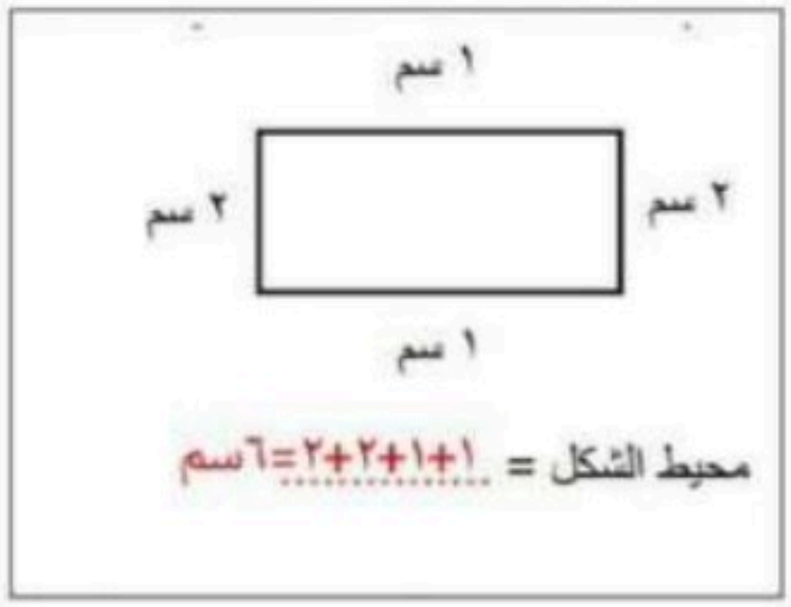





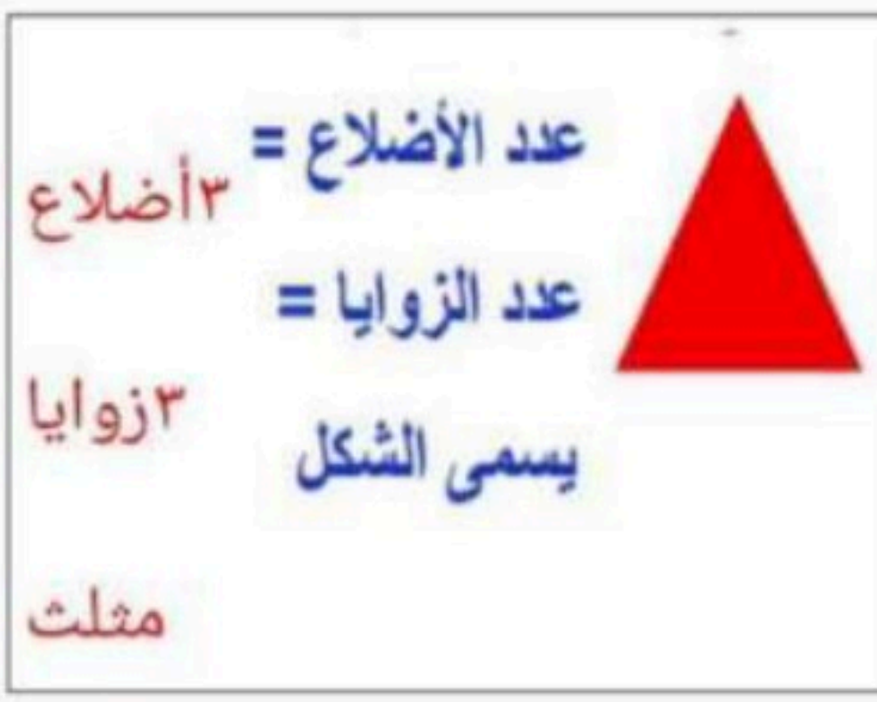

١ سم

٢ سم ٢ سم

١ سم

محيط الشكل = ١+١+٢+٢=٦سم

مساحة الشكل = ٨ وحدات

حجم الشكل = ٦وحدات

عدد الأضلاع = ٣أضلاع

عدد الزوايا = ٣زوايا

يسمى الشكل مثلث

موقع واجباتي

غيـــــ عطاء ـمـة

تمنياتي لكن صغيراتي بالتوفيق

ابتدائية الشقيق		الدرجة: _____ ٢٠

اختبار رياضيات للصف الثالث الابتدائي الفترة الثانية – الفصل الدراسي الثاني – ١٤٤٧ هـ

اسم الطالبة: ..... الصف: ثالث ( )

السؤال الأول: اختر الإجابة الصحيحة في كل مما يأتي:

١) الوحدة المناسبة لقياس المسافة بين مدينة الرياض وجازان هي:

أ) السنتمتر	ب) المتر	ج) الكيلو متر	د) الجرام

٢) ما حجم الجسم الذي امامك بالصورة؟



أ) ١٠وحدات مكعبة	ب)٥وحدات مكعبة	ج) ٧ وحدات مكعبة	د) ٩ وحدات مكعبة

٣) إذا كان عقرب الدقائق يشير الى الرقم ٣، فما عدد الدقائق التي يشير اليها ؟

أ) ١٥ د	ب) ٢٠ د	ج) ١٠ د	د) ٣٠ د

٤) الوحدة المناسبة لقياس طول ارتفاع الباب هي:

أ) الملمتر	ب) المتر	ج) السنتمتر	د) الكيلو جرام

٥) اختاري التقدير الأنسب لسعة ملعقة:



أ) ٢ ل	ب) ٢ مل	ج) ٤ جم	د) ٤٠ كجم

٦) اختاري التقدير الأنسب لكتلة سيارة:

أ) ١٠٠٠ جم	ب) ١٠٠٠ كجم	ج) ١٠٠٠ ل	د) ١٠٠٠ مل

٧) اختاري الوحدة المناسبة لقياس كتلة تفاحة:

أ) جم	ب) كجم	ج) ل	د) مل

٨) اختاري الوحدة المناسبة لقياس سعة حوض سمك:

أ) مل	ب) ل	ج) جم	د) كجم

٩) يسمى المجسم التالي:

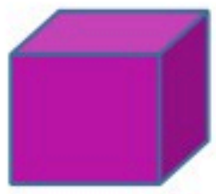

(أ) مكعب	(ب) كرة	(ج) اسطوانة	(د) مخروط

١٠) يسمى المجسم التالي:



(أ) متوازي مستطيلات	(ب) هرم رباعي	(ج) اسطوانة	(د) كرة

(ب) ضع إشارة (√) أمام العبار الصحيحة. وإشارة (×) أمام العبارة الخاطئة فيما يأتي:

١)المساحة هي طول المسافة حول الإطار الخارجي لشكل معين	( )
(٢) ساعة العقارب تظهر الوقت بالأرقام	( )
(٣) تستعمل الوحدات المكعبة لقياس الحجم	( )
(٤) المجسم الذي له رأس واحد ووجه واحد على شكل دائرة يسمى مخروط	( )
(٥) المجسم الذي ليس له رأس وليس له حرف وليس له وجه يسمى كره	( )

السؤال الثاني:

أ)أوجدي محيط المثلث ؟

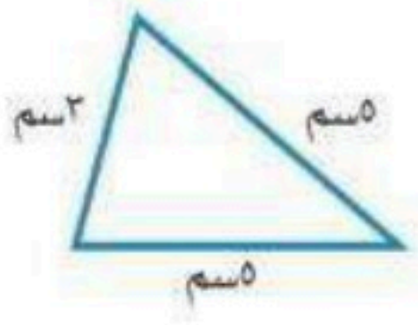

المحيط = ...

ب) اكتبي الوقت الذي تشير اليه الساعة؟



..... : .....

ج) أوجدي مساحة الشكل التالي ؟

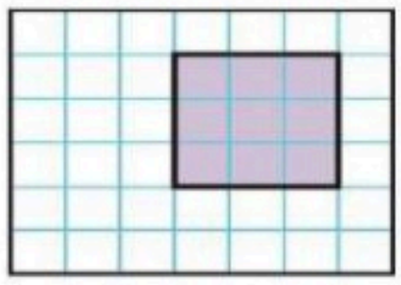

المساحة = ...

د) صف كل شكل مما يلي مستعملا" عدد الاضلاع وعدد الزوايا ثم سميه:



عدد الاضلاع=.....

عدد الزوايا=.....

يسمى الشكل.....



عدد الاضلاع=.....

عدد الزوايا=.....

يسمى الشكل.....

انتهت الأسئلة

معلمة المادة / شذا الصحفي

نموذج الإجابة

ابتدائية الشقيق		الدرجة: _____ ٢٠

اختبار رياضيات للصف الثالث الابتدائي الفترة الثانية – الفصل الدراسي الثاني – ١٤٤٧ هـ

اسم الطالبة: ..... الصف: ثالث ( )

السؤال الأول: اختر الإجابة الصحيحة في كل مما يأتي:

١) الوحدة المناسبة لقياس المسافة بين مدينة الرياض وجازان هي:

أ) السنتمتر	ب) المتر	ج) الكيلو متر	د) الجرام

٢) ما حجم الجسم الذي امامك بالصورة؟



أ) ١٠وحدات مكعبة	ب)٥وحدات مكعبة	ج) ٧ وحدات مكعبة	د) ٩ وحدات مكعبة

٣) إذا كان عقرب الدقائق يشير الى الرقم ٣، فما عدد الدقائق التي يشير اليها ؟

أ) ١٥ د	ب) ٢٠ د	ج) ١٠ د	د) ٣٠ د

٤) الوحدة المناسبة لقياس طول ارتفاع الباب هي:

أ) الملمتر	ب) المتر	ج) السنتمتر	د) الكيلو جرام

٥) اختاري التقدير الأنسب لسعة ملعقة:



أ) ٢ ل	ب) ٢ مل	ج) ٤ جم	د) ٤٠ كجم

٦) اختاري التقدير الأنسب لكتلة سيارة:

أ) ١٠٠٠ جم	ب) ١٠٠٠ كجم	ج) ١٠٠٠ ل	د) ١٠٠٠ مل

٧) اختاري الوحدة المناسبة لقياس كتلة تفاحة:

أ) جم	ب) كجم	ج) ل	د) مل

٨) اختاري الوحدة المناسبة لقياس سعة حوض سمك:

أ) مل	ب) ل	ج) جم	د) كجم

٩) يسمى المجسم التالي:



(أ) مكعب	(ب) كرة	(ج) اسطوانة	(د) مخروط

١٠) يسمى المجسم التالي:



(أ) متوازي مستطيلات	(ب) هرم رباعي	(ج) اسطوانة	(د) كرة

(ب) ضع إشارة (√) أمام العبار الصحيحة. وإشارة (×) أمام العبارة الخاطئة فيما يأتي:

١)المساحة هي طول المسافة حول الإطار الخارجي لشكل معين	(×)
(٢) ساعة العقارب تظهر الوقت بالأرقام	(×)
(٣) تستعمل الوحدات المكعبة لقياس الحجم	(√)
(٤) المجسم الذي له رأس واحد ووجه واحد على شكل دائرة يسمى مخروط	(√)
(٥) المجسم الذي ليس له رأس وليس له حرف وليس له وجه يسمى كره	(√)

السؤال الثاني:

أ)أوجدي محيط المثلث ؟

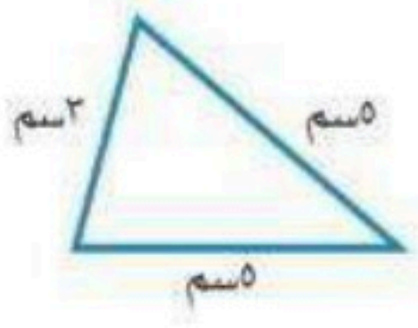

المحيط = ... ٣+٥+٥ = ١٣سم

ب) اكتبي الوقت الذي تشير اليه الساعة؟



..... ١٠ : ١٠ .....

ج) أوجدي مساحة الشكل التالي ؟

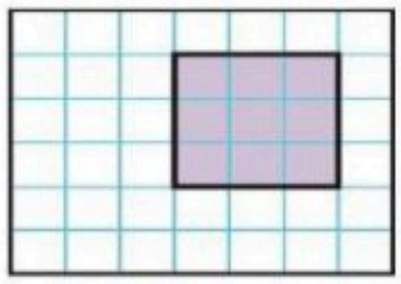

المساحة = ... ٩ وحدات مربعه .....

د) صف كل شكل مما يلي مستعملا" عدد الاضلاع وعدد الزوايا ثم سميه:

عدد الاضلاع=.....٣.....

عدد الزوايا=.....٣.....

يسمى الشكل.....مثلث.....



عدد الاضلاع=.....٨.....

عدد الزوايا=.....٨.....

يسمى الشكل.....مثمن.....

انتهت الأسئلة

معلمة المادة / شذا الصحفي

موقع واجباتي

اختبار الفترة الثانية الفصل الدراسي **الثاني**

اسم الطالبة :..... الصف : ثالث

س1 /اكتبي اسم المجسم لكل مماياتي :

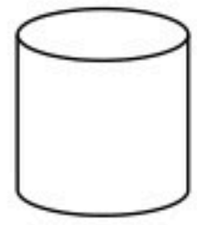

.....

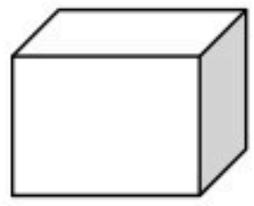

.....

س2 /سمي كل شكل مستو ي :

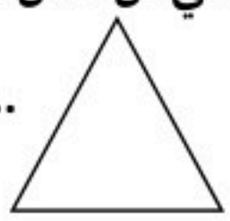

.....

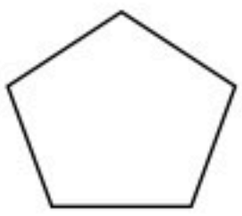

.....

س3/هل للشكل محور تناظر ؟ وارسميه إن وجد



.....



.....

س4/ من خلال التمثيل بالرموز



أي البقالات هي الأكثر بيعاً للحليب ؟ .....

أي البقالات هي الأقل بيعاً للحليب ؟.....

س5/من خلال التمثيل بالاعمدة اجيبي عما يلي :

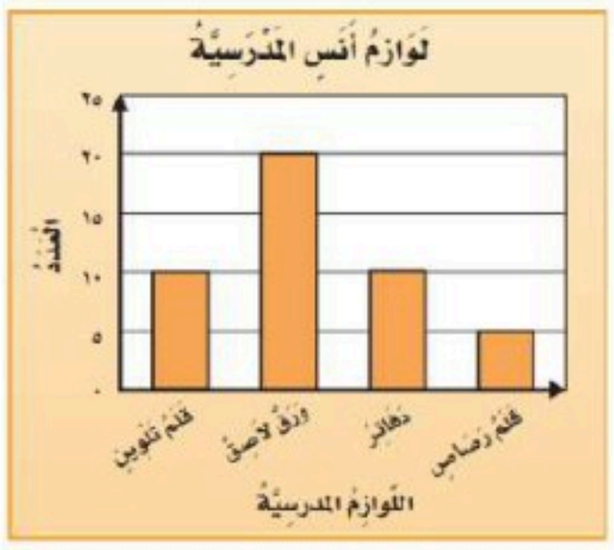

ما عدد الدفاتر لدى انس ؟ .....

ما عدد الأوراق الاصقة ؟ .....

س6/في كيس 8 كرات زرقاء و 1 حمراء

صف احتمال اختيار كرة زرقاء ؟ .....

صفي احتمال اختيار كرة صفراء ؟ .....

الصف : .....

المادة : رياضيات .

الفتره : الثانية

الاسم : ..... **حل اختبار الفترة الثانية**

السؤال الأول : اختار الإجابة الصحيحة فيما يلي :

١ (.....) هو مجسم له ٦ أوجه و ١٢ حرف و٨ رؤوس

أ) المكعب ب) المخروط ج) الكره

٢



أ) كره ب) متوازي مستطيلات جـ) مخروط

٣ رسمت أمل شكل له ٦ أضلاع و٦ زواياها ، فما اسم هذا الشكل ؟

أ) مثلث ب) شكل رباعي جـ) شكل سداسي .

٤ اصف هذا الشكل :



أ) له ٣ أضلاع ، و٣ زوايا ب) له ٤ أضلاع ، و ٤زوايا جـ) له ٥ أضلاع ، و ٥ زوايا

٥ إِذَا تَكَرَّرَ النَّمَطُ أَدْنَاهُ ٧ مَرَّاتٍ أُخْرَى، فَكَمْ سَيَكُونُ عَدَدُ جَمِيعِ الْمُثَلَّثَاتِ فِيهِ؟



أ) مثلث واحد فقط ب) ٣ مثلثات جـ) ٩ مثلثات

٦ أُحَدِّدُ عَدَدَ مَحاوِرِ التَّماثُلِ لِلشَّكْلِ المجاوِرِ:



أ) ٠ ب) ١ جـ) ٢

٧ **باستعمال التمثيل المجاور عدد الطلاب الذين كتبو عن قارة استراليا يساوي .....**



أ) ٩ طلاب
ب) ٤ طلاب
جـ) طالب واحد فقط

٨ **ماهي الدوله التي كتب عنها أكثر عدد من الطلاب :**

أ) آسيا
ب) أوروبا
جـ) إفريقيا

٩ من خلال التمثيل أدناه ، ماهو العصير الذي يفضله اقل عدد من الأشخاص ؟

أ) برتقال .
ب) مانجو
جـ) أناناس

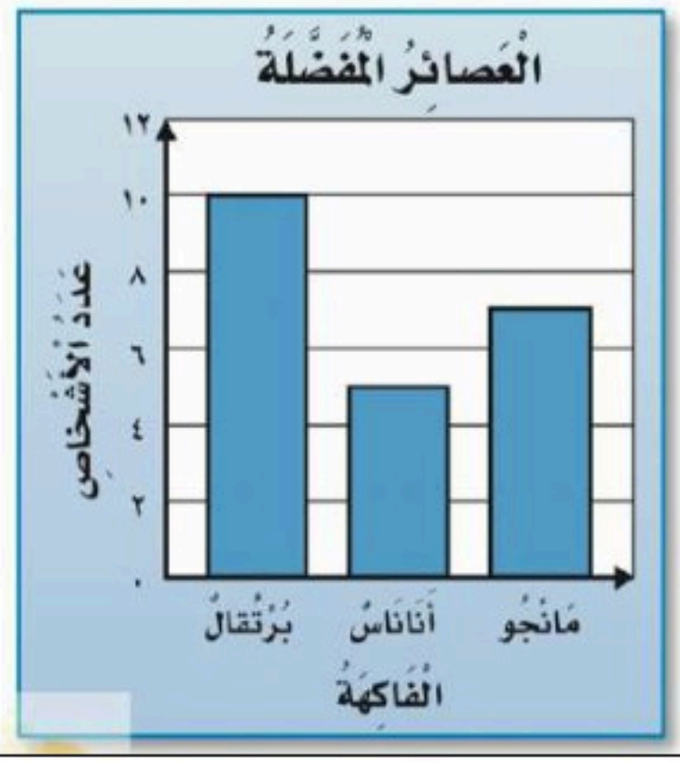

١٠ **أَصِفُ احْتِمَالَ اخْتِيَارِ لون أصفر من هذه المجموعه**



أ) مستحيل ب) أكيد جـ) أكثر احتمالاً

انتهت الأسئلة تمنياتي لكم بالتوفيق.

المدرسة :.....		**المـــــادة :** رياضيات **الصـف :** الثالث **التاريخ :** / /١٤٤٧هـ

اختبار الفصل ٨ من الفصل الدراسي الثاني لعام ١٤٤٧هـ

الاسـم :	**الدرجة المستحقة**	

ابدأ مستعن بالله في حل جميع الأسئلة التالية :

السؤال الأول : اختر الإجابة الصحيحة بوضع علامة (✓) أمام الاختيار الصحيح فيما يلي :

١ قَدِّرُ طُولَ ِمَّا يَأتِي، ثُمَّ أوجد قياسه مقرباً إِلَى أَقرَبِ مِلِّيمِتْرٍ وَإِلَى أَقرَبِ سِنْتِيمِتْرٍ .



أ	٣٠ ملم ≈ ٣ سم	ب	٤٠ ملم ≈ ٤ سم	ج	٢٠ ملم ≈ ٢ سم

٢ أَخْتَرُ أَفضَلَ تَقْدِيرٍ: لطُولُ قَلَمِ السَّبُّورَةِ.

أ	١٠ ملم	ب	١٠ سم	ج	٢سم

٣ الوَثْبُ الطَّوِيلُ :يَبْقَى الرَّقَمُ العَالَمِيُّ فِي الوَثْبِ الطَّوِيلِ ثَابِتًا لِسَنَوَاتٍ عَدِيدَةٍ.
مَا التَّقْدِيرُ الأَفْضَلُ لِلْمَسَافَةِ الَّتِي وَثَبَهَا صَاحِبُ الرَّقْمِ العَالَمِيِّ: ٩ م أَم ٩ كِلْم؟



أ	٩ م	ب	٩ كِلْم	ج	-

٤ أَخْتَارُ الوَحْدَةَ الأَنْسَبَ لِقِيَاسِ طُولُ نَمْلَةٍ:

أ	المِلِّيمِتْر	ب	المِتْر	ج	الكِيلُومِتْر

٥ اليومُ أَصْبَحَ مَعَ فَاطِمَةَ ٣٦ قَلَمًا، وَقَدْ كَانَ مَعَهَا أَمْسِ نِصْفُ هَذَا العَدَدِ زَائِدَ اثْنَيْنِ، فَكَمْ كَانَ مَعَهَا أَمْسِ؟

أ	١٦	ب	٢٠	ج	١٨

٦ أيُّ العباراتِ الآتيةِ تُعَرِّفُ المُحِيطَ تعريفًا صحيحًا؟

أ	هو طولُ الإطارِ الخارجيِّ للشكل.	ب	هو المساحةُ داخلَ الشكل.	ج	هو عددُ أضلاعِ الشكل.

٧ ما مُحِيطُ الشَّكْلِ المُظَلَّلِ؟

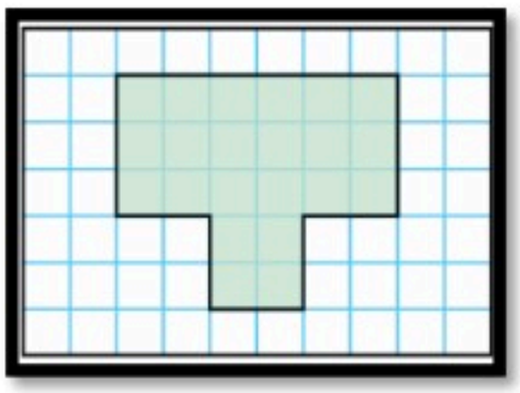

أ	٢٢ وحدة مربعة	ب	١٥ وحدة مربعة	ج	٢٠ وحدة مربعة

٨ ما مِسَاحَةُ الشَّكْلِ المُظَلَّلِ؟

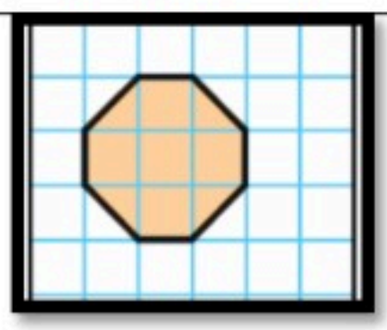

أ	٥ وَحَدَاتٍ مُرَبَّعَةٍ	ب	٦ وَحَدَاتٍ مُرَبَّعَةٍ	ج	٧ وَحَدَاتٍ مُرَبَّعَةٍ

٩	أَيُّ المُجَسَّمَاتِ الآتِيَةِ حَجْمُهُ أَقَلُّ مِنْ ٧ وَحَدَاتٍ مُكَعَّبَةٍ؟						
	أ	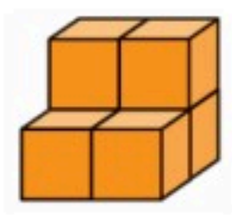	ب	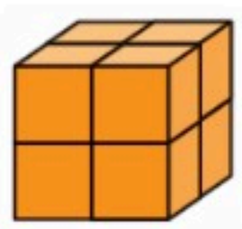	ج	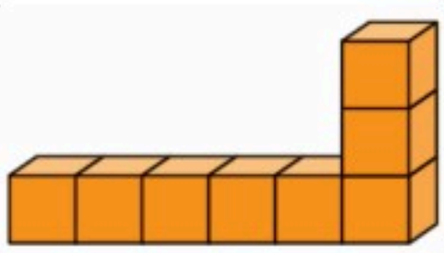	
١٠	أَخْتَرِ الوَحْدَةَ الأَنْسَبَ لِقِيَاسِ سَعَةِ الكُوبِ المُجَاوِرِ. 						
	أ	١٠ مل	ب	١٠٠ مل	ج	٥ ل	
١١	تُوَضِّحُ السَّاعَتَانِ أَدْنَاهُ مَتَى بَدَأَ مُحَمَّدٌ تَرْتِيبَ غُرْفَتِهِ، وَمَتَى انْتَهَى مِنْ ذَلِكَ. كَمِ اسْتَغْرَقَ مِنَ الوَقْتِ فِي تَرْتِيبِ غُرْفَتِهِ؟ 						
	أ	سَاعَةً وَاحِدَةً	ب	سَاعَةً وَنِصْفًا	ج	سَاعَتَيْنِ وَنِصْفًا	

السؤال الثاني :

٢- ضع علامة (✓) أمام العبارة الصحيحة، وعلامة (✗) أمام العبارة الخاطئة:

١	المساحة هي عدد الوحدات المربعة اللازمة لتغطية شكل ما من غير تداخل.	
٢	المحيط هو طول الإطار الخارجي للشكل.	
٣	الطول هو قياس المسافة بين نقطتين.	
٤	السعة هي مقدار ما يمكن أن يحويه وعاء من سائل.	
٥	الكتلة هي مقدار ما يحويه الجسم من مادة.	
٦	الحجم هو عدد الوحدات المكعبة اللازمة لملء حيز يشغله جسم معين.	
٧	الحجم يقاس بالوحدات المكعبة.	
٨	من وحدات الطول: المليمتر والسنتيمتر والمتر والكيلومتر	
٩	المساحة تقاس بالوحدات المربعة	
١٠	من وحدات السعة: اللتر والمليلتر.	
١١	من وحدات الكتلة: الجرام والكيلوجرام.	

انتهت الأسئلة وأسأل الله لكم التوفيق ,,,

بسم الله الرحمن الرحيم			
			اسم الطالب :
	٢٠		المادة : رياضيات
			الصف : الثالث ابتدائي
مدرسة			

اختبار الفترة الثانية الفصل الدراسي الثاني [الدور الأول] لعام ١٤٤٧هـ

٢٠

السؤال الأول : اختر الإجابة الصحيحة فيما يأتي :.

١) الوحدة المناسبة لقياس المسافة بين مدينة الرياض وجازان هي:		
أ) السنتمتر	ب) المتر	ج) الكيلو متر
٢) ماحجم المجسم أدناه ؟ 		
أ) ٨ وحدات مكعبة	ب) ١٠ وحدات مكعبة	ج) ٧ وحدات مكعبة
٣) إذا كان عقرب الدقائق يشير الى الرقم ٣ ، فما عدد الدقائق التي يشير اليها		
أ) ١٥	ب) ٢٠	ج) ١٠
٤) الوحدة المناسبة لقياس طول كتاب الرياضيات هي:		
أ) السنتمتر	ب) الملمتر	ج) المتر
٥) الوحدة المناسبة لقياس طول إرتفاع الباب هي:		
أ) الملمتر	ب) المتر	ج) السنتمتر

السؤال الثاني: ضع علامة (√) أمام العبارة الصحيحة وعلامة (×) أمام العبارة غير الصحيحة :.

١) المساحة هي طول المسافة حول الإطار الخارجي لشكل معين	
٢) تستعمل الوحدات المكعبة لقياس الحجم	

السؤال الثالث:أجب عن الأسئلة التالية :.

أوجد محيط المثلث المجاور ؟ 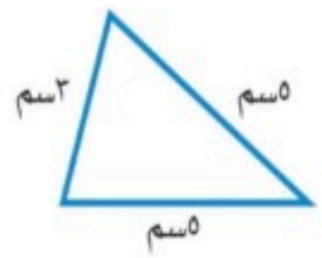	أوجد محيط المستطيل المظلل ؟ 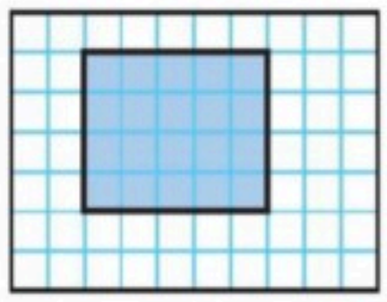
أوجد محيط الشكل المجاور ؟ 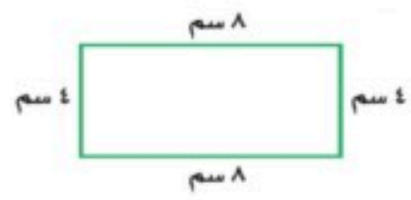	أوجد مساحة الشكل التالي ؟ 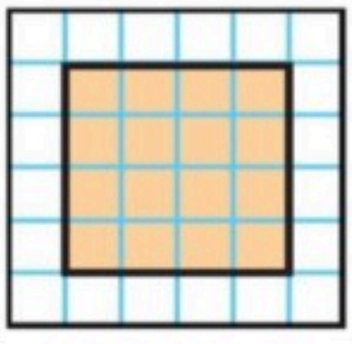

انتهت الأسئلة

أأحمد الاحمدي
@ahmad9963

مجموعة رفعة الرياضيات

بسم الله الرحمن الرحيم			
			اسم الطالب :
	٢٠		المادة : رياضيات
			الصف : الثالث ابتدائي
مدرسة			

اختبار الفترة الثانية الفصل الدراسي الثاني لعام ١٤٤٧هـ

١٢

السؤال الأول : اختر الإجابة الصحيحة فيما يأتي :.

١) ..... هو مجسم له ٦ أوجه و ١٢ حرف و ٨ رؤوس		
أ) المكعب	ب) الكرة	ج) المخروط
٢) حدد عدد محاور التماثل للشكل المجاور 		
أ) ٠	ب) ١	ج) ٢
٣) شكل له وجهان وليس له أحرف		
أ) أسطوانة	ب) مخروط	ج) مكعب
٤) كم يزيدعدد الطلاب الذين يفضلون الفطائر بالزعتر عن الذين يفضلون الفطائر بالجبن ؟ 		
أ) ١	ب) ٢	ج) ٣
٥) التمثيل بالرموز الموضح أدناه يظهر عدد الميداليات التي تم الحصول عليها في كل لعبة من ألعاب القوى ، فما عدد الميداليات الكلي ؟ 		
أ) ١٢	ب) ١١	ج) ٦

السؤال الثاني: ضع علامة (√) أمام العبارة الصحيحة وعلامة (×) أمام العبارة غير الصحيحة

١)البيانات التي نحصل عليها من عملية المسح ، يمكن تمثيلها بلوحة إشارات	
٢) التمثيل بالأعمدة لا يجتاج إلى تدريج	

٨

السؤال الثالث:أجب عن الأسئلة التالية

أ) أصف احتمال وقوف المؤشر عند كل لون من ألوان القرص واكتب

(أكيد ، أكثر احتمالًا ، أقل احتمالًا ، مستحيل)



أخضر ..... أزرق .....

أصفر ..... أزرق أو أحمر أو أخضر .....

ب) أحدد اسم كل مجسم مما يأتي :.



.....



.....



.....

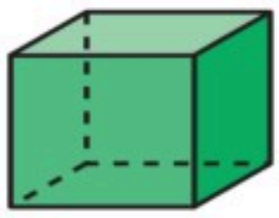

.....

انتهت الأسئلة

أأحمد الاحمدي
@ahmad9963

بسم الله الرحمن الرحيم

نموذج الإجابة

اسم الطالب :	
المادة : رياضيات	
الصف : الثالث ابتدائي	
مدرسة	

اختبار الفترة الثانية الفصل الدراسي الثاني لعام ١٤٤٧هـ

١٢

السؤال الأول : اختر الإجابة الصحيحة فيما يأتي :.

١) ..... هو مجسم له ٦ أوجه و ١٢ حرف و ٨ رؤوس		
أ) المكعب	ب) الكرة	ج) المخروط
٢) حدد عدد محاور التماثل للشكل المجاور 		
أ) ٠	ب) ١	ج) ٢
٣) شكل له وجهان وليس له أحرف		
أ) أسطوانة	ب) مخروط	ج) مكعب
٤) كم يزيدعدد الطلاب الذين يفضلون الفطائر بالزعتر عن الذين يفضلون الفطائر بالجبن ؟ 		
أ) ١	ب) ٢	ج) ٣
٥) التمثيل بالرموز الموضح أدناه يظهر عدد الميداليات التي تم الحصول عليها في كل لعبة من ألعاب القوى ، فما عدد الميداليات الكلي ؟ 		
أ) ١٢	ب) ١١	ج) ٦

السؤال الثاني: ضع علامة (√) أمام العبارة الصحيحة وعلامة (×) أمام العبارة غير الصحيحة

١)البيانات التي نحصل عليها من عملية المسح ، يمكن تمثيلها بلوحة إشارات	√
٢) التمثيل بالأعمدة لا يجتاج إلى تدريج	×

٨

السؤال الثالث:أجب عن الأسئلة التالية

أ) أصف احتمال وقوف المؤشر عند كل لون من ألوان القرص واكتب

(أكيد ، أكثر احتمالًا ، أقل احتمالًا ، مستحيل)



أخضر ....أقل احتمالا..... أزرق ...أكثر احتمالا.....

أصفر .....مستحيل..... أزرق أو أحمر أو أخضر .....أكيد.....

ب) أحدد اسم كل مجسم مما يأتي :.



مخروط



إسطوانة



كرة

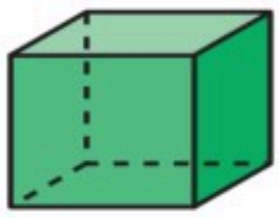

مكعب

انتهت الأسئلة

أأحمد الاحمدي
@ahmad9963

موقع واجباتي

أختار الإجابة الصحيحة بوضع دائرة حول الرمز :

١	الوحدة الأنسب لقياس طول الحشرة :							
	أ	الملمتر	ب	السنتمتر	ج	المتر	د	الكيلومتر
٢	الوحدة الأنسب لقياس طول الكتاب :							
	أ	الملمتر	ب	السنتمتر	ج	المتر	د	الكيلومتر
٣	الوحدة الأنسب لقياس طول النافذة :							
	أ	الملمتر	ب	السنتمتر	ج	المتر	د	الكيلومتر
٤	الوحدة الأنسب لقياس المسافة بين مدينتين :							
	أ	الملمتر	ب	السنتمتر	ج	المتر	د	الكيلومتر
٥	التقدير الأنسب لطول الباب :							
	أ	١ ملم	ب	٣٠ سم	ج	٢ م	د	٣ كلم
٦	الوحدة الأنسب لقياس سعة قطرة العين :							
	أ	المللتر	ب	اللتر	ج	المتر	د	الكيلو متر
٧	الوحدة الأنسب لقياس سعة المسبح :							
	أ	المللتر	ب	اللتر	ج	المتر	د	الكيلو متر
٨	التقدير الأنسب لسعة الملعقة :							
	أ	٢ مل	ب	٢ ل	ج	٣ م	د	٣ كلم
٩	الوحدة الأنسب لكتلة مشبك الورق :							
	أ	الجرام	ب	الكيلو جرام	ج	اللتر	د	المتر
١٠	الوحدة الأنسب لكتلة الطفل :							
	أ	الجرام	ب	الكيلو جرام	ج	اللتر	د	المتر
١١	التقدير الأنسب لكتلة حبة الفراولة :							
	أ	٢ كجم	ب	٢ ل	ج	١ جم	د	١ سم

١٢	اكمال النمط في الشكل المجاورهو: 							
	أ		ب		ج		د	
١٣	صمم شعاروفق النمط الاتي ٥ مثلثات ثم ٣مربعات فكم عدد المضلعات إذا تكرر النمط ٣ مرات ؟							
	أ	٢٠	ب	٢٤	ج	٢٧	د	٣٠
١٤	البيانات التي يمكن تنظيمها باستعمال الرموز تسمى:							
	أ	لوحة الإشارات	ب	التمثيل بالرموز	ج	التمثيل بالأعمدة	د	غير ذلك
١٥	إذا كان كل ■ يمثل شخصين يفضلون عصير البرتقال فما عدد الأشخاص الذين يفضلون عصير البرتقال إذا ظهر الرمز ٤مرات ؟							
	أ	٨	ب	١٠	ج	١٣	د	١٥
١٦	ما عدد محاور التماثل للشكل المجاور؟ 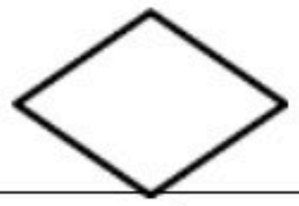							
	أ	لا يوجد	ب	محور واحد	ج	محوران	د	٣ محاور
١٧	مع ريم ٣ قطع سوداء و٤ قطع حمراء فما الكسر الذي يمثل القطع السوداء ؟							
	أ	$\frac{٣}{٧}$	ب	$\frac{٤}{٧}$	ج	$\frac{٦}{٧}$	د	$\frac{٩}{٧}$
١٨	الكسر المكافئ لـ $\frac{٢}{٤}$:							
	أ	$\frac{٤}{٨}$	ب	$\frac{٣}{٤}$	ج	$\frac{٢}{٨}$	د	$\frac{١}{٤}$
١٩	الكسر المكافئ لـ $\frac{٣}{٥}$:							
	أ	$\frac{٣}{١٠}$	ب	$\frac{٦}{٥}$	ج	$\frac{٦}{١٠}$	د	$\frac{١}{٥}$
٢٠	الإشارة الأنسب بين الكسرين : $\frac{٤}{٥}$ ● $\frac{٣}{٥}$							
	أ	>	ب	<	ج	=	د	غير ذلك
٢١	الإشارة الأنسب بين الكسرين : $\frac{٦}{١٠}$ ● $\frac{٤}{١٠}$							
	أ	>	ب	<	ج	=	د	غير ذلك

اجيب عما يلي حسب المطلوب :

١- أوجدي محيط الاشكال التالية :

أ

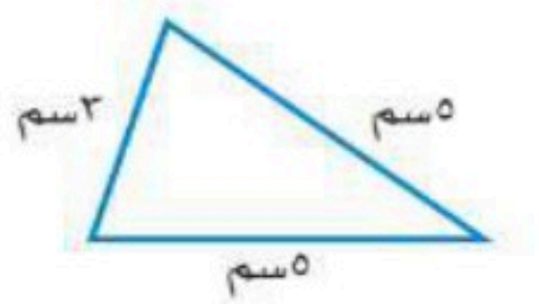

ب

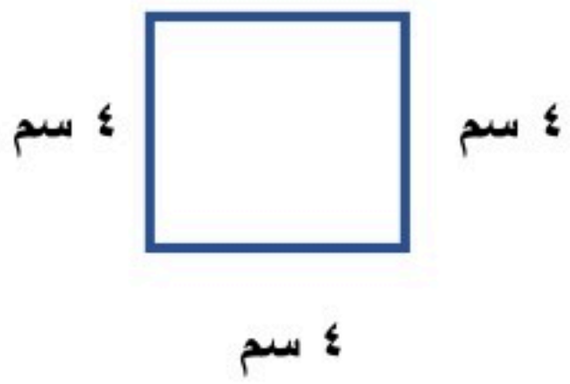

٢- اوجدي حجم المجسمات المجاورة :

أ



.....

ب

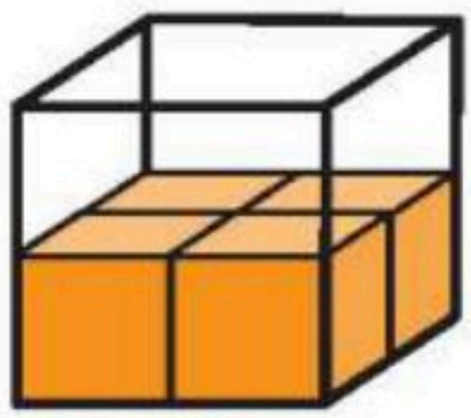

.....

٣- احسبي مساحة كل شكل مما يلي :

أ

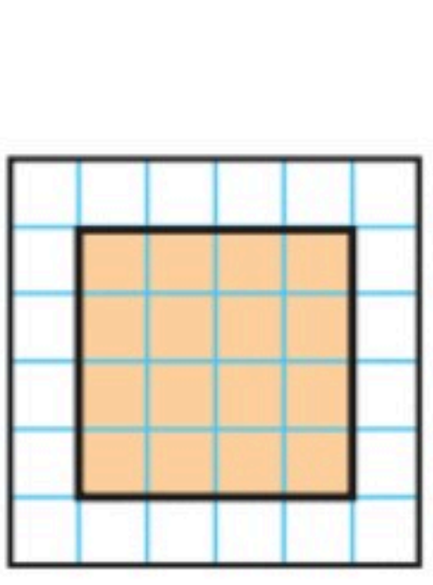

.....

ب

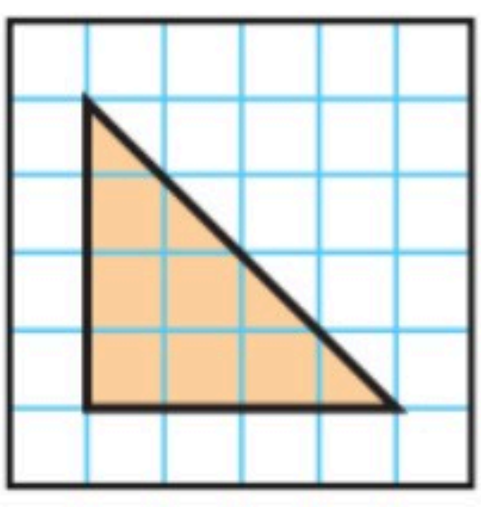

.....

٤ – أكتب الزمن الذي تشير إلية الساعة :

أ



.....

ب



.....

٥- أحدد اسم كل مجسم ثم اصفها :

			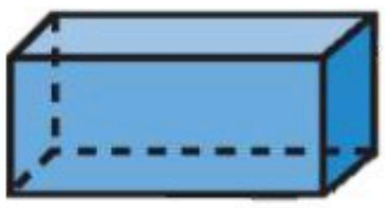
اسم المجسم	اسم المجسم	اسم المجسم	اسم المجسم .....
الوجه = ...	الوجه = ...	الوجه=	الوجه = ...
الحرف =.....	الحرف = ...	الحرف = ...	الحرف = ...
الرأس = ...	الرأس = ...	الرأس = ...	الرأس = ...

٦ - أسمي الاشكال المستوية التالية :

أ- مضلع له ٣ أضلاع و٣ زوايا : .....

ب- مضلع له ٦ أضلاع و ٦ زوايا : .....

٧- اصف احتمال اختيار كل لون مما يلي :



أ- أصفر: .....

ب- أحمر: .....

ج- أسود : .....

اجيب عن الأسئلة التالية باستعمال التمثيل المجاور:



١- كم عدد صفحات كتاب الرياضيات ؟

.....

٢- كم يزيد عدد صفحات كتاب العلوم على عدد صفحات كتاب لغتي ؟

.....

٣- ما هي الكتب التي لها نفس عدد الصفحات؟

.....

.....

الواجبات الأسبوعية	
أحمد	● ●
محمد	◗ ●
فهد	●
المفتاح : ● = واجبين	

٤- كم عدد واجبات فهد ؟

.....

٥- كم يزيد عدد واجبات أحمد عن واجبات محمد ؟

.....

٦- اكتب الكسر الذي يمثل الجزء المظلل :

