تم تحميل وعرض المادة من :

موقع واجباتي

www.wajibati.net

موقع واجباتي منصة تعليمية تساهم بنشر
حل المناهج الدراسية بشكل متميز لترتقي بمجال التعليم
على الإنترنت ويستطيع الطلاب تصفح حلول الكتب مباشرة
لجميع المراحل التعليمية المختلفة

GET IT ON Google Play

Download on the App Store

حمل التطبيق من هنا

وزارة التعليم
Ministry of Education

أسئلة شاملة لمادة الدراسات الاجتماعية

الصف الخامس ـ الفصل الدراسي الثالث لعام ١٤٤٦هـ

الوحدة السادسة (الخرائط والسكان)

س١ في الفقرات من (١) إلى (٩) اختاري البديل الصحيح وأحيطيه بدائرة:

١- (رسم توضيحي مصغر لسطح الأرض أو لجزء منه يوضح الظواهر الطبيعية والظواهر البشرية) هو تفسير مصطلح -------			
أ- الجغرافيا الجيولوجية	ب- علم التكنولوجيا	ج- الخريطة	د- الجغرافيا
٢- عَرف الإنسان الخريطة قبل معرفته لـ....			
أ- الكتابة	ب- القراءة	ج- الرسم	د- التطور
٣- يمكن تحديث الخرائط ------- بسهولة .			
أ- الطبوغرافية	ب- الورقية	ج- الرقمية	د- الجيولوجية
٤- يتصف توزيع السكان في العالم بأنه.....			
أ- كثيفًا	ب- منتظمًا	ج – ليس منتظماً	د- متفرقًا
٥- تنخفض الكثافة السكانية في			
أ- الجبال الوعرة	ب- العواصم	ج- المدن الساحلية	د- مناطق المناخ المعتدل
٦- القارة التي يرتفع توزيع السكان فيها عن بقية القارات هي قارة			
أ- امريكا الشمالية	ب- استراليا	ج- آسيا	د- إفريقيا
٧- العوامل الطبيعية المؤثرة في توزيع السكان في العالم متعددة ومنها			
أ- الزراعة	ب- السياحة	ج- التضاريس	د- الصناعة
٨- (الأعمال والمجهودات التي يؤديها الإنسان لتلبية احتياجاته الأساسية) هو تفسير مفهوم			
أ- الموارد الطبيعية	ب- النشاط الاقتصادي	ج- الصناعة	د- الزراعة
٩ – تزداد الكثافة السكانية في المناطق ذات المناخ			
أ- المعتدل	ب- الصحراوي	ج- البارد جداً	د- الجاف

يتبع

س٢/ ضعي علامة صح أو خطأ أمام العبارات التالية :

١) يتوزع السكان في العالم بشكل منتظم . ( )

٢) يقل عدد السكان في المناطق الساحلية . ( )

٣) مناطق الغابات المزدحمة بالأشجار يزداد عدد السكان فيها. ( )

٤) أول من أنشأ خريطة عالمية صحيحة هو العالم المسلم محمد الإدريسي. ( )

٥) استعمال الخرائط الورقية أسهل من الخرائط الرقمية . ( )

٦) الخرائط الرقمية يمكن تحديثها بسهولة . ( )

٧) تُعد المياه عاملاً أساسيا في توزيع السكان . ( )

٨) أسباب ارتفاع الكثافة السكانية بالقرب من السواحل البحرية الزراعة وصيد السمك . ( )

٩) تزداد الكثافة السكانية في الصحاري الحارة . ( )

١٠) تتنوع المحاصيل الزراعية في المناطق المعتدلة . ( )

١١) النزاعات والحروب تعد من أهم العوامل البشرية المؤثرة في توزيع السكان. ( )

١٢) تتولى هيئة المساحة الجيولوجية إنتاج خرائط طبقات الأرض . ( )

١٣) تتولى الهيئة العامة للمساحة والمعلومات الجيومكانية إنتاج الخرائط الورقية في المملكة. ( )

١٤) خريطة وطني تركز في المعلومات والبيانات الجغرافية خارج المملكة العربية السعودية فقط . ( )

١٥) يتركز سكان العالم في النصف الجنوبي من الكرة الأرضية. ( )

١٦) يكثر السكان في أعالي الجبال الشاهقة . ( )

١٧) تقل الكثافة السكانية في السواحل البحرية . ( )

١٨) يزداد عدد السكان في الصحاري . ( )

١٩) يفضل السكان العيش في مناطق الأنهار والتي تكثر فيها الأمطار . ( )

٢٠) يقل السكان في قارة استراليا. ( )

س٣/ عرفي كلا من :

١- الخريطة :

_____.

٢- الموارد الطبيعية:

_____.

_____.

٣- النشاط الاقتصادي:

_____.

٣- النشاط الصناعي :

_____.

س٤/املئي الفراغات التالية بما يناسبها :

١- يقصد بالخريطة .....
٢- من العوامل المؤثرة في توزيع السكان في العالم
.....و.....
٣- تنقسم العوامل الطبيعية إلى
.....و.....و.....و.....
.....
٤- تنقسم العوامل البشرية إلى .....و.....
٥- تنقسم مصادر المياه إلى قسمين .....و.....
٦- للموارد الطبيعة نوعان هما .....و.....
٧- من أنواع النشاط الاقتصادي
.....و.....و.....
٨- الموارد الطبيعية المتجددة مثل .....و.....و.....
٩- الموارد الطبيعية غير المتجددة مثل
.....و.....و.....
١٠- أنواع النشاط الاقتصادي
.....و.....و.....

١١- من مصادر المياه العذبة .....و.....و..... .

١٢- من مصادر المياه المالحة .....و.....و..... .

١٣- يقل السكان في قارة ----------ويكثر السكان في قارة ----------.

س ٥/ علل لما يأتي :

١- نقش الإنسان قديمًا الخرائط على ألواح الطين والخشب وجلود الحيوانات ؟

.....

٢- أصبحت الخرائط أكثر دقة من الخرائط القديمة ؟

.....

٣- العناية بتوزيع السكان في العالم ؟

.....

٤- انخفاض الكثافة السكانية في المناطق الصحراوية ؟

.....

٥- ارتفاع الكثافة السكانية في المناطق ذات الموارد الطبيعية؟

.....

س ٦/ عددي ما يلي :

١- العوامل المؤثرة في توزيع السكان في العالم ؟

٢- مصادر المياه؟

٣-أقسام الموارد الطبيعية ؟

٤-أنواع النشاط الاقتصادي؟

٥- أسباب ارتفاع كثافة السكان في السهول ؟

٦- أسباب انخفاض كثافة السكان في الجبال والمرتفعات الشاهقة ؟

س٧/ حددي النشاط الذي تنتمي إليه الصور التالية :



.....



.....



.....

س٨ / من خلال الصور التي أمامك ماهي المناطق التي يكثر عدد السكان فيها ؟



.....



.....



.....

وفقكن الله

الوحدة السابعة : الموارد الاقتصادية

س١: اختاري الإجابة الصحيحة مما يأتي :

١- تسمى (المياه التي تعلو سطح الأرض ولا تحتاج إلى جهد لاستخراجها) المياه			
أ- السطحية	ب- الجوفية	ج- المحلاة	د- المعالجة
٢- تسمى (المياه التي تخزنت في باطن الأرض وتحتاج إلى جهد لاستخراجها).....			
أ- المياه الجوفية	ب-مياه الصرف الصحي	ج- المياه المعالجة	د- مياه العيون
٣- يقع وطني المملكة العربية السعودية ضمن المنطقة التي يتسم مناخها بـأنه.....			
أ- بارد	ب- جاف	ج- معتدل	د- حار
٤- تُستعمل مياه الصرف الصحي المُعالجة في			
أ- ري المنتزهات	ب – الشرب	ج- ري المباني	د- السباحة
٥- من طرق المحافظة على الثروة المائية			
أ- عدم الاهتمام بها	ب-الاقتصاد في استهلاكها	ج- رمي النفايات بها	د- الإسراف في استهلاكها
٦- من أنواع النباتات الطبيعية في وطني			
أ- النباتات المعمرة	ب- النباتات الموسمية	ج- الثمام	د- السمح
٧- من العوامل المؤثرة في نمو النبات الطبيعي ...			
أ- المناخ والتربة	ب- الجفاف	ج- الرطوبة	د- البرودة
٨- يعد أهم مورد في وطني المملكة العربية السعودية ويحتل المركز الثاني عالمياً هو			
أ- المعادن	ب- الثروة الحيوانية	ج- النفط	د- المياه
٩ـ قامت وزارة الصناعة والثروة المعدنية بالكشف والتنقيب عن			
أ- النبات الطبيعي	ب- المياه السطحية	ج- الآبار	د- المعادن

س٢/ ضعي علامة صح أو خطأ أمام العبارات التالية :

١) لقلة المياه الجوفية والسطحية في وطني جاء التفكير في معالجة مياه الصرف الصحي. ( )

٢) يقع وطني المملكة العربية السعودية ضمن المناخ البارد . ( )

٣) تأتي المملكة العربية السعودية في المركز الأخير عالمياً في احتياطي النفط. ( )

٤) قلة المياه في وطني تعد من المشكلات الوطنية. ( )

٥) تسعى الدولة إلى تنمية الثروة الحيوانية لكي تحقق الاكتفاء الذاتي لكيلا تستورد من الخارج . ( )

٦) من الأسباب التي أدت إلى إنشاء محطات ضخمة لتحلية المياه هو قلة المياه. ( )

٧) من أنواع النباتات الطبيعية في وطني النباتات الحولية (الموسمية). ( )

٨) تعد الثروة الحيوانية من الموارد الاقتصادية الغير مهمة في وطني . ( )

٩) يتميز وطني بوجود أصغر مزراع للأبقار في العالم . ( )

١٠) يتميز وطني بكثرة الثروة الحيوانية . ( )

س٣/ صلي العامود أ بما يناسبه من العامود ب :

أ	ب
الطلح – الزيتون البري	بيئة السهول
الأرطى – الأثل	بيئة الرمال
الدوم - العرفج	بيئة الجبال
	بيئة الأودية

س٤/ املئي الفراغات التالية بما يناسبها :

١-من موارد المياه في وطني .....و.....و..... .

٢-العوامل المؤثرة في نمو النبات الطبيعي .....و.....و..... .

٢- من أهم المعادن في وطني .....و.....و.....و..... .

٣- أكبر حقل نفطي بري في العالم هو حقل ..... .

٤- أكبر حقل نفطي بحري في العالم هو حقل ..... .

٥- اللحوم ومشتقات الحليب تعد مصدراً..... .

٦- الصوف والجلود تعد مصدراً ..... .

س ٥/ علل لما يأتي :

١- تنوع النبات الطبيعي في وطني المملكة العربية السعودية ؟

.....

٢- اهتمام المملكة العربية السعودية بالثروة الحيوانية ؟

.....

س ٦/ عددي ما يلي :

١- طرق المحافظة على الثروة المائية ؟

٢-أسباب قلة الثروة الحيوانية في وطني ؟

٣-أساليب تنمية الثروة الحيوانية ؟

٤- عددي المراحل التي تمر بها صناعة النفط ؟

س٧/ ضعي اسما مناسباً للصور التالية :



.....



.....



.....



.....



.....

وفقكن الله

بنك الأسئلة لمادة الدراسات الاجتماعية

للصف الخامس -عام ١٤٤٦هـ - الوحدة الثامنة (الأنشطة الاقتصادية)

س١: اختاري الإجابة الصحيحة مما يأتي :

١- (تحويل المادة الخام الأولية إلى منتج أكثر فائدة للإنسان) يقصد به.....			
أ- التجارة	ب- الصناعة	ج- الزراعة	د- الرعي
٢- قبل اكتشاف النفط كانت الزراعة تأتي في الصدارة بين :			
أ- الأنشطة الاجتماعية	ب- الأنشطة السياسية	ج- الأنشطة السكانية	د- الأنشطة الاقتصادية
٣- (حركة بيع وشراء لمختلف أنواع السلع المستوردة والمحلية) تسمى النشاط :			
أ- الزراعي	ب- الصناعي	ج- الرعي	د-التجاري
٤- من أهم صادرات وطني المملكة العربية السعودية :			
أ- النفط	ب- المواد الغذائية	ج- وسائل النقل	د- الآلات
٥-الفرق بين قيمة صادرات الدولة وقيمة وارداتها هو :			
أ- الميزان الزراعي	ب- الميزان الصناعي	ج – الميزان التجاري	د- الميزان السياسي
٦-من وسائل تحسين بيئة الإنتاج الحيواني في وطني :			
أ- عدم سقي الحيوانات	ب- التنقل بالحيوانات	ج- ذبح الحيوانات	د- الرعي التجاري

س ٢/ ضعي علامة صح أو خطأ أمام العبارات التالية :

١. تحرص حكومة وطني أن تكون قيمة الصادرات أعلى من قيمة الواردات . ( )
٢. كانت الزراعة في صدارة الأنشطة الاقتصادية للسكان قبل اكتشاف النفط . ( )
٣. تراجعت حرفة الرعي بسبب تدهور المراعي الطبيعية . ( )
٤. التجارة الخارجية هي بيع السلع والبضائع داخل الوطن . ( )
٥. من أهم الخدمات في وطني أنشطة التعليم . ( )
٦. من عوامل نجاح الزراعة توفير الآلات الزراعية المتطورة . ( )
٧. للبيئة تأثير في تحديد نوع النشاط الذي يمارسه السكان . ( )
٨. ارتفع عدد السكان الذين يعملون بالزراعة بعد ظهور الزراعة الحديثة . ( )

س٣ : تأملي الصور التالية ثم أجيبي :

(١)



يحرص وطني المملكة العربية السعودية على تحسين بيئة الإنتاج الحيواني وفق الشروط البيطرية والصحية من خلال الرَّعْي التجاري الذي تقوم به الشركات الزراعية.

أ- أيٌّ من الصورتَين تُمَثِّل النَّمَطَ التقليديَّ لتربية الحيوانات؟

.....

ب- أيُّ النَّمَطَين يعطي إنتاجاً وافراً؟

.....

(٢)



أ- أيٌّ من الصورتين تمثل النَّمَطَ التقليديَّ للصناعة؟

.....

بـ أيُّ النَّمَطَين يعطي إنتاجاً وافراً؟

.....

جـ أيُّ النَّمَطَين أفضل؟ ولماذا؟

.....

س ٤/ أكملي الجمل التالية بما يناسبها :

١- من عوامل نجاح الزراعة : .....
٢- من الأنشطة الاقتصادية التي يمارسها الإنسان في وطني : .....
٣- من أهم واردات وطني : .....
٤- من أهم المحاصيل الزراعية في وطني : .....

س ٥/اذكري مثالين لكل مما يأتي :

أ- مقومات الصناعة .

.....

ب- أنواع التجارة .

.....

ج- فوائد الصناعة .

.....

س٦: عللي ما يأتي :

١- عناية وطني بالزراعة ؟

.....

س٧/ اربطي بين المادة الخام في القائمة (أ) وما يناسبها من المنتج الصناعي من القائمة (ب):

أ المادة الخام	ب المنتَج الصناعي
١- الأسماك	☐ الحقائب المدرسية
٢- النُّحاس	☐ التُّوْنة
٣- الجُلود	☐ أواني الطبخ
٤- الحليب	☐ الآيس كريم
	☐ الدهانات